I.E. Nº 1124
JOSÉ MARTÍ

TRANSFORMACIONES GEOMETRICAS

UGEL 03
LA VICTORIA

FULLNAME: .....

COMPETENCIA: RESUELVE PROBLEMAS DE FORMA MOVIMIENTO Y LOCALIZACIÓN

Observa la imagen del cuadrilátero ABCD y encuentra el vector de traslación (T)

A) T = (4 ; 6)

B) T = (3 ; 5)

C) T = (5 ; 3)

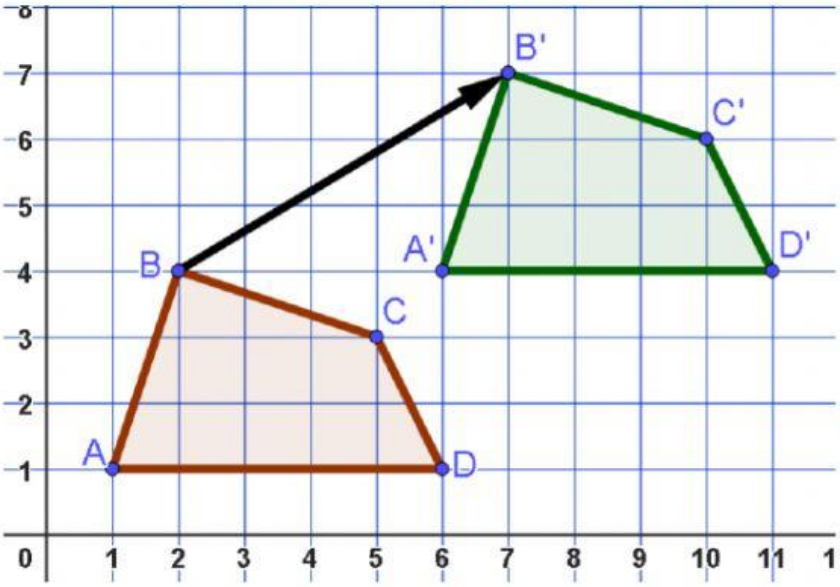

Observa la imagen del cuadrilátero ABCD y encuentra el vector de traslación (T)

A) T = (-4 ; -3)

B) T = (-3 ; -4)

C) T = (-5 ; -3)

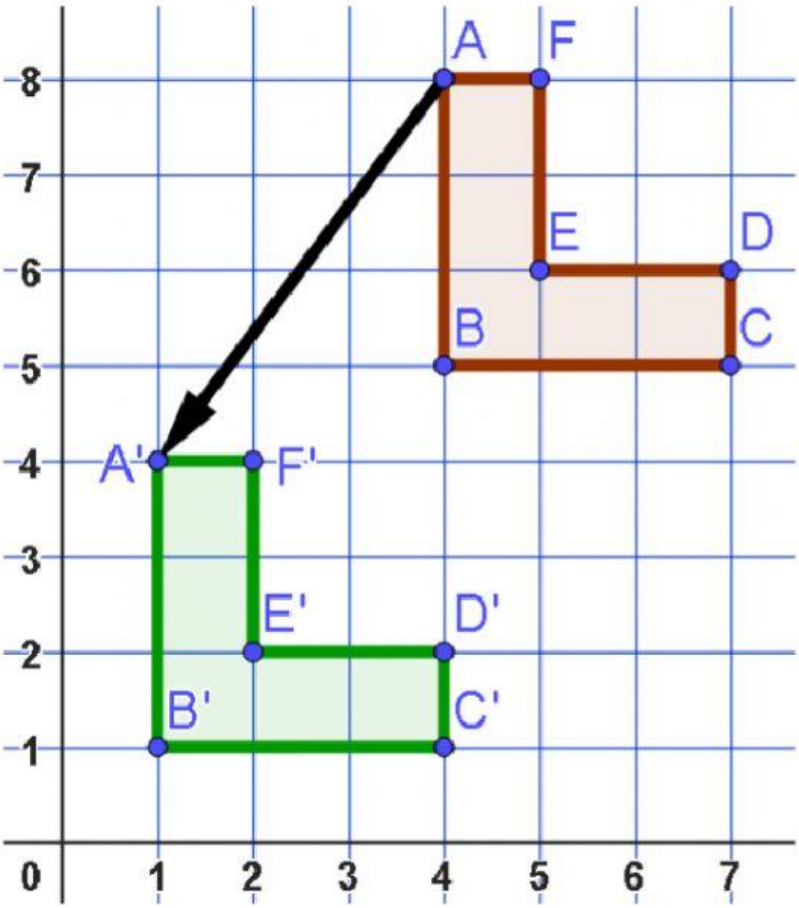

LIVEWORKSHEETS

Observa la imagen del cuadrilátero ABCD y encuentra el vector de traslación (T)

A) T = (4 ; 6)

B) T = (3 ; 4)

C) T = (4 ; 3)

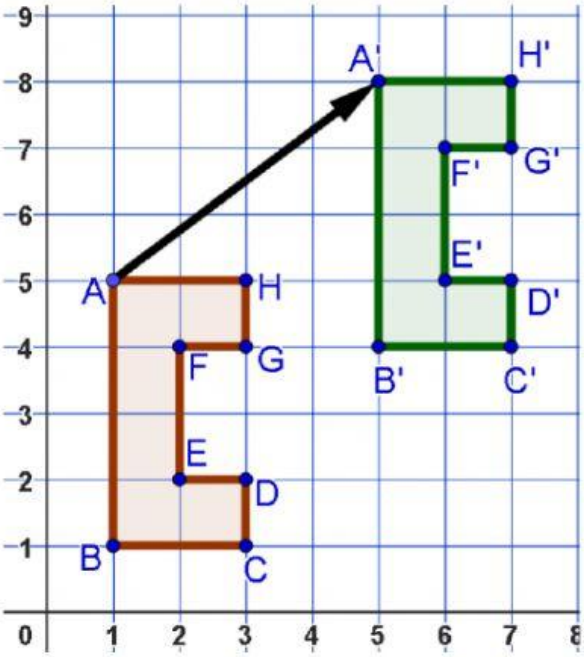

Observa la imagen del cuadrilátero ABCD y encuentra el vector de traslación (T)

A) T = (-4 ; -6)

B) T = (-2 ; -4)

C) T = (-4 ; -2)

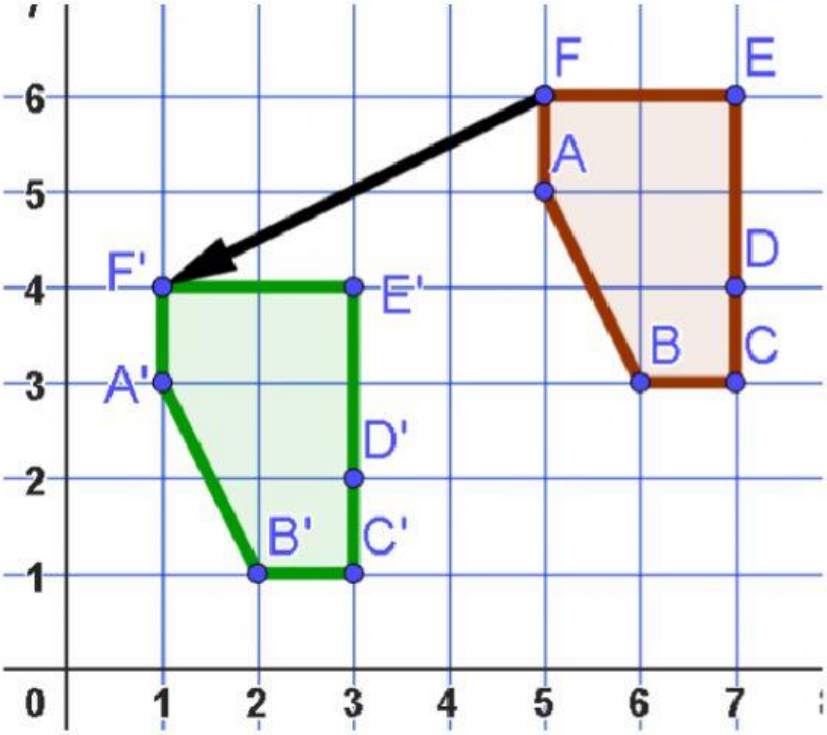

LIVEWORKSHEETS