NAMA:

PILIH JAWAPAN YANG BETUL.

1. Rajah 7 menunjukkan susunan bongkah-bongkah.

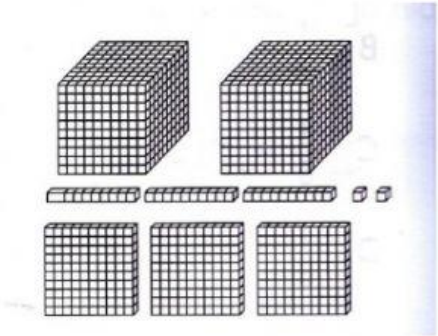

Rajah 7

Hitung bilangan bongkah kesemuanya.

A 2 332 C 2 223
B 2 233 D 2 220

2. Rajah 8 menunjukkan dekak-dekak.

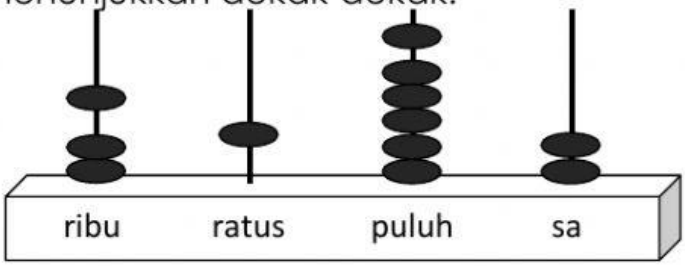

Rajah 8

Jika nilai pada dekak – dekak ini ditambah dengan 5 670, apakah nombor baharu yang akan terhasil?

A 8 820 C 8 832
B 7 052 D 7 830

3. Nilai digit 2 dalam nombor 8 021 ialah

A 2 000 C 20
B 200 D 2

LIVEWORKSHEETS

4. Bundarkan 1 734 kepada puluh terdekat.

A 1 700 C 1 730
B 1 740 D 1 735

5. Rajah 9 menunjukkan garis nombor.

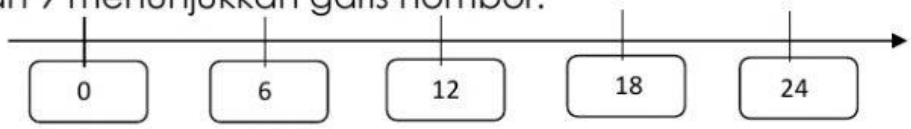

Rajah 9

Ayat matematik yang diwakili oleh garis nombor di atas ialah

A 1 x 6 = 6 C 2 x 6 = 12
B 3 x 6 = 18 D 4 x 6 = 24

6. Siti ada 56 biji kek cawan.
Dia berkongsi sama banyak kek cawan itu dengan 7 orang kawannya.
Kirakan kek cawan yang diperolehi oleh setiap orang.

A 8 C 392
B 7 D 448

7. En Ammar membeli 82 biji epal dan 56 biji oren.
Hitung jumlah buah-buahan yang dibeli oleh Ammar.

A 120 C 130
B 128 D 138

8. Yee Sheng membeli 78 biji epal.
Dia memasukkan epal itu secara sama banyak ke dalam 6 buah beg plastik.
Hitung bilangan epal dalam setiap beg plastik?

A 13 C 15
B 14 D 16

9. Mila dan Nina menjual tiket pertunjukkan amal.
Mila menjual 2 950 keping tiket.
Nina pula menjual 1 021 keping tiket lebih daripada Mila.
Berapakah bilangan tiket yang dijual oleh Nina?

A 3 971 C 3 330
B 3 970 D 3 931

LIVEWORKSHEETS

10. Apakah nombor – nombor yang boleh ditambahkan untuk menghasilkan jawapan 8 500?

A 7 500 + 400

B 8 001 + 498

C 8 450 + 49

D 8 001 + 499

LIVEWORKSHEETS