NAMA :

PILIH JAWAPAN YANG BETUL.

1. 825 tulis dalam bentuk perkataan ialah
   A Lapan ratus
   B Lapan ratus dua puluh lima
   C Lapan ratus dua puluh
   D Lapan ribu dua ratus lima puluh

2. *Enam ribu enam belas* ditulis dalam bentuk angka ialah
   A 6 160 C 6 016
   B 6 066 D 6 666

3. Rajah 1 menunjukkan sebuah dekak-dekak.

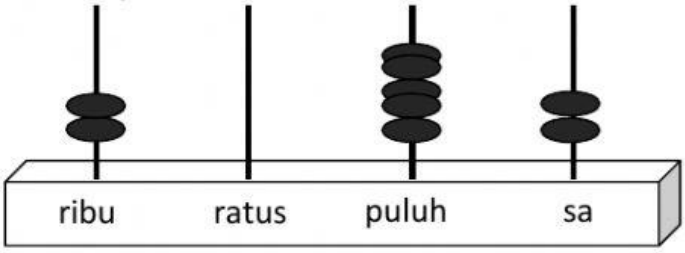

Rajah 1

Nombor yang diwakili oleh dekak – dekak ialah
   A 2 052 C 5 025
   B 2 250 D 2 062

4. Berapakah hasil tambah 5 sa dengan 2 ratus?
   A 205 C 250
   B 255 D 2 052

5. Rajah 2 menunjukkan satu garis nombor.

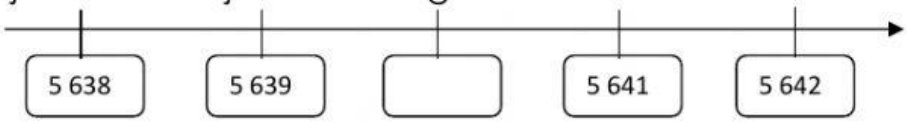

Rajah 2

Apakah nombor yang tertinggal?
   A 205 C 250
   B 255 D 2 052

LIVEWORKSHEETS

6. Berapakah hasil tolak 8 ratus dengan 4 puluh?

A 4 C 760
B 40 D 200

7. Rajah 3 menunjukkan garis nombor.

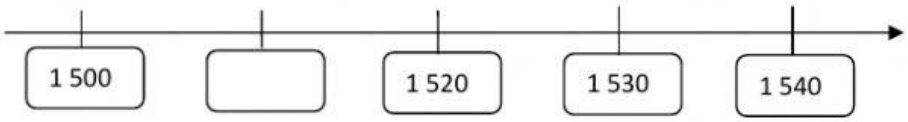

Rajah 3

Apakah nombor yang perlu diisi pada petak kosong di atas?

A 1 500 C 1 511
B 1 510 D 1 515

8. Berapakah hasil darab 8 dengan 3?

A 11 C 16
B 24 D 321

9. Rajah 4 terdiri daripada kad nombor.



Rajah 4

Hitung jumlah dua nombor yang terbesar?

A 3 180 C 2 848
B 2 824 D 4 426

10. Apakah nilai tempat bagi digit 2 dalam 3 247?

A sa C ratus
B puluh D ribu

LIVEWORKSHEETS