18. พิจารณาโปรแกรมต่อไปนี้

ผลลัพธ์ของโปรแกรมที่กำหนดคือภาพใด

1. 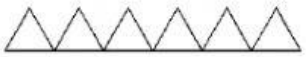

2.

3.

4.

19. คำสั่ง สั่งให้ตัวละคร เดินขวา 30 ก้าว เล่นเสียงแมว แล้วพูดคำว่า สวัสดี เป็นเวลา 2 วินาที ตรงกับบล็อกคำสั่งในข้อใด

1.

2.

3.

4.

LIVEWORKSHEETS

20. จากภาพ Script A และ B มีเงื่อนไขการทำงานต่างกันอย่างไร

Script A

Script B

1. Script A ทำซ้ำตามจำนวนรอบที่กำหนด
   Script B ทำซ้ำจนกระทั่งมีเงื่อนไขสั่งให้หยุด
2. Script A ทำซ้ำจนกระทั่งมีเงื่อนไขสั่งให้หยุด
   Script B ทำซ้ำตามจำนวนรอบที่กำหนด
3. Script A ทำซ้ำแบบไม่มีที่สิ้นสุด
   Script B ทำซ้ำจนกระทั่งมีเงื่อนไขสั่งให้หยุด
4. Script A ทำซ้ำจนกระทั่งมีเงื่อนไขสั่งให้หยุด

21. เพราะเหตุใดจึงต้องมีการออกแบบโปรแกรม ก่อนการเขียนโปรแกรม Scratch

1. อธิบายข้อผิดพลาดของโปรแกรมที่เกิดขึ้น
2. อธิบายวิธีการใช้งานโปรแกรม Scratch ให้กับผู้ใช้งาน
3. อธิบายขั้นตอนการใช้งานโปรแกรม Scratch ให้กับผู้ใช้งาน
4. อธิบายขั้นตอนการทำงานของโปรแกรมเพื่อให้การเขียนโปรแกรมได้ง่ายขึ้น

การใช้อินเทอร์เน็ตค้นหาความรู้

22. ข้อใดบอกความหมายของอินเทอร์เน็ตได้ถูกต้อง

1. เครือข่ายคอมพิวเตอร์ที่เชื่อมต่อกันระหว่างประเทศเท่านั้น
2. เครือข่ายคอมพิวเตอร์ที่เชื่อมต่อกันระหว่างองค์กรกับองค์กร
3. เครือข่ายคอมพิวเตอร์ขนาดเล็กที่สุดในเครือข่ายคอมพิวเตอร์
4. เครือข่ายขนาดใหญ่ที่เชื่อมโยงคอมพิวเตอร์จำนวนมากจากทั่วโลก

LIVEWORKSHEETS

23. เว็บเสิร์ชเอ็นจิน (Search Engine) หมายถึงข้อใด

1. การค้นหาข้อมูลความรู้ผ่านเว็บไซต์ในอินเทอร์เน็ตโดยใช้ซอฟต์แวร์ค้นผ่านเว็บ และจะต้องพิมพ์คำค้น (Keyword)
2. การค้นหาข้อมูล โดยการคลิกเลือกข้อมูลที่ต้องการ จะดูในเว็บเบราว์เซอร์ (Web Browser)
3. การสืบค้นข้อมูลเป็นเอกสารไฮเปอร์ลิงก์ที่สร้างด้วยภาษาเอชทีเอ็มแอล (HTML)
4. การถ่ายโอนแฟ้มข้อมูลข่าวสาร บทความจาก เครื่องคอมพิวเตอร์เครื่องหนึ่งไปสู่อีกเครื่องหนึ่ง

24. เอ็มต้องการข้อมูลจากเว็บไซต์ทางการศึกษาควรเลือกเว็บไซต์ที่มีโดเมนชื่อใด

1. .go.th
2. .co.th
3. .ac.th
4. .or.th

25. ข้อใดเป็นองค์ประกอบของระบบสารสนเทศ

1. บุคลากร ข้อมูล กระบวนการ ภาพ คู่มือ
2. ฮาร์ดแวร์ ซอฟแวร์ บุคลากร ข้อมูล
3. ฮาร์ดแวร์ ซอฟแวร์ เครื่องคอมพิวเตอร์ ข้อมูล บุคลากร
4. ฮาร์ดแวร์ ซอฟแวร์ บุคลากร ข้อมูล กระบวนการ

26. ข้อใดไม่เป็นการประเมินความน่าเชื่อถือของข้อมูล

1. ผึ้งพิจารณาชื่อโดเมนว่ามาจากหน่วยงานใด
2. นัทตรวจสอบข้อมูลว่ามีความทันสมัยหรือไม่
3. ปลื้มพิจารณาว่าข้อมูลมีการอ้างอิงแหล่งที่มาหรือไม่
4. บอลตรวจสอบรูปภาพที่ใช้ประกอบข้อมูลว่ามีความสวยงามหรือไม่

27. ข้อใดกล่าว <u>ไม่ถูกต้อง</u> เกี่ยวกับซอฟต์แวร์

1. ซอฟต์แวร์เป็นสิ่งที่จับต้องได้
2. ซอฟต์แวร์แบ่งออกเป็น 2 ประเภท
3. ซอฟต์แวร์เราสามารถรับรู้การทำงานของมันได้
4. ซอฟแวร์คือ ชุดคำสั่งที่ใช้สั่งเครื่องคอมพิวเตอร์ให้ทำงาน

LIVEWORKSHEETS

28. บุคคลในข้อใดใช้ข้อมูลสารสนเทศไม่ถูกต้อง

1. ต้อมเผยแพร่ข้อมูลการตอนกิ่งผ่านบล็อกของตนเอง
2. ชัยดูวิดีโอสารคดีชีวิตสัตว์ป่าจาก www. youtube.com ช่องสารคดีสัตว์โลก
3. พลอยเปรียบเทียบราคาของเล่นของร้านค้าออนไลน์แต่ละร้าน ก่อนตัดสินใจซื้อจากร้านที่ราคาถูกที่สุด
4. มนต์สืบค้นและนำข้อมูลที่เผยแพร่บนอินเทอร์เน็ต โดยไม่มีการระบุที่มาเพื่อทำรายงานส่งคุณครู

29. เมื่อใส่คำค้นหา "การใส่หน้ากากอนามัย" ลงในโปรแกรมค้นหาหนึ่ง ได้ผลดังภาพ ถ้าต้องการค้นหาวิธีการสวมหน้ากากอนามัยที่ถูกวิธี เพื่อประกอบการทำรายงานข้อมูลจากเว็บไซต์ หมายเลขใดที่ไม่ควรนำมาใช้อ้างอิง

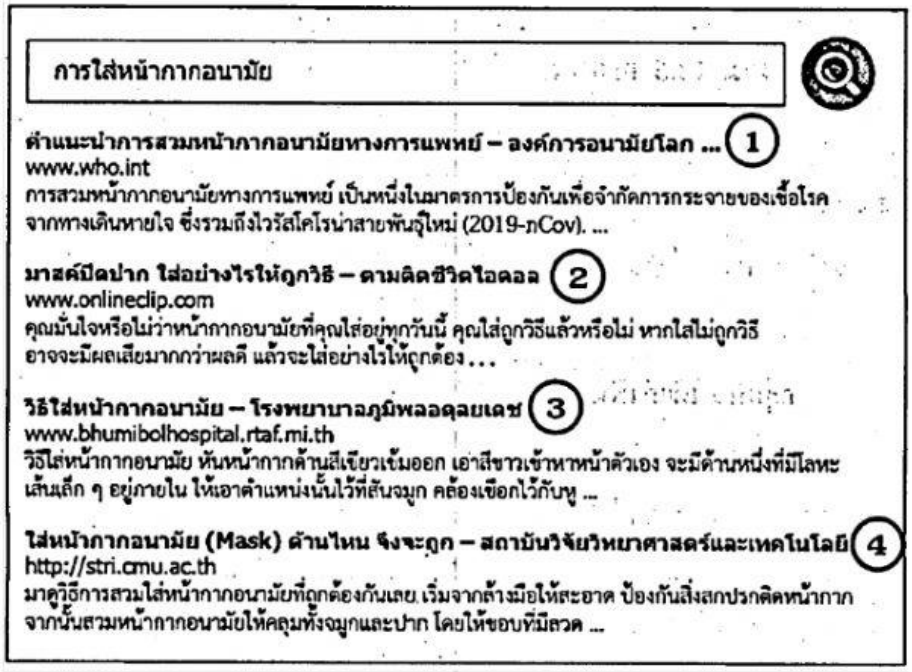

1. เว็บไซต์หมายเลข 1
2. เว็บไซต์หมายเลข 2
3. เว็บไซต์หมายเลข 3
4. เว็บไซต์หมายเลข 4

30. การกระทำของบุคคลใดที่อาจทำให้ได้ข้อมูลที่ไม่น่าเชื่อถือ

1. ปลาค้นหาข้อมูลโดยเลือกเว็บไซต์ที่มีการอ้างอิงแหล่งที่มา
2. ปูหาข้อมูลหลายๆ เว็บไซต์ แล้วนำข้อมูลมาเปรียบเทียบกัน
3. เสือหาข้อมูลจากบล็อกที่มีนักศึกษาเขียนความคิดเห็นส่วนตัวไว้
4. กุ้งตรวจสอบวันที่เผยแพร่ข้อมูลทุกครั้งเพื่อให้ได้ข้อมูลที่ทันสมัย

LIVEWORKSHEETS

31. นิวได้รับอีเมลส่งต่อ ๆ กันมาจากเพื่อนสนิท ดังนี้

"มีงานวิจัยจากมหาวิทยาลัยแห่งหนึ่ง ค้นพบว่าพืชกระท่อมสามารถยับยั้งและทำลายเชื้อโควิด 19 ได้ภายในเวลา 0.05 วินาที หลังจากรับประทาน"

พิจารณาว่าข้อมูลนี้มีความน่าเชื่อถือหรือไม่ เพราะเหตุใด

1. น่าเชื่อถือ เพราะมาจากเพื่อนเป็นคนส่งต่อให้
2. ไม่น่าเชื่อถือ เพราะเป็นข้อมูลทางวิทยาศาสตร์
3. น่าเชื่อถือ เพราะมาจากการเผยแพร่บนอินเทอร์เน็ต
4. ไม่น่าเชื่อถือ เพราะไม่ระบุชื่อผู้ให้ข้อมูลและไม่อ้างอิงแหล่งที่มา

32. กำหนดให้นักเรียนค้นหาไฟล์ pdf ที่เกี่ยวกับสถานการณ์วิกฤตโควิด-19 จากเว็บไซต์หน่วยงานภาครัฐในช่วงเดือนพฤศจิกายน พ.ศ. 2563

จงวิเคราะห์ว่าผลลัพธ์ที่แสดงบนหน้าจอด้านล่างจากการค้นหาในอินเทอร์เน็ตเกิดจากการค้นหาด้วยวิธีการตามข้อใด

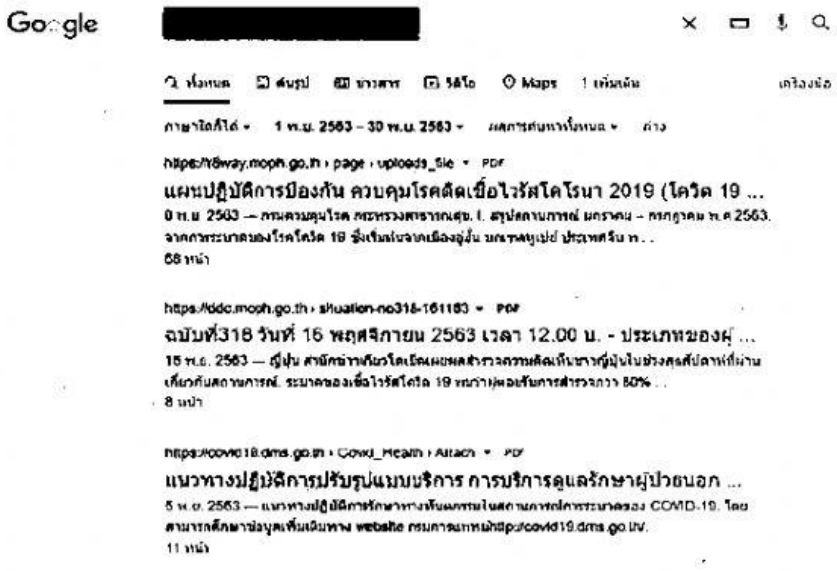

1. ระบุค้นว่า "โควิด - 19 2563 site:go.th"
2. ระบุคำค้นว่า "โควิด - 19 site:go.th filetype:pdf"
3. ระบุคำว่า "โควิด - 19 filetype:pdf" และ กำหนดช่วงเวลาเป็น 1 พ.ย. 2563 – 30 พ.ย. 2563
4. ระบุคำค้นว่า "โควิด – 19 site:go.th filetype:pdf" และ กำหนดช่วงเวลาเป็น 1 พ.ย. 2563 – 30 พ.ย. 2563

LIVEWORKSHEETS

การใช้เทคโนโลยีสารสนเทศอย่างปลอดภัย

33. การใช้เทคโนโลยีสารสนเทศของบุคคลใดที่สามารถทำให้เกิดภัยจากโลกออนไลน์ได้

1. ดาอ่านเงื่อนไขข้อตกลงในการสมัครสมาชิกอย่างละเอียด
2. อุ้มโพสต์รูปภาพหน้าบัญชีธนาคารลงบน Facebook ของตนเอง
3. จำหลีกเลี่ยงการโต้ตอบกับบุคคลที่ทำให้ตนเองรู้สึกไม่สบายใจ
4. แก้มตรวจสอบเว็บไซต์และรีวิวของสินค้าก่อนสั่งซื้อสินค้าออนไลน์

34. ข้อใดไม่ใช่อาชญากรรมทางอินเทอร์เน็ต

1. ดูรหัสผ่านเข้าเครื่องคอมพิวเตอร์ของเพื่อนที่นั่งข้างๆ
2. โพสต์เตือนภัยเว็บไซต์ที่หลอกลวงเอาข้อมูลทางการเงิน
3. ใส่ลายน้ำเป็นชื่อของตนเองลงในภาพวาดที่ดาวน์โหลดมา
4. นำไฟล์เอกสารส่วนตัวของคนรู้จักไปเผยแพร่ทางออนไลน์

35. ใครมีมารยาทในการติดต่อสื่อสารผ่านอินเทอร์เน็ต

1. แอมส่งภาพลามกอนาจารลงในไลน์กลุ่ม
2. แอนเขียนบล็อกเล่าความลับของเพื่อนโดยใช้ภาษาสุภาพ
3. จิ๋วแก้ไขข้อความที่พิมพ์ผิดทันทีเพื่อป้องกันความเข้าใจผิด
4. แจ๋วรีบส่งต่อข่าวลือที่ได้รับทางอีเมลให้คนอื่น ๆ

36. ข้อใดไม่ถือเป็นการกระทำความผิดตาม พ.ร.บ.คอมพิวเตอร์

1. อ้อมส่งอีเมลเพื่อขอยืมเงินจากฟ้า
2. เก่งเข้าไปลบไฟล์การบ้านในคอมพิวเตอร์ของผึ้ง
3. ไผ่นำรหัสผ่านอีเมลของเต๋าไปโพสต์ในสื่อสังคมออนไลน์
4. ต้นตัดต่อภาพแอนกับภาพชุดว่ายน้ำ แล้วโพสต์ในสื่อสังคมออนไลน์

37. การกระทำในข้อใดถือเป็นการเคารพสิทธิของผู้อื่น

1. ชินแอบอ่านอีเมลของส้ม
2. แตงประจานเอกลงในไลน์กลุ่ม
3. มดนำรูปภาพที่แหม่มวาดไปทำพวงกุญแจขาย
4. พิมโพสต์กลอนที่บีแต่งลงเฟซบุ๊กโดยให้การอ้างอิงชื่อของบี

LIVEWORKSHEETS

38. ข้อใดเป็นแนวทางในการป้องกันอันตรายจากการใช้งานอินเทอร์เน็ต

1. นกตั้งรหัสผ่านโดยใช้วัน เดือน ปีเกิด เพื่อให้จดจำได้ง่าย
2. เอกได้รับอีเมลแจ้งว่า คอมพิวเตอร์ติดไวรัสจึงกรอกชื่อและรหัสผ่านตามลิงก์ในอีเมล
3. เก่งแจ้งให้เพื่อนสนิทราบก่อนนัดเจอกับเอกที่รู้จักกันครั้งแรกผ่านทางสื่อสังคมออนไลน์
4. กล้าอ่านข่าวออนไลน์ เรื่อง "น้ำมะนาวรักษาโรคมะเร็งได้" แล้วศึกษาข้อมูลเพิ่มเติม

39. บุคคลใดนำเสนอและแบ่งปันข้อมูลออนไลน์ได้อย่างเหมาะสมที่สุด

1. เก๋ เขียนบล็อกกิจกรรมที่ทำในช่วงกักตัวที่บ้าน 14 วัน หลังจากกลับจากต่างประเทศ
2. มีน นำคำคมที่คิดขึ้นเองมาใส่ในรูปดาราที่ตนชอบ แล้วโพสต์ลงสื่อสังคมออนไลน์
3. หมิว นำเสนอข้อมูลผู้ติดเชื้อโควิดมาทำเป็นอินโฟกราฟฟิกและนำเสนอผ่านสื่อสังคมออนไลน์ โดยไม่มีการอ้างอิงแหล่งที่มาของข้อมูล
4. เอ้ อัปโหลดวิดีโอจากกล้องหน้ารถของตนเอง ที่บันทึกอุบัติเหตุลงสื่อสังคมออนไลน์ โดยไม่ได้เบลอเลขทะเบียนรถ

40. การตั้งรหัสผ่านแบบใดมีความปลอดภัยสูง

1. ใช้วัน เดือน ปีเกิด เช่น 10112550
2. ใช้ตัวเลขซ้ำๆ เพื่อให้จำง่าย เช่น 121212
3. เรียงตัวเลขจากมากไปหาน้อย เช่น 87654321
4. ใช้ตัวอักษรพิมพ์ใหญ่ พิมพ์เล็ก ตัวเลข สัญลักษณ์ เช่น Mut6WU_1989

41. ภัยคุกคามด้านข้อมูลในคอมพิวเตอร์ที่แพร่กระจายผ่าน การส่งอีเมลล์คือข้อใด

1. มัลแวร์
2. สปายแวร์
3. ม้าโทรจันทร์
4. หนอนคอมพิวเตอร์

42. ข้อใดไม่ใช่แนวทางการป้องกันมัลแวร์

1. แก้วสำรองไฟล์ข้อมูลคอมพิวตอร์ไว้ในแฟลชไดร์ฟทุกอาทิตย์
2. โบว์สแกนไวรัสในคอมพิวเตอร์ทุกครั้งที่ต้องใช้แฟลชไดร์ฟของเพื่อน
3. ต้นได้รับอีมลจากคนที่ไม่รู้จักแจ้งว่าถูกสลากกินแบ่งรัฐบาล แต่ไม่ยอมเปิดไฟล์แนบและลบอีเมล
4. จินจัดไฟล์งานในคอมพิวเตอร์ให้เป็นหมวดหมู่ และลบไฟล์ภาพเอกสารที่ไม่ได้ใช้งานสม่ำเสมอ

LIVEWORKSHEETS