Погоджено на засіданні МО
протокол №2 від 28.10.2022
Голова МО Г.В. Романовська

Діагностувальна робота
з математики
за вересень – жовтень 2022р.
уч_____ 1 – А класу

Запиши рівність за малюнком.

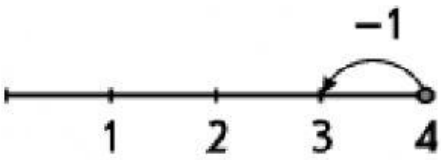

$4 - 1 = \square$

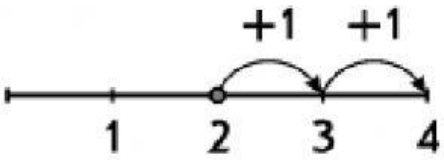

$2 + \square + \square = \square$

Згрупуй фігури за кольором і допиши рівності.

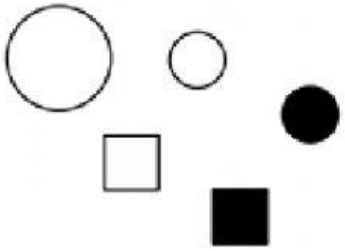

Б + Ч = Ф

$\square + \square = \square$

Ф − Б = $\square$

$\square - \square = \square$

3 + 2 = $\square$

$\square + \square = \square$

$\square - \square = \square$

$\square - \square = \square$

Обчисли.

$1 + 4 = \square$ $\quad 5 - 1 - 2 = \square$ $\quad 4 + 1 - 3 = \square$

$5 - 4 = \square$ $\quad 2 + 1 + 2 = \square$ $\quad 5 - 3 + 2 = \square$



LIVEWORKSHEETS