Hacemos canjes para sumar

1. José vendió 15 tambores el lunes y 19 el martes. ¿Cuántos tambores vendió en total?

a. **Formen** grupos de diez para calcular cuántos tambores vendió José.

Lunes

Martes

b. **Resuelvan** con el material base diez y **completen**.

Representen y realicen el canje.	Después de realizar el canje.	En el tablero de valor posicional.

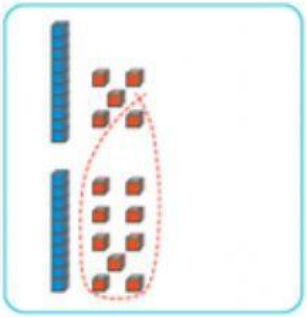



1

D	U
1	5
1	9

+

- José vendió _____ decenas y _____ unidades de tambores. En total vendió _____.

2. Ada preparó para sus invitados 26 alfajores de maracuyá y 17 de chocolate. ¿Cuántos alfajores preparó en total?

a. **Resuelve** con el material base diez y **completa**.

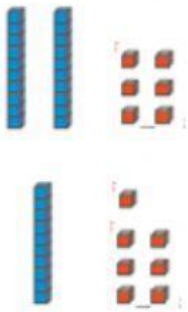

?

En el tablero de valor posicional.

D	U

- Ada preparó _____.

LIVEWORKSHEETS