LKPD (LEMBAR KERJA PESERTA DIDIK)

STRUKTUR ATOM

Petunjuk: Simaklah Video berikut kemudian jawablah pertanyaan dibawahnya

SOAL PILIHAN GANDA

Dibawah ini yang merupakan gambar atom netral adalah ;

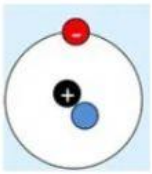

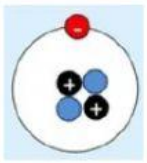

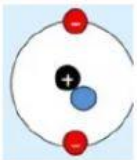

SOAL ISIAN SINGKAT

1. Elektron adalah partikel yang bermuatan …
2. Proton adalah partikel yang bermuatan …

SOAL DROP DOWN

LIVEWORKSHEETS

Berilah keterangan pada bagian atom di bawah ini!

Berikut adalah gambar partikel dasar penyusun atom. Berilah keterangan pada bagian yang ditunjukkan oleh tanda panah!

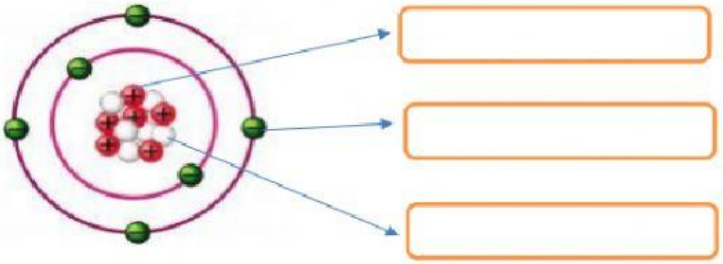

SOAL CHECX BOX

Pilihlah jawaban yang benar dengan cara menceklis pada kotak yang tersedia

Inti atom terdiri dari

a. Proton b. Netron c. Elektron

SOAL JOIN ARROW

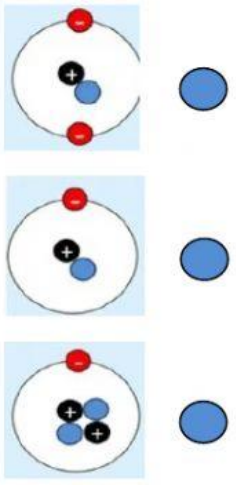

NETRAL

ANION

KATION

SOAL DRAG AND DROP

Pasangkan jawaban dibawah ini dengan menarik jawaban pada gabar yang tepat !

LIVEWORKSHEETS

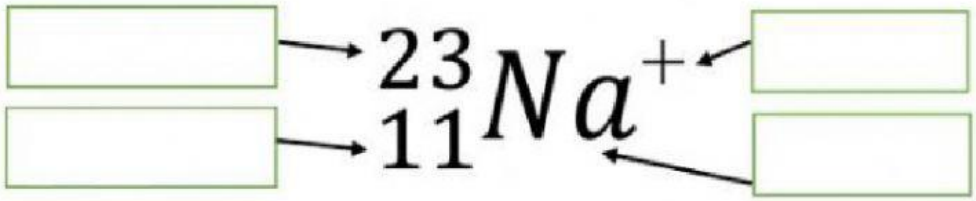

Simbol unsur | Nomor atom | Nomor massa | Muatan ion

LIVEWORKSHEETS

SOAL SPEAKING

DENGARKAN LALU PILIH JAWABAN YANG BENAR

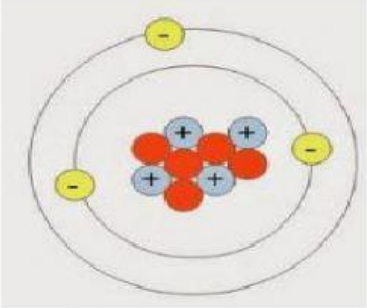

BENAR SALAH

SOAL WORD SEARCH

Carilah 3 kata penyusun atom;

A	B	U	E	U	S	F	O
Q	P	R	L	T	O	P	B
W	O	R	I	S	M	R	A
E	L	E	K	T	R	O	N
T	U	O	V	C	G	T	O
L	I	M	A	S	B	O	K
Y	N	E	T	R	O	N	V

LIVEWORKSHEETS