Repaso Unidad 1. Las plantas, unos seres vivos esenciales

Escribe el reino al que pertenece cada ser vivo



1- COMPLETÁ CON EL NOMBRE DE LAS PARTES DE LAS PLANTAS

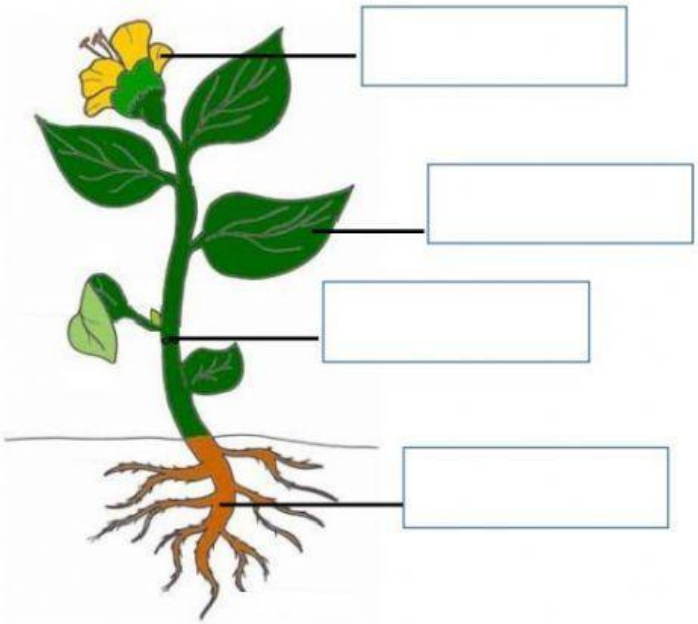

RAÍZ	TALLO	HOJA
FLOR		

Relaciona las distintas partes de la planta con la función que realizan.

Raíz	Transforma el agua y las sales minerales en alimento.
Tallo	Sostiene la planta. Permite la circulación del agua, las sales minerales y el alimento.
Hoja	Sujeta la planta. Absorbe el agua y las sales minerales.

LIVEWORKSHEETS

La fotosíntesis. Identifica los elementos señalados

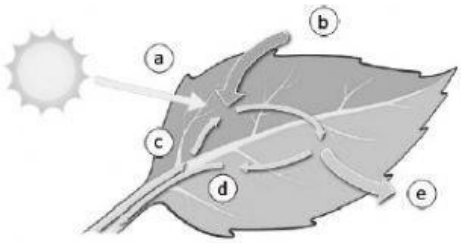

a) .....

b) .....

c) .....

d) .....

e) .....

Luz solar	Savia bruta	Savia elaborada	Oxígeno	Dióxido de Carbono

¿Qué tipo de tallo tienen?



Completa las partes de la flor

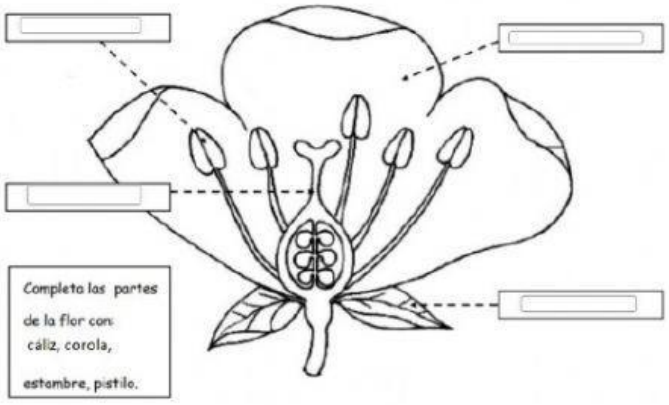

Ordena como se reproducen las plantas

El ovario empieza a crecer y forma el fruto con las semillas dentro.

La abeja transporta el polen de una planta a otra.

Los frutos maduros caen al suelo use produce la germinación.

El grano de polen se une al óvulo y se transforma en semilla.

LIVEWORKSHEETS