PURA LÓGICA

1. **Adivinanzas matemáticas.**

   Alba y Paula están jugando al ajedrez. Han jugado 5 partidas y cada una de ellas ha ganado 3. ¿Cómo es posible?

   Solución: .....

2. **Encuentra el número que falta.**

Solución .....

3. **Razonamiento-cálculo**

   ¿Con que número reemplazarías el signo de interrogación?



Solución .....

Retos seleccionados de www.elclubdelingenio.com

LIVEWORKSHEETS

4. **Razonamiento-cálculo**

Completa los cuadrados vacíos con cifras del 0 al 9 sin repetirlos, teniendo en cuenta que se deben verificar los resultados indicados en las filas y en las columnas.

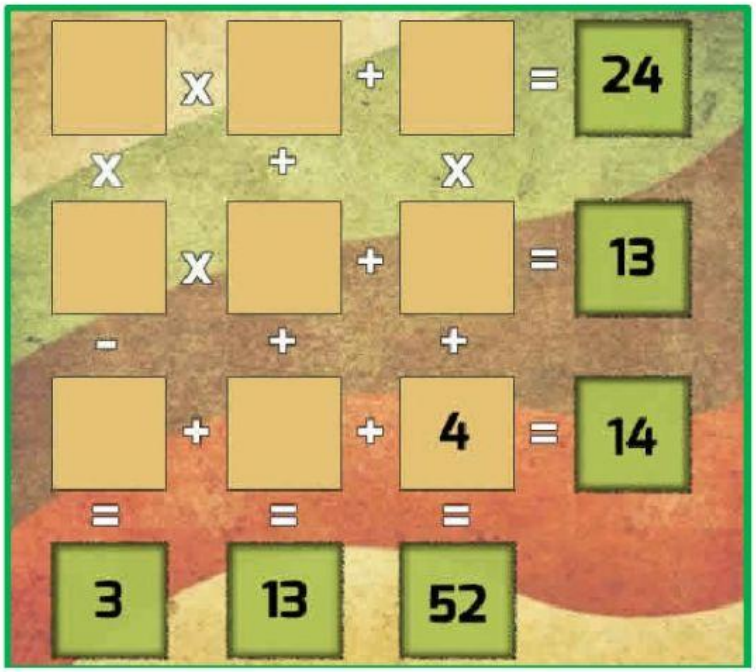

5. **Encuentra el número que falta dentro del cuadrado.**

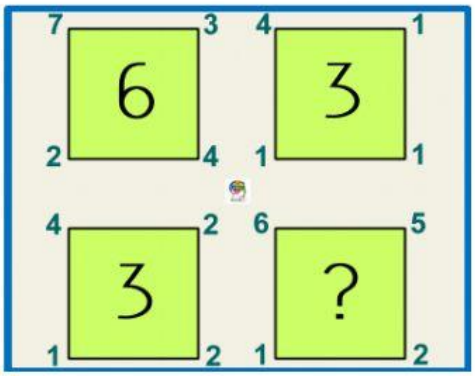

Solución .....

Retos seleccionados de www.elclubdelingenio.com

LIVEWORKSHEETS