LKPD (LEMBAR KERJA
PESERTA DIDIK)

SOAL PILIHAN GANDA

Dibawah ini yang merupakan gambar atom netral adalah ;

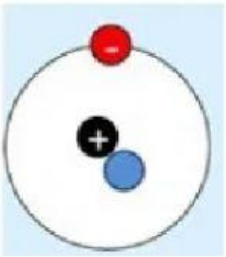

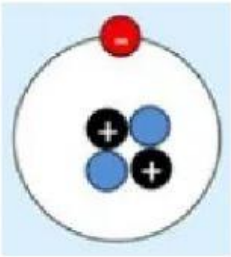

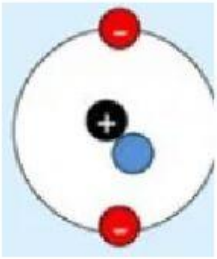

SOAL ISIAN SINGKAT DAN PARAGRAF

1. Elektron adalah partikel yang bermuatan …
2. Proton adalah partikel yang bermuatan …

SOAL DROP DOWN

Berilah keterangan pada bagian atom di bawah ini!

Berikut adalah gambar partikel dasar penyusun atom. Berilah keterangan pada bagian yang ditunjukkan oleh tanda panah!

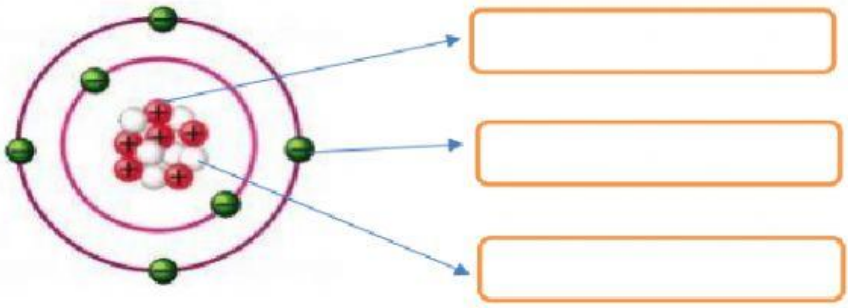

LIVEWORKSHEETS
LIVEWORKSHEETS

SOAL CHECX BOX

Pilihlah jawaban yang benar dengan cara menceklis pada kotak yang tersedia

Inti atom terdiri dari

a. Proton b. Netron c. Elektron

SOAL JOIN ARROW

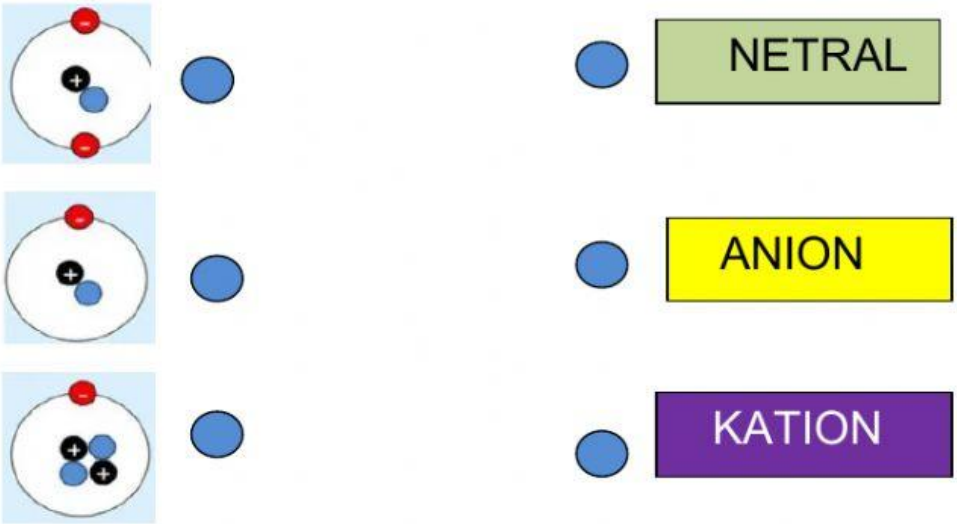

SOAL DRAG AND DROP

Pasangkan jawaban dibawah ini dengan menarik jawaban pada gabar yang tepat !

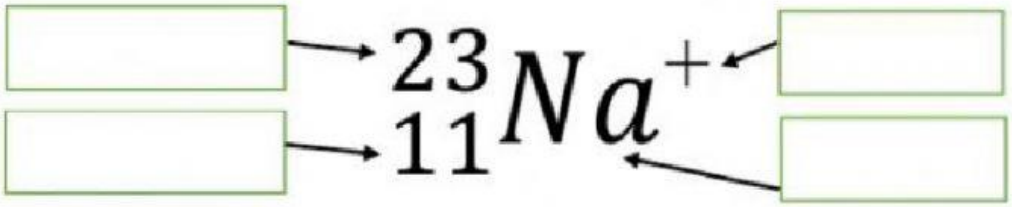

Simbol unsur | Nomor atom | Nomor massa | Muatan ion

LIVEWORKSHEETS LIVEWORKSHEETS

SOAL SPEAKING

DENGARKAN LALU PILIH JAWABAN YANG BENAR

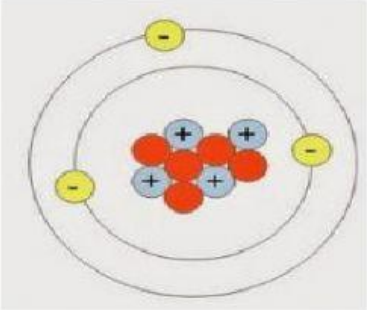

BENAR SALAH

SOAL WORD SEARCH

Carilah 3 kata penyusun atom;

A	B	U	E	U	S	F	O
Q	P	R	L	T	O	P	B
W E	O L	R E	I K	S T	M R	R O	A N
T	U	O	V	C	G	T	O
L Y	I N	M E	A T	S R	B O	O N	K V

LIVEWORKSHEETS LIVEWORKSHEETS