Họ và tên:.....Lớp:.....

**TUẦN 7**

- Bảng trừ (qua 10)
- Bài toán về nhiều hơn, ít hơn một số đơn vị

## Bảng trừ (qua 10)

**Bài 1**. *Em hãy tính để giúp các bác gấu lên đúng toa tàu của mình nhé! (bằng cách nối đúng phép tính và kết quả)*




Thư viện tiểu học - Ươm mầm tương lai

**Bài 2**. *Tính nhẩm:*

a. 16 – 8 = … 17 – 9 = … 14 – 7 = … 12 – 8 = …

11 – 3 = … 18 – 9 = … 15 – 6 = … 13 – 5 = …



b. 13 – 8 + 7 = … 11 – 7 + 8 = … 14 – 6 + 8 = …

12 – 5 + 9 = … 16 – 9 + 8 = … 15 – 8 + 20 = …

**Bài 3**.

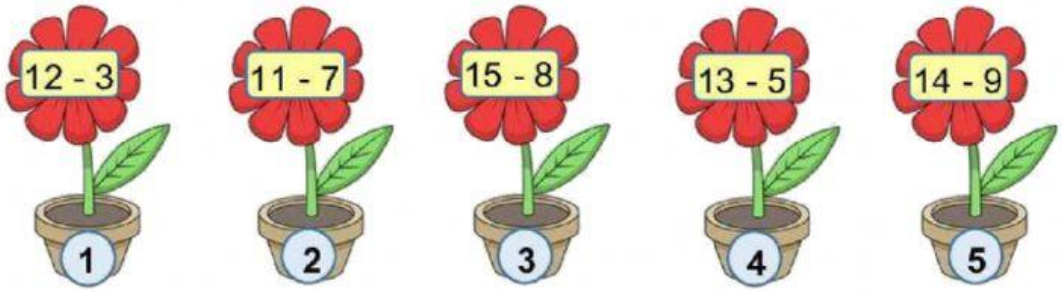




LIVEWORKSHEETS

a. Bông hoa ghi phép trừ có hiệu lớn nhất là: .....

Bông hoa ghi phép trừ có hiệu bé nhất là: .....

b. Các bông hoa có kết quả được sắp xếp theo thứ tự từ bé đến lớn là:

.....

**Bài 4**. Lúc đầu trên xe có 11 bạn, sau đó có 2 bạn xuống xe. Hỏi trên xe còn lại bao nhiêu bạn?

*Bài giải*

.....

.....

.....

**Bài 5**. Hiệu của số có hai chữ số giống nhau với một số tròn chục bằng 25. Em hãy viết phép trừ đó.

.....

.....

**Bài 6**. Hiệu của hai số là 15. Hỏi nếu số bị trừ bớt đi 7 đơn vị, số trừ tăng thêm 5 đơn vị thì hiệu mới là bao nhiêu?

.....

.....

.....

.....

.....

.....

.....



LIVEWORKSHEETS