Matemática

4.° Primaria



Nombre:

Sección:

N° de orden:

4P_10A_1

LIVEWORKSHEETS

1 La biblioteca de una escuela tiene registrados libros de diferentes áreas. Observa:

Cantidad de libros en la biblioteca

Ciencia y Ambiente	
Matemática	
Comunicación	

Cada  vale 5 libros

Según el gráfico, ¿cuántos libros de Matemática hay en la biblioteca?

a 15 libros.
b 9 libros.
c 5 libros.
d 3 libros.

2 Respecto a lo que puede ocurrir en un partido de fútbol, ¿cuál de las siguientes afirmaciones es correcta?

a Es imposible que los equipos empaten en goles.
b Es seguro que en el partido se hagan más de 5 goles.
c Es probable que el arquero tape 1 penal.
d Es posible que la pelota se sostenga en el aire durante media hora.

LIVEWORKSHEETS

3 Un equipo de básquet anota canastas de 1, 2 o 3 puntos según el tipo de lanzamiento. El entrenador registró estos puntos en la pizarra. Observa:



¿Cuál de las siguientes tablas corresponde a esta información?

a

Tipo de lanzamiento	Cantidad
1 punto	7
2 puntos	6
3 puntos	18

b

Tipo de lanzamiento	Cantidad
1 punto	6
2 puntos	6
3 puntos	6

c

Tipo de lanzamiento	Cantidad
1 punto	7
2 puntos	5
3 puntos	6

d

Tipo de lanzamiento	Cantidad
1 punto	7
2 puntos	6
3 puntos	5

LIVEWORKSHEETS

4 Observa la secuencia de figuras que utiliza Jorge para decorar una pared.

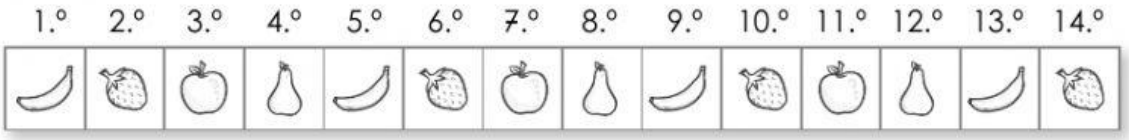

Jorge utiliza 25 figuras en total para decorar toda la pared. ¿Qué figura es la que ocupa la **ubicación 25** de la secuencia?

a 

b 

c 

d 

5 Tatiana tenía inicialmente S/ 6. Ella ahorró cada día S/ 4 durante 10 días. Si no gastó nada de lo ahorrado, ¿cuánto dinero llegó a juntar Tatiana?

a S/ 10
b S/ 40
c S/ 46
d S/ 64

LIVEWORKSHEETS

6 | Observa la siguiente secuencia:

2, 4, 8, 16, ____

¿Qué se puede hacer para encontrar el término que falta?

a Sumar 2 al número 16.

b Sumar 8 al número 16.

c Multiplicar por 8 al número 16.

d Multiplicar por 2 al número 16.

7 | En una tienda ofrecen tres paquetes de mantequilla por S/ 5. Juan hace una tabla para calcular lo que gastaría en cierta cantidad de paquetes.

Cantidad de paquetes	3	6	9
Precio (S/)	5	10	15

Si Juan quiere comprar una docena de paquetes de mantequilla en esa tienda, ¿cuánto debe pagar?

a S/ 15

b S/ 20

c S/ 30

d S/ 60

LIVEWORKSHEETS

8 Entre amigos de una escuela se realizan intercambios de yaces, canicas y figuras, según los siguientes acuerdos:





Según estos acuerdos, ¿cuántas figuras se pueden cambiar por una canica?

a 5 figuras.

b 6 figuras.

c 2 figuras.

d 3 figuras.

LIVEWORKSHEETS

9 | Rosa llega al colegio a las 7:30 a.m. y cuando ella sale del colegio, el reloj indica la siguiente hora:



Según esta información, ¿cuánto tiempo pasa Rosa en el colegio?

a 2 horas.

b 6 horas y 30 minutos.

c 7 horas.

d 7 horas y 30 minutos.

LIVEWORKSHEETS

10 Carlos tenía en su casa $\frac{1}{4}$ kg de azúcar. Para preparar un queque fue a la tienda a comprar más azúcar. Ahora tiene $\frac{3}{4}$ kg de azúcar en total. ¿Cuál de las siguientes operaciones permite encontrar cuántos kilogramos de azúcar compró Carlos?

a $\frac{3}{4} - \frac{1}{4}$

b $\frac{3}{4} \times \frac{1}{4}$

c $\frac{1}{4} + \frac{3}{4}$

d $\frac{1}{4} - \frac{3}{4}$

LIVEWORKSHEETS