ZLOMKY 1

Popíš časti zlomku.

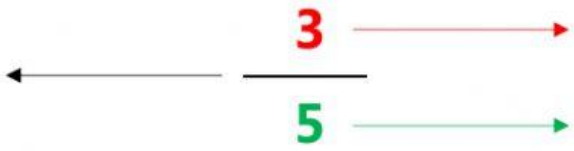

Vyjadri zlomkom vyfarbenú časť celku.

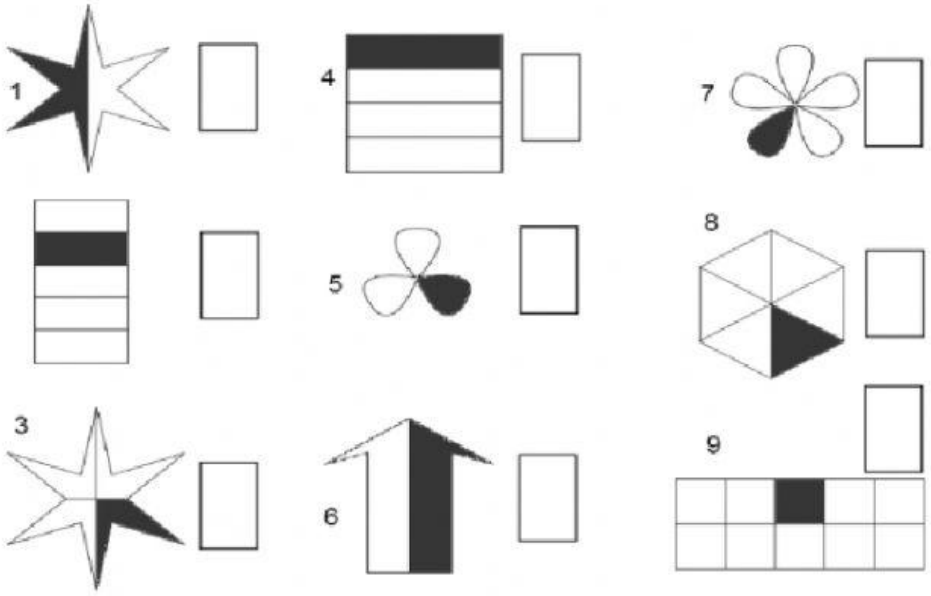

Podľa grafov odpovedz na otázky:

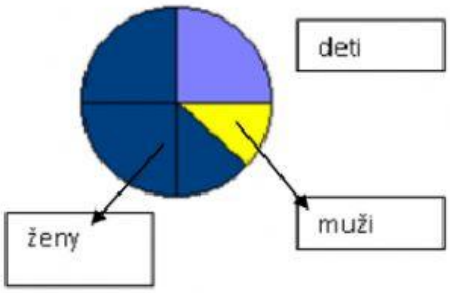

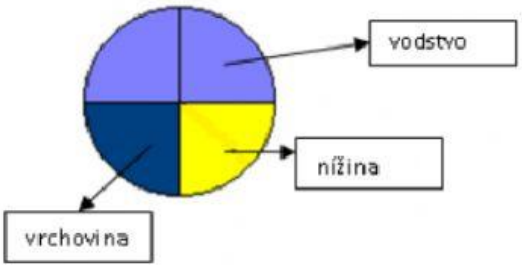

Akú časť tvoria muži? _____

Akú časť tvoria ženy? _____

Akú časť tvorí nížina? _____

Akú časť tvorí vodstvo? _____

Napíš zlomky, ak:

a) Čitateľ je dvakrát väčší ako menovateľ. _____

b) Menovateľ je trojnásobok čísla 6, čitateľ je najväčšie nepárne jednociferné číslo. _____

LIVEWORKSHEETS

Zapíš nasledujúce zlomky:

jedna tretina = _____

dve štvrtiny = _____

trinásť štyriadvadsatín = _____

päť dvanástin = _____

sedem desatín = _____

päť jednín =_____

Napíš názov zlomku:

a) ktoré zlomky vyjadrujú menšiu časť ako je celok: .....

b) ktoré zlomky vyjadrujú väčšiu časť ako je celok: .....

Doplň zlomok:

a) Ak mesiac trvá 30 dní, 1 deň je _____ mesiaca.

b) Hodina trvá 60 minút, 12 minút je _____ hodiny.

c) Ak rok má 12 mesiacov, 4 mesiace sú _____ roka.

d) Deň trvá 24 hodín, 8 hodín je _____dňa.

Prepíš zlomky na desatinné čísla.

$\frac{10}{100}$ = _____ $\frac{75}{100}$ = _____ $\frac{4}{1000}$ = _____ $\frac{18}{10}$ = _____

Prepíš desatinné čísla na desatinné zlomky.

25,03 = 3,024 = 15,008 = 9,667 =

LIVEWORKSHEETS