Прізвище, ім'я:

① Розв'яжи рівняння.

$26 - x = 20$ $\square\square\square\square\square\square\square$ $\square\square\square$ $\square\square\square\square\square\square\square$

$c : 5 = 7$ $\square\square\square\square\square$ $\square\square\square\square$ $\square\square\square\square\square\square$

$6 \cdot a = 48$ $\square\square\square\square\square\square$ $\square\square\square$ $\square\square\square\square\square\square$

② Обчисли вирази за схемами.

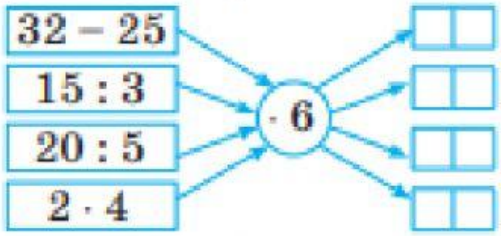

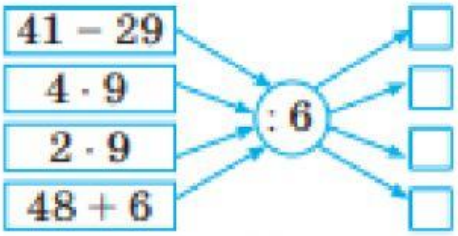

③ Розв'яжи задачу.

В одному будинку 24 поверхи, а в іншому — на 18 поверхів менше. У скільки разів перший будинок вищий за другий?

1) $\square\square\square\square\square\square\square$ (____) 2) $\square\square\square\square\square\square$ (____)

Відповідь: _____

④ Знайди шосту частину кожного числа.

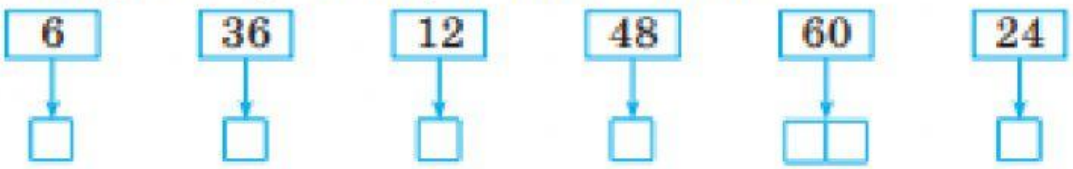

LIVEWORKSHEETS