A P D E CAMPOALEGRE NOMBRE: _____

I SECCIÓN FECHA: _____SECCIÓN: _____
A P M A # 3
MATEMÁTICA. SEGUNDO GRADO NOTA:_____

I SERIE 3 pts. c/u 18 pts.
INSTRUCCIONES: responde lo que se te pide.

1. Halla $\frac{1}{6}$ de 24 = _____

2. Halla $\frac{1}{4}$ de 28 = _____

Traza una línea entre cada multiplicación y su producto. Realiza las operaciones.

3.

25 x 2	30
10 x 3	60
20 x 3	50

4. ¿Qué fracción de los juguetes son pelotas?

$\frac{2}{4}$ $\frac{3}{4}$ $\frac{4}{4}$

_____

LIVEWORKSHEETS

Haz un dibujo del conjunto que se describe.

5. De 7 figuras geométricas, $\frac{4}{7}$ son triángulos.

6. Escribe la fracción unitaria que represente la parte del entero. Escribe el número de partes sombreadas.



fracción unitaria



número de partes sombreada

II SERIE 3 pts. c/u 21 puntos

INSTRUCCIONES: marca la letra que indique la respuesta.

1. Eva está pensando en una fracción. Tiene un numerador de 3. Su denominador es 2 más que eso. ¿Cuál es la fracción de Eva?

$\frac{3}{5}$	$\frac{5}{3}$	$\frac{3}{2}$	$\frac{2}{3}$
Ⓐ	Ⓑ	Ⓒ	Ⓓ

LIVEWORKSHEETS

2. ¿Qué figura NO está dividida en partes iguales?

Ⓐ

Ⓑ

Ⓒ

Ⓓ

3. Fernanda diseñó una colcha de retazos con áreas iguales, como se muestra a la par.

¿Cómo se llaman las partes iguales del entero?



Mitades Ⓐ

Tercios Ⓑ

Sextos Ⓒ

Octavos Ⓓ

4. Nati hizo un pastel de durazno. Lo cortó en 12 partes iguales. Sirvió 5 porciones y guardó el resto para más tarde. ¿Qué fracción del pastel queda?

$\frac{5}{12}$ Ⓐ

$\frac{7}{12}$ Ⓑ

$\frac{4}{12}$ Ⓒ

$\frac{5}{12}$ Ⓓ

5. ¿Qué fracción de la figura está sombreada?



$\frac{3}{4}$ Ⓐ

$\frac{2}{3}$ Ⓑ

$\frac{1}{3}$ Ⓒ

$\frac{1}{4}$ Ⓓ

LIVEWORKSHEETS

6. Hay 10 perros en el parque. Tres de los perros son french, 5 son chiguagua y 2 Yorki. ¿Qué fracción de los perros son Yorki?

$\frac{2}{10}$	$\frac{3}{10}$	$\frac{4}{10}$	$\frac{5}{10}$
Ⓐ	Ⓑ	Ⓒ	Ⓓ

7. ¿Qué fracción de los círculos está sombrea 

$\frac{6}{3}$	$\frac{6}{6}$	$\frac{3}{6}$	$\frac{2}{6}$
Ⓐ	Ⓑ	Ⓒ	Ⓓ

III SERIE 6 pt. c/u 36 pts.

INSTRUCCIONES: resuelve las siguientes operaciones.

1.

8	4	8	

2.

9	8	1	

3.

7	4	9	

4.

	3	0
X		3

5.

	1	2
X		4

6.

LIVEWORKSHEETS

	2	2
X		2

	1	6
X		4

IV SERIE 5 c/u 25 puntos

INSTRUCCIONES: resuelve los siguientes problemas. Realiza un dibujo y escribe las operaciones que necesitas para resolver el problema. Deja constancia de tu trabajo.

1. Cristina tiene 27 rodajas de pan para preparar sándwiches en torres, es decir, a cada uno le pondrá 3 rodajas de pan. ¿Cuántos sándwiches puede preparar Cristina?



Cristina puede preparar _____

2. De 6 gatos, 2 son de color café.
   ¿Qué fracción de los gatos NO son de color café? _____ no son cafés
   (colorea los gatos que son de color café)

LIVEWORKSHEETS

3. Mazlin tiene 2 rosas blancas, 3 rosas rojas y 4 rosas amarillas.
   ¿Qué fracción de las rosas de Mazlin son rojas?
   (colorea las flores como las tiene Mazlin)

_____ son rojas

4. Montse usó $\frac{1}{6}$ de **12** lápices de un paquete.
   ¿Cuántos lápices usó Paula? Halla $\frac{1}{6}$ de **12** lápices.

$\frac{1}{6}$ de **12** es _____ Montse usó _____ lápices.

5. Mía compra 7 paquetes de platos. Cada paquete trae 8 platos. Su mamá le lleva 15 platos más.
   ¿Cuántos platos tiene Irene en total?

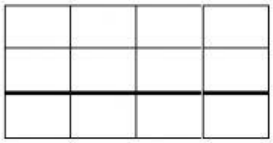



Mía tiene _____ platos

LIVEWORKSHEETS