# ĐỀ ÔN VIOEDU LỚP 1 NĂM 2021-2022

## ĐỀ SỐ 1

**Câu 1.** Bạn hãy chọn đáp án đúng.

Cho hình vẽ sau:



Hỏi bạn Nhi đúng hay sai?

a/ Sai ☐ b/ Đúng ☐

Bạn Nhi ☐

**Câu 2.** Bạn hãy chọn đáp án đúng.

Cho hình vẽ sau:

Trong hình có bao nhiêu chiếc cặp sách?

a/ 9 chiếc cặp sách ☐

b/ 10 chiếc cặp sách ☐

c/ 8 chiếc cặp sách ☐

**Câu 3.** Bạn hãy chọn đáp án đúng.

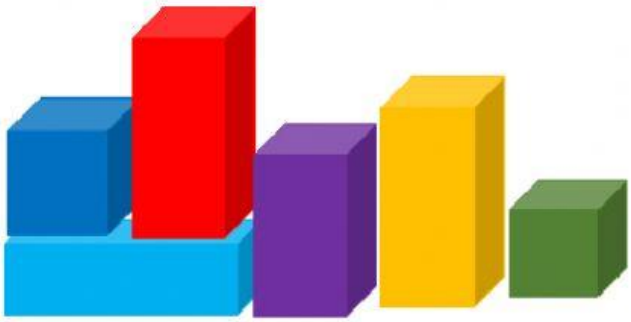

Trong hình trên có bao nhiêu khối hộp chữ nhật? ☐

a/ 4 khối hộp chữ nhật

b/ 2 khối hộp chữ nhật ☐

☐

LIVEWORKSHEETS

c/ 3 khối hộp chữ nhật

**Câu 4.** Bạn hãy chọn đáp án đúng.

Cho hình vẽ sau:

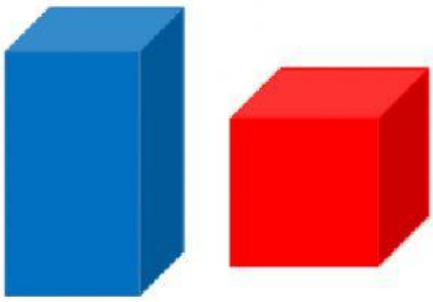

Trong hình trên, khối lập phương có màu gì?

a/ Màu đỏ ☐

b/ Màu xanh nước biển ☐

**Câu 5.** Bạn hãy chọn đáp án đúng.

Hai bạn Sơn và An đưa ra kết quả khác nhau cho một phép tính như sau:

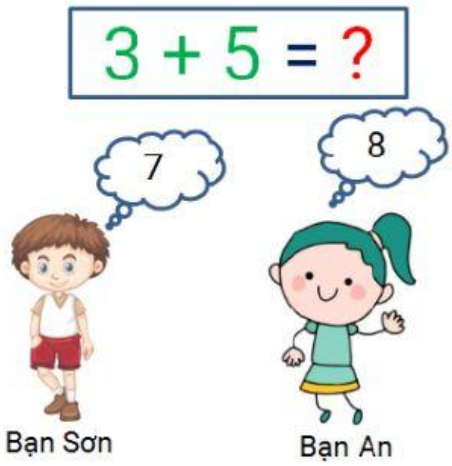


Hỏi bạn nào đúng?

a/ Không có bạn nào đúng. ☐

b/ Bạn An. ☐

c/ Bạn Sơn. ☐

**Câu 6.** Bạn hãy chọn đáp án đúng.

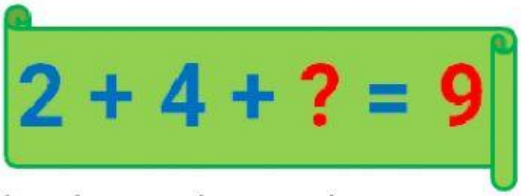


Số cần điền vào dấu hỏi chấm là:

a/ 4 ☐ b/ 2 ☐ c/ 3 ☐

**Câu 7.** Bạn hãy điền số thích hợp vào ô trống.

Nhà bạn My có 7 chậu hoa. Mẹ My mua thêm 3 chậu hoa. Vậy nhà bạn My có tất cả bao nhiêu chậu hoa?

Trả lời: ☐ chậu hoa.

LIVEWORKSHEETS

**Câu 8.** Bạn hãy chọn đáp án đúng.

Phép tính nào dưới đây có kết quả bằng 7?

a/ 3 + 2 + 1 ☐

b/ 5 + 1 + 0 ☐

c/ 2 + 4 + 1 ☐

**Câu 9.**Bạn hãy điền số thích hợp vào ô trống.

Cho phép tính sau:

3 + 2 +1 = ?

Kết quả của phép tính trên là ☐

**Câu 10.** Bạn hãy chọn đáp án đúng.

Ban đầu bạn Vy có 2 chiếc bút. Sau đó, bạn Vy mua thêm 5 chiếc bút nữa. Hỏi bạn Vy có tất cả bao nhiêu chiếc bút?

a/ 8 chiếc bút. ☐

b/ 9 chiếc bút. ☐

c/ 7 chiếc bút. ☐

LIVEWORKSHEETS