REPASO TEMA 1

1. Completa.

[ ] decena y [ ] unidades

[10] + [ ] = [ ]

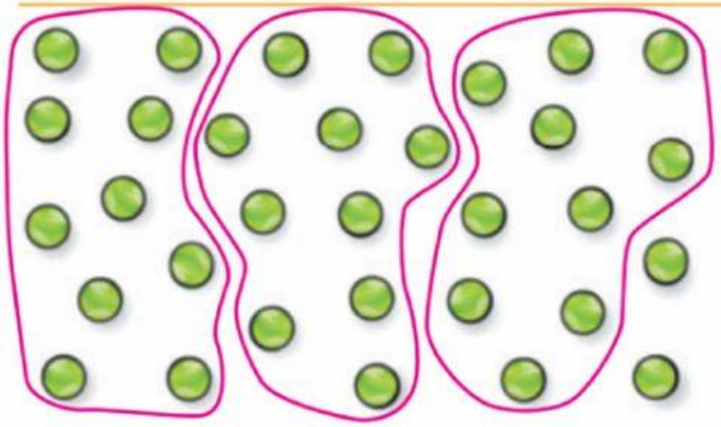

[ ] decenas y [ ] unidades

[ ] + [ ] = [ ]

2. Cuenta y escribe el número.



D	U

[74]

[70] + [ ] = [ ]



D	U

[ ]

[ ] + [6] = [ ]

3. Completa.

30 + 6 = [ ]

50 + 4 = [ ]

60 + 5 = [ ]

18 = [10] + [ ]

29 = [ ] + [ ]

34 = [ ] + [ ]

LIVEWORKSHEETS

4. Lee y relaciona.

treinta y ocho •	• 25	67 •	• setenta y nueve
dieciséis •	• 38	94 •	• sesenta y siete
cuarenta y dos •	• 42	53 •	• cincuenta y tres
veinticinco •	• 16	79 •	• noventa y cuatro

5. Relaciona.

6 D y 3 U •	• 30 + 6 •	• 49
3 D y 6 U •	• 40 + 9 •	• 36
4 D y 9 U •	• 60 + 3 •	• 94
9 D y 4 U •	• 90 + 4 •	• 63

6. Lee y marca los números que se indican.

¿Cuál de estas cifras tiene siete decenas?

62 71 82 18 27

¿Cuál de estas cifras tiene cuatro decenas?

70 87 35 41 24

¿Cuál de estas cifras tiene cuatro unidades?

19 52 10 26 84

¿Cuál de estas cifras tiene ocho unidades?

44 26 88 37 61

LIVEWORKSHEETS

7. Completa las series.

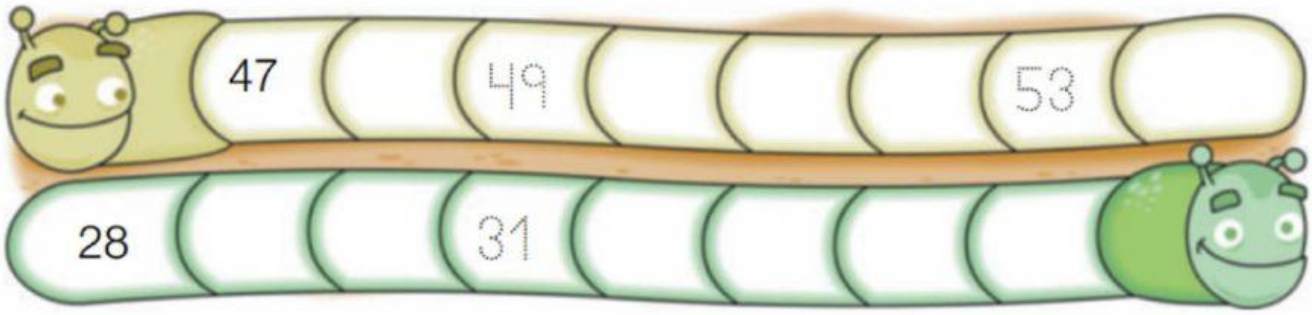

8. Resuelve.

68 − 23 = ☐	46 + 13 = ☐	79 − 6 = ☐	51 + 32 + 15 = ☐	85 − 3 = ☐

9. Lee y resuelve los problemas.

Carmen quiere comprar una silla de 79 €. Tiene 68 €.
¿Cuánto dinero le falta?

DATOS ☐ y ☐

OPERACIÓN ○

SOLUCIÓN Le faltan _____ euros.

LIVEWORKSHEETS

Laura ▶ 65 puntos
Diego ▶ 32 puntos

¿Cuántos puntos tienen Laura y Diego en total?

DATOS ☐ y ☐

OPERACIÓN ○

SOLUCIÓN En total tienen _____ puntos.

10. Fíjate en los jugadores y en las canastas que ha metido cada uno de ellos. Escribe el recuento de cada uno y contesta.

Jugador	Canastas	Recuento
Pedro	卌	5
Cristina	III	
Gerardo	卌 卌 I	
Beatriz	卌 卌	
Susana	IIII	
Javier	卌 II	

¿Quién metió menos canastas? _____

¿Cuántas canastas metieron Susana y Cristina entre las dos? _____

¿Quién metió más canastas? _____

¿Cuántas canastas metieron Pedro y Beatriz juntos? _____

LIVEWORKSHEETS