Nombre(s) y Apellido(s): _____

Noveno: ☐ 1 ☐ 2 ☐ 3 ☐ 4 ☐ 5 Sección: ☐ A ☐ B ☐ C

Fecha: _____ de _____ de 20_____ Profª. Brenda Figueroa Villalba

Tema: Función vs. Relación

Valor: 10 puntos

I Utilice la siguiente relación para contestar los ejercicios A y B.

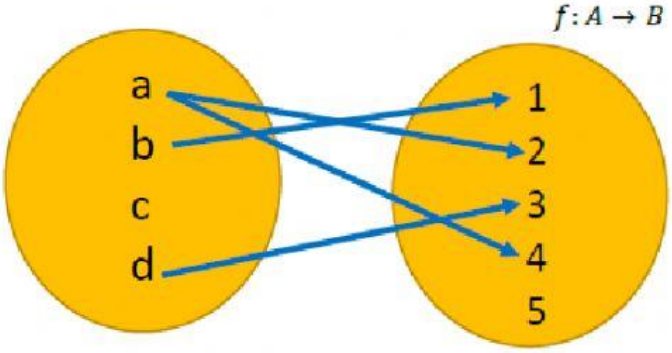

A. Indique si la relación corresponde a una función o no. _____

B. Determine el dominio y el rango: D→ {_____} R→ {_____}

II Indique si la relación representa una función o no.

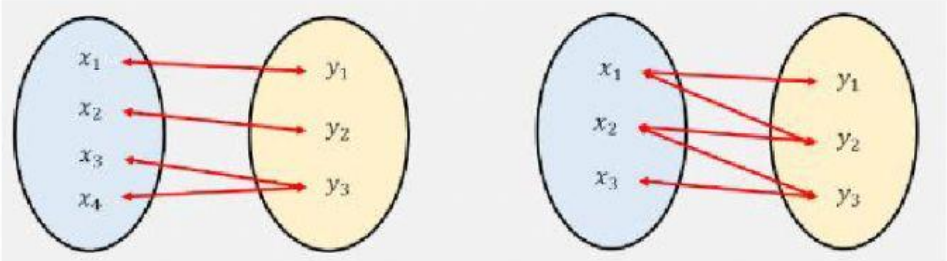

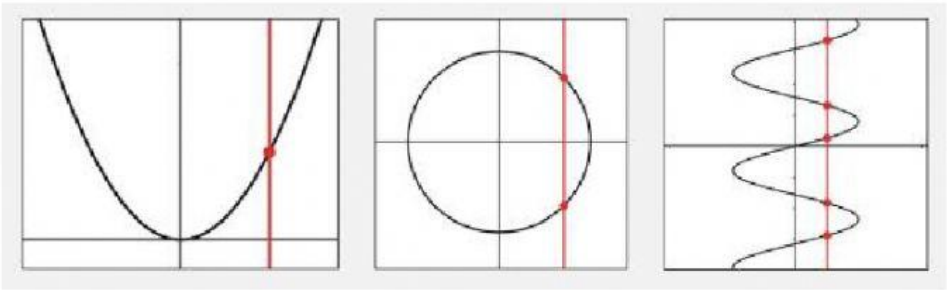

LIVEWORKSHEETS