LEMBAR KERJA PECAHAN (LIVE)

Bismillahirrahmannirrahim

NAMA :

KELAS :

I. Jawablah pertanyaan berikut dengan klik pilihan a, b, c dan d sesuai dengan jawaban yang benar!

1. Bagian yang diarsir mempunyai nilai pecahan… .

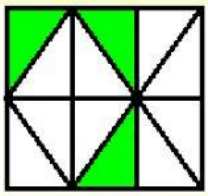

a. $\frac{3}{10}$ c. $\frac{3}{14}$

b. $\frac{3}{12}$ d. $\frac{3}{16}$

2. Tanda yang benar untuk pecahan $\frac{9}{12}$ … $\frac{4}{12}$

a. < c. =

b. > d. /

3. Pecahan yang senilai dengan $\frac{4}{10}$ adalah… .

a. $\frac{4}{20}$ c. $\frac{12}{20}$

b. $\frac{8}{20}$ d. $\frac{6}{20}$

4. Pecahan yang senilai dengan $\frac{6}{9}$ adalah… .

a. $\frac{18}{27}$ c. $\frac{14}{27}$

b. $\frac{12}{27}$ d. $\frac{10}{27}$

5. Pecahan yang senilai dengan gambar berikut adalah… .

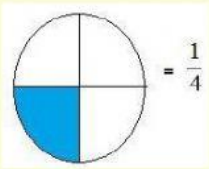

a. $\frac{2}{8}$

b. $\frac{4}{8}$

c. $\frac{6}{8}$

d. $\frac{8}{8}$

LIVEWORKSHEETS
LIVEWORKSHEETS

II. Tuliskan nilai pecahan pada gambar dan isilah kotak di bagian kanan dengan "Senilai" atau "Tidak Senilai" !

a.

dan



Senilai/ Tidak Senilai

.....

b.

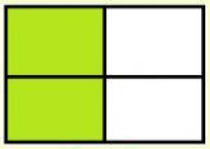

dan



Senilai/ Tidak Senilai

.....

c.

dan

Senilai/ Tidak Senilai

.....

Alhamdulillah

LIVEWORKSHEETS
LIVEWORKSHEETS