Evaluación

Nota:

Apellidos y Nombres:

Día: Mes: Año:

1. **Observa** el grafico de barras horizontales sobre las preferencias de algunas personas por ciertos lugares turísticos. **Luego,** escribe en los espacios la respuesta correcta:

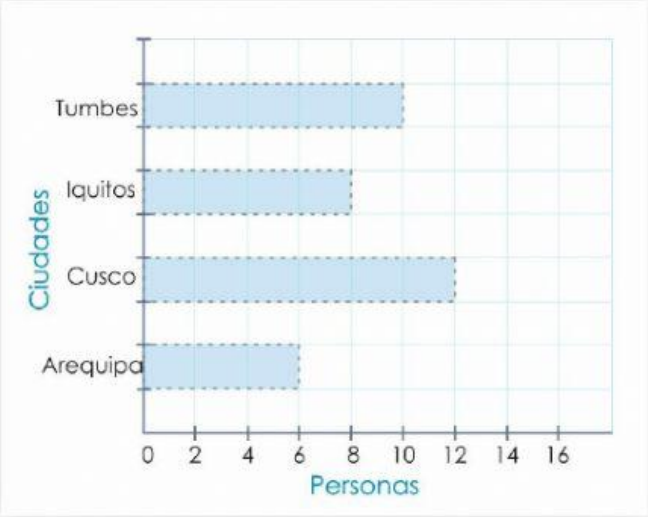

1. ¿Cuántas personas fueron encuestadas?

2. ¿Cuántas personas prefieren ir a Tumbes?

3. ¿Cuántas personas prefieren ir a Iquitos?

4. ¿Cuál es el lugar que menos prefieren visitar?

2. En el colegio **"La casa de los Dinosaurios"** se realizó una encuesta a los alumnos de primer grado sobre su preferencia por colores de pelotas. Estos fueron los resultados:

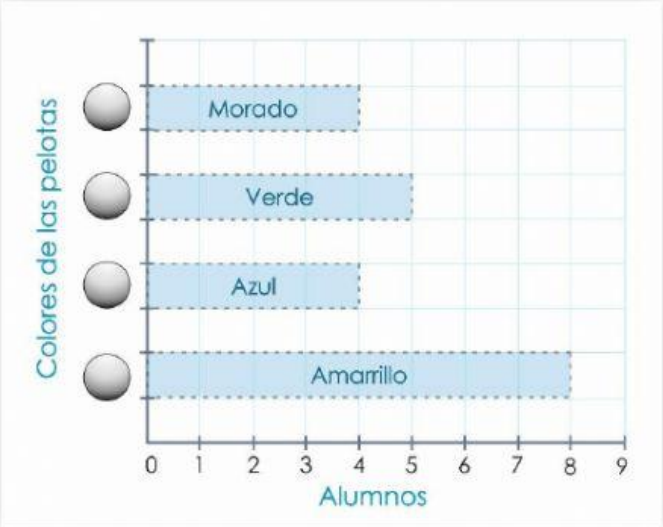

5. ¿Cuántas niños fueron encuestadas?

6. ¿Cuántos niños juegan con pelotas azules?

7. ¿Cuántos niños juegan con pelotas verdes y moradas?

8. ¿Cuál es el color más preferido por los niños?

9. ¿Cuál es el color menos preferido por los niños?

LIVEWORKSHEETS

3. La profesora encuestó a los niños acerca de los animales oriundos del Perú, para su exposición.

Observa la tabla y **selecciona** los cuadrados según los datos en el gráfico de barras horizontales.

Animales	Frecuencia
Llama	6
Pelicano	4
Papagayo	8
Cuy	5

4. **Observa** el grafico de barras horizontales sobre las preferencias de algunas personas por ciertos lugares turísticos. **Luego,** escribe en los espacios la respuesta correcta

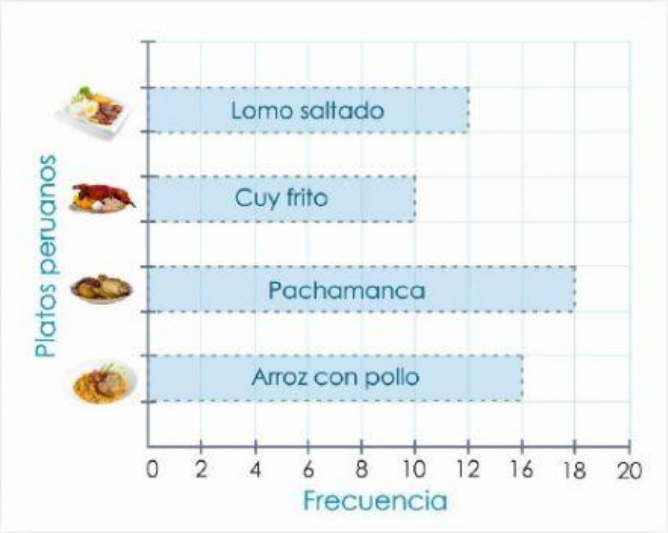

1. ¿Cuál es el plato de mayor preferencia?

_____

2. ¿Cuál es el plato menos preferido?

_____

3. ¿Cuántos prefieren arroz con pollo?

_____

4. ¿Cuántas personas fueron encuestadas?

_____

LIVEWORKSHEETS