В СВЕТА НА ЦИРКА

ИЗВАЖДАНЕ НА ЕДНОЦИФРЕНО ЧИСЛО ОТ 16 С ПРЕМИНАВАНЕ

1. Попълни и пресметни.

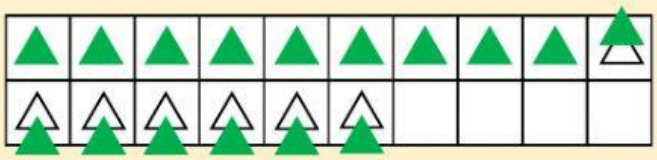

16 – 7 = ?

16 – 6 – ☐ = ☐ – ☐ = ☐

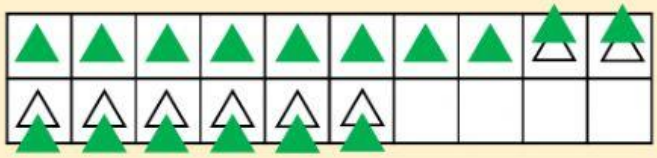

16 – 8 = ?

16 – ☐ – ☐ = ☐ – ☐ = ☐

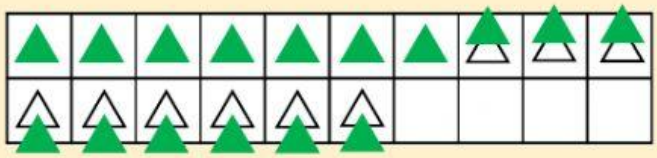

16 – 9 = ?

16 – ☐ – ☐ = ☐ – ☐ = ☐

2. Попълни и пресметни.

16 – 7 = ?

6 + 10 – 7 = ☐ + ☐ = ☐

16 – 8 = ?

6 + 10 – 8 = ☐ + ☐ = ☐

16 – 9 = ?

6 + 10 – 9 = ☐ + ☐ = ☐

3. | > | = | < |

8 ☐ 16 – 9 ☐

16 – 7 ☐ 9 ☐

15 – 9 ☐ 16 – 8 ☐

LIVEWORKSHEETS

4. а) Умаляемото е 16, а умалителят е 9. Намери разликата.

б) Намери разликата, ако умаляемото е 16, а умалителят е 8.

в) Умаляемото е 16. Намери разликата, ако умалителят е 7.

5. Пресметни и попълни пропуснатите числа.

16 – 9 + 7 – 6 + 8 – 7 + 3 – 5 + 9 – 8 + 4

6. Артистите в цирка изнесли 16 сутрешни и с 8 по-малко следобедни представления. Колко следобедни представления са изнесли?

Решение:

Отговор: следобедни представления

7. Едно следобедно представление посетили 16 деца и 9 възрастни. С колко възрастните са по-малко от децата?

Решение:

Отговор: възрастни

LIVEWORKSHEETS