

แบบฝึกหัด 3.1 เรื่อง ทศนิยม

ชื่อ-สกุล_____เลขที่____ชั้น____

คำชี้แจง : ให้นักเรียนหาคำตอบแล้วเติมลงในช่องว่าง

1 เขียนในรูปทศนิยม

1) $\frac{9}{10}$ = ☐

2) $\frac{203}{100}$ = ☐

3) $\frac{61}{1000}$ = ☐

4) $\frac{7542}{1000}$ = ☐

5) $\frac{12}{25}$ = ☐

6) $\frac{7}{8}$ = ☐

7) $\frac{35}{4}$ = ☐

8) $\frac{457}{125}$ = ☐

2 เขียนในรูปเศษส่วน

1) 0.4 = $\frac{\square}{\square}$

2) 1.6 = $\frac{\square}{\square}$

3) 0.92 = $\frac{\square}{\square}$

4) 3.05 = $\frac{\square}{\square}$

5) 0.071 = $\frac{\square}{\square}$

6) 8.469 = $\frac{\square}{\square}$

7) 5.55 = $\frac{\square}{\square}$

8) 1.002 = $\frac{\square}{\square}$

3 เติมตัวเลขแสดงจำนวนใน

1) 12.5 × ☐ = 125

2) 0.03 × ☐ = 3

3) ☐ × 100 = 66

4) ☐ × 10 = 9

5) 8.002 × ☐ = 8,002

6) ☐ × 1,000 = 5

7) 3.05 × ☐ = 305

8) ☐ × 4.61 = 461

9) ☐ × 100 = 79

10) 1,000 × ☐ = 28

LIVEWORKSHEETS



แบบฝึกหัด 3.1 เรื่อง ทศนิยม

ชื่อ-สกุล_____เลขที่____ชั้น____

คำชี้แจง : ให้นักเรียนหาคำตอบแล้วเติมลงในช่องว่าง

4 แสดงวิธีหาผลลัพธ์

1) $\frac{3}{10} \times 15$

วิธีทำ $\frac{3}{10} \times 15 = \frac{\square \times \square}{\square}$

$= \frac{\square}{\square}$

$= \square \frac{\square}{\square}$

ดังนั้น $\frac{3}{10} \times 15 = \square$

ตอบ $\square$

2) $\frac{1}{4} \div \frac{1}{32}$

วิธีทำ $\frac{1}{4} \div \frac{1}{32} = \frac{\square}{\square} \times \frac{\square}{\square}$

$= \frac{\square}{\square} \times \frac{\square}{\square}$

$= \square$

ดังนั้น $\frac{1}{4} \div \frac{1}{32} = \square$

ตอบ $\square$

3) $0.3 \div 2$

วิธีทำ $\square \overline{)\square}$

ดังนั้น $0.3 \div 2 = \square$

ตอบ $\square$

4) $9.51 \div 3$

วิธีทำ $\square \overline{)\square}$

ดังนั้น $9.51 \div 3 = \square$

ตอบ $\square$



LIVEWORKSHEETS



แบบฝึกหัด 3.1 เรื่อง ทศนิยม

ชื่อ-สกุล_____เลขที่____ชั้น____

คำชี้แจง : ให้นักเรียนหาคำตอบแล้วเติมลงในช่องว่าง

4 แสดงวิธีหาผลลัพธ์

5) $7.015 \div 5$

วิธีทำ

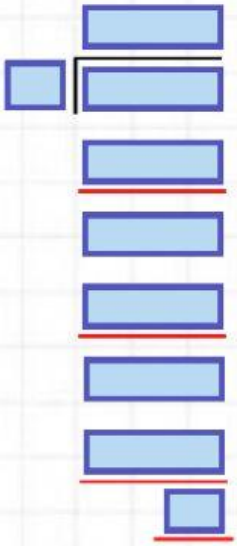

ดังนั้น $7.015 \div 5 =$ ☐

ตอบ ☐

6) $0.6 \div 12$

วิธีทำ

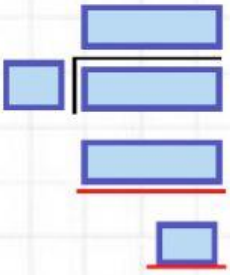

ดังนั้น $0.6 \div 12 =$ ☐

ตอบ ☐



LIVEWORKSHEETS



แบบฝึกหัด 3.1 เรื่อง ทศนิยม

ชื่อ-สกุล_____เลขที่____ชั้น____

คำชี้แจง : ให้นักเรียนหาคำตอบแล้วเติมลงในช่องว่าง

4 แสดงวิธีหาผลลัพธ์

7) 0.75 + 0.068 - 0.2

วิธีทำ ขั้นที่ 1 0.75 + 0.068

[ ] +
[ ]
[ ]

ขั้นที่ 2 [ ] - 0.2

[ ] -
[ ]
[ ]

ดังนั้น 0.75 + 0.068 - 0.2 = [ ]

ตอบ [ ]

8) 9 - (4.006 - 0.813)

วิธีทำ ขั้นที่ 1 4.006 - 0.813

[ ] +
[ ]
[ ]

ขั้นที่ 2 9 - [ ]

[ ] -
[ ]
[ ]

ดังนั้น 9 - (4.006 - 0.813) = [ ]

ตอบ [ ]



LIVEWORKSHEETS



แบบฝึกหัด 3.1 เรื่อง ทศนิยม

ชื่อ-สกุล_____เลขที่____ชั้น____

คำชี้แจง : ให้นักเรียนหาคำตอบแล้วเติมลงในช่องว่าง

9) 2.082 + 3.4 × 7.06

วิธีทำ ขั้นที่ 1 3.4 × 7.06

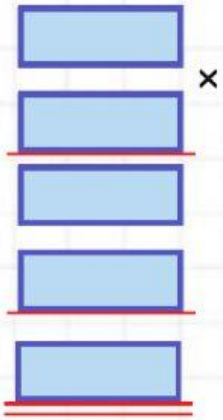

ขั้นที่ 2 2.082 +

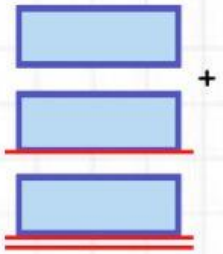

ดังนั้น 2.082 + 3.4 × 7.06 =

ตอบ

10) 12 ÷ 8 - 0.753

วิธีทำ ขั้นที่ 1 12÷ 8

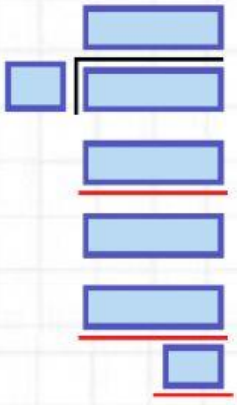

ขั้นที่ 2 1.5 -

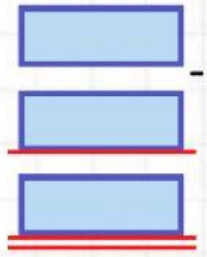

ดังนั้น 12 ÷8 - 0.753 =

ตอบ



LIVEWORKSHEETS



แบบฝึกหัด 3.1 เรื่อง ทศนิยม

ชื่อ-สกุล_____เลขที่____ชั้น____

คำชี้แจง : ให้นักเรียนหาคำตอบแล้วเติมลงในช่องว่าง

11) 5.81 ÷ 7 ×400

วิธีทำ ขั้นที่ 1 5.81 ÷7

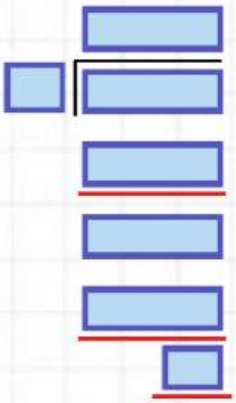

ขั้นที่ 2 ☐ ×400



ดังนั้น 5.81 ÷ 7 ×400 = ☐

ตอบ ☐

12) 8 ×1.9 ÷ 2

วิธีทำ ขั้นที่ 1 8 × 1.9

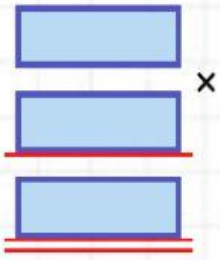

ขั้นที่ 2 ☐ ÷ 2

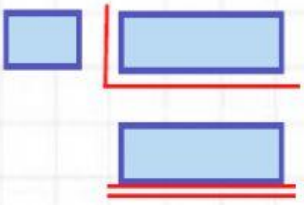

ดังนั้น 8 ×1.9 ÷2 = ☐

ตอบ ☐





LIVEWORKSHEETS



แบบฝึกหัด 3.1 เรื่อง ทศนิยม



ชื่อ-สกุล_____เลขที่____ชั้น____

คำชี้แจง : ให้นักเรียนหาคำตอบแล้วเติมลงในช่องว่าง

5 แสดงวิธีหาผลลัพธ์

1) ฟ้าซื้อไข่ไก่ 1 แผง ราคา 118.50 บาท ถ้าไข่ไก่ 1 แผง มี 30 ฟอง ไข่ไก่ราคาฟองละกี่บาท

วิธีทำ ไข่ไก่ 1 แผง ราคา ☐ บาท

ไข่ไก่ 1 แผง มี ☐ ฟอง

ดังนั้น ไข่ไก่ราคาฟองละ ☐ ÷ ☐ = ☐ บาท

ตอบ ☐

2) ถ้าไร่มันสำปะหลัง 1 ไร่ ให้ผลผลิตเฉลี่ย 5.5 เมตริกตัน ปลื้มทำไร่มันสำปะหลัง 6 ไร่ และนำไปขายทั้งหมดเมตริกตันละ 2,700 บาท ปลื้มจะได้รับเงินกี่บาท

วิธีทำ ไร่มันสำปะหลัง 1 ไร่ ให้ผลผลิตเฉลี่ย ☐ เมตริกตัน

ปลื้มทำไร่มันสำปะหลัง ☐ ไร่

ปลื้มมีผลผลิตมันสำปะหลัง ☐ × ☐ = ☐ เมตริกตัน

นำไปขายเมตริกตันละ ☐ บาท

ดังนั้น ปลื้มจะได้รับเงิน ☐ × ☐ = ☐ บาท

ตอบ ☐







LIVEWORKSHEETS