SOAL LIVEWORKSEET SISTEM PENCERNAAN MANUSIA

SOAL PILIHAN GANDA

Organ pencernaan yang berfungsi untuk menyerap nutrisi adalah ….






SOAL ISIAN SINGKAT DAN URAIAN

Gerak mendorong dan meremas makanan agar menuju lambung yangterjadi di kerongkongan disebut gerak ….
Tuliskan urutan proses pencernaan makanan dalam organ-organ pencernaan manusia!

SOAL DROP DOWN

Tuliskan nama organ pencernaan di bawah ini!

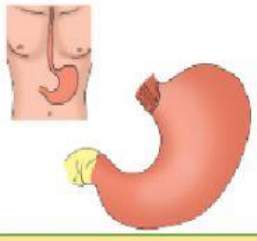


SOAL CHECK BOX

Yang termasuk organ pencernaan adalah ….

- [ ] Telinga
- [ ] Mulut
- [ ] Lambung
- [ ] Usus besar

SOAL JOIN ARROW

LIVEWORKSHEETS



Usus Besar



Lambung

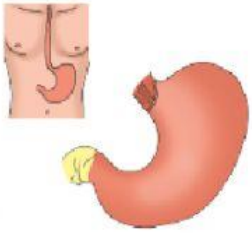

Mulut

SOAL DRAG AND DROP

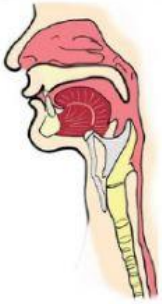

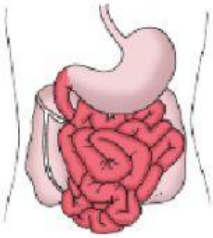



Usus Halus

Mulut

Kerongkongan

LIVEWORKSHEETS