E1 Indica el desplazamiento total y la longitud de la trayectoria en los siguientes gráficos

GRÁFICO 1

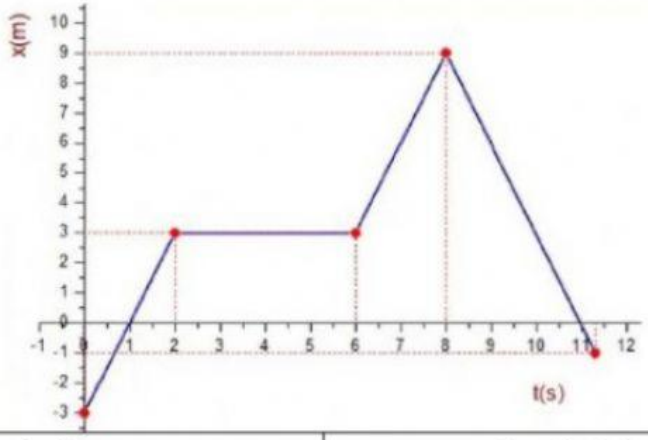

Desplazamiento	Longitud de la trayectoria
9 m	-1 m
2 m	9 m
-1 m	22 m
Ninguna opción es correcta	Ninguna opción es correcta

GRÁFICO 2

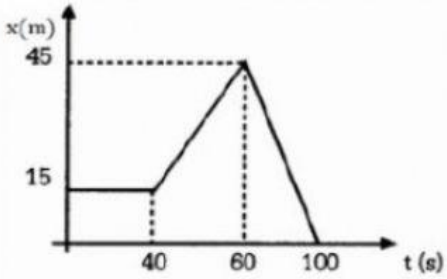

Desplazamiento	Longitud de la trayectoria
-15 m	90 m
15 m	45 m
30 m	75 m
Ninguna opción es correcta	Ninguna opción es correcta

E2 Indica la velocidad en el tramo indicado
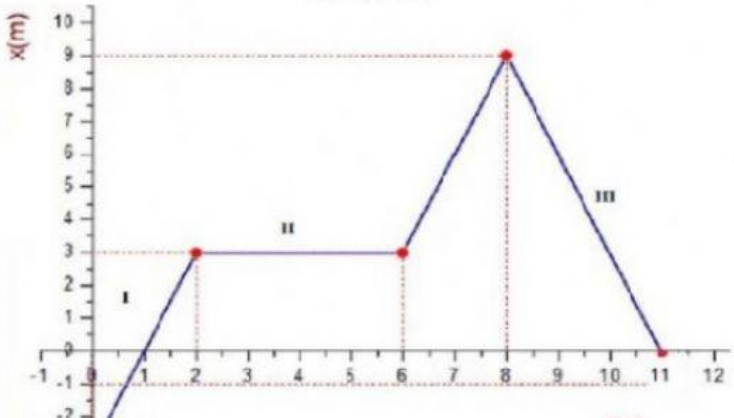
GRÁFICO 1