LEMBAR KERJA PESERTA DIDIK (LKPD)
PERKEMBANGBIAKAN VEGETATIF BUATAN

A. PERKEMBANGBIAKAN VEGETATIF ALAMI

Tentukan alat perkembangbiakan vegetatif alami yang dimiliki oleh tanaman pada gambar tersebut!













B. PERKEMBANGBIAKAN VEGETATIF BUATAN

Tentukan Cara Perkembangan Vegetatif Buatan dari tumbuhanpada Gambar Tersebut!

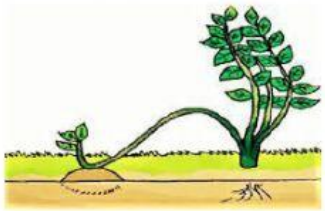

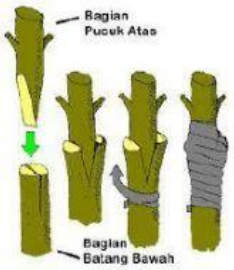




LIVEWORKSHEETS

C. TAHAPAN MENCANGKOK

Urutkan tahapan mencangkok dengan cara memasukkan gambar ke dalam kotak sesuai dengan urutan yang tepat!

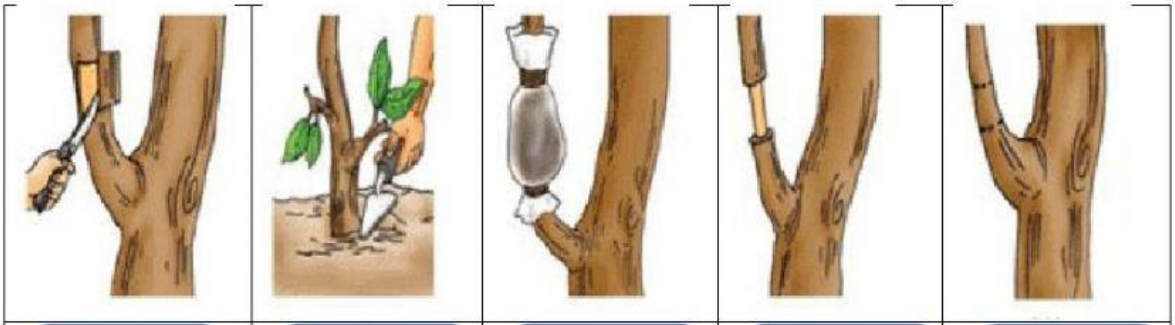

1	2	3	4	5

Urutkan tahapan Okulasi dengan cara memasukkan gambar ke dalam kotak sesuai dengan urutan yang tepat!



1	2	3	4

LIVEWORKSHEETS

LIVEWORKSHEETS