EVALUACIÓN DIÁGNOSTICA DE MATEMÁTICA

INSTRUCCIONES:
-Lea atentamente cada actividad.
-Responda con precisión y seguridad.
- Recuerde que debe trabajar de forma individual y con total honestidad. **¡Usted puede ¡**

DESARROLLO

1. Arrastre las partes de una fracción

Línea de Fracción

Denominador

Numerador

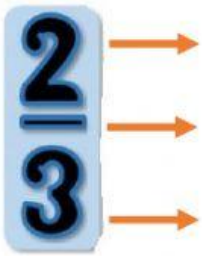

2. Escriba la fracción de acuerdo al gráfico

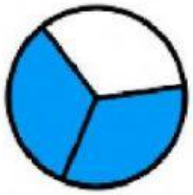

$\frac{2}{3}$

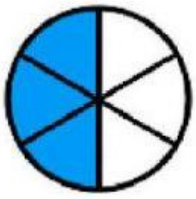

$\frac{\square}{\square}$

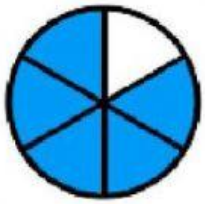

$\frac{\square}{\square}$



$\frac{\square}{\square}$

3. Lea y une con líneas según la definición que corresponda

Se componen de un número entero y una fracción.	Es aquella en la que el numerador es mayor que el denominador.	Es aquella en la que el numerador es menor que el denominador.
Fracción impropia	**Fracción propia**	**Fracción mixta**

LIVEWORKSHEETS

4. Resuelva las siguientes sumas de números naturales

3 5 + 6 3 □ □	4 8 + 3 1 □ □	6 4 + 3 3 □ □

5. Lea con atención y resuelva el siguiente problema de razonamiento

Luciana compró una camiseta de S/52 soles. Si pagó con S/65, ¿cuánto recibió de vuelto?



Respuesta:

D	U

6. Resuelva las siguientes multiplicaciones

34 x 5 □ □ □	434 x 2 □ □ □	362 x 12 + □ □ □ □ □ □ ● □ □ □ □

7. Una los puntos de cada cuadrilátero con sus respectivos nombres



- Trapezoide
- Paralelogramo
- Trapecio

LIVEWORKSHEETS

8. Complete con el nombre correcto de cada triángulo

El triángulo _____ tiene un lado diferente

El triángulo _____ no tiene ningún lado igual

El triángulo _____ tiene todos los lados iguales

9. Ubique las medidas de longitud correctamente en la siguiente tabla

dam	mm	km	dm	cm

	hm		m			

10. Observe la regla y escriba cuántos centímetros mide cada objeto

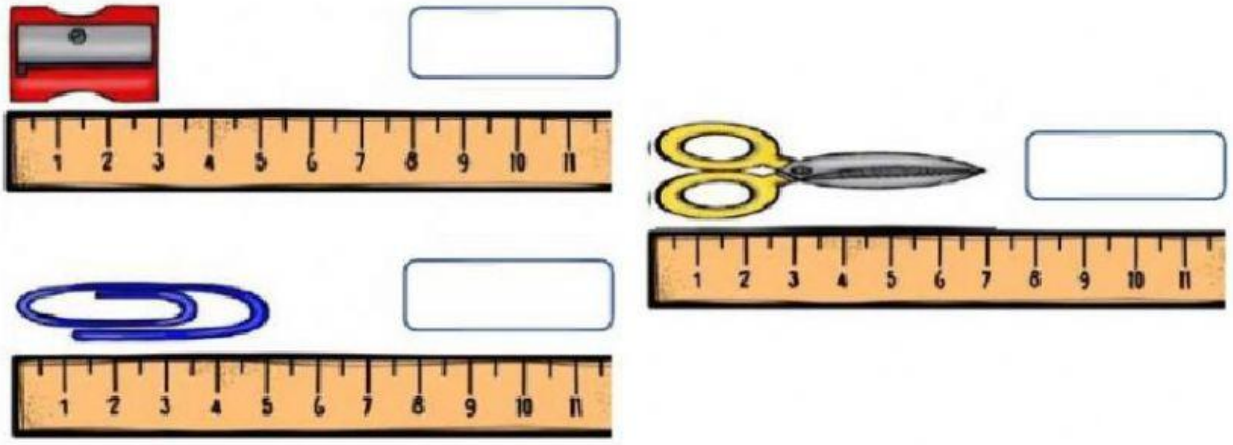

LIVEWORKSHEETS