# В СВЕТА НА ФОКУСИТЕ

## СЪБИРАНЕ НА 6 С ЕДНОЦИФРЕНО ЧИСЛО С ПРЕМИНАВАНЕ



1. Попълни и пресметни.

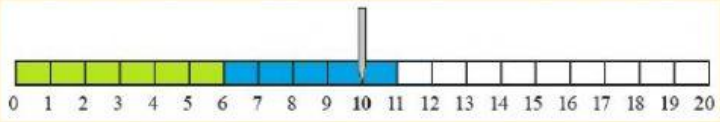


6 + 5 = 10 + ☐ = ☐

4 + ☐

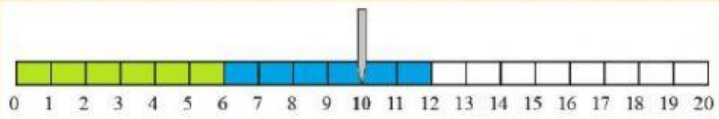


6 + 6 = 10 + ☐ = ☐

4 + ☐

2. Попълни и пресметни.

5 + 6 = ☐ + 10 = ☐

☐ + 4

5 + 6 = ☐

5 + 6 = 6 + 5 = ☐

6 + 6 = ☐ + 10 = ☐

☐ + 4

6 + 6 = ☐

3. Пресметни и попълни.

с 5 по-малко

с 6 по-голямо

| | | | | | |
|---|---|---|---|---|---|
| | | | | | |
| 5 | 6 | 7 | 8 | 9 | 10 |
| | | | | | |

4. Попълни.

12 = 6 + 6

Попълни:

Събираемите са ☐ и ☐.

Сбор е ☐ + ☐ и ☐.

Събираемите са 5 и 6.

Попълни:

Сборът е ☐ + ☐.

Сборът е ☐.

LIVEWORKSHEETS

5. Попълни липсващото число.

6 + ☐ = 11



6 + ☐ = 12

6. | > | = | < |

13 ☐ 6 + 5

☐

6 + 6 ☐ 14

☐

4 + 7 ☐ 6 + 5

☐ ☐

7. Алекс и Галя подготвили фокус. Алекс използвал 7 топчета, а Галя – 6 топчета. Колко топчета общо са използвали децата за фокуса си?

Решение: ☐

Отговор: ☐ топчета

8. Състави задача по картината и я реши.

☐

? карти

Решение: ☐

Отговор: ☐ карти

LIVEWORKSHEETS