Prof. Alejandra Lagos Moreno

Evaluación de proceso – Historia, Geografía y Ciencias Sociales
- 3° básico -

Nombre: ***Fecha:***

Puntaje Ideal: ***Puntaje Real:*** ***Nota:***

Habilidades cognitivas: Comprender el marco espacial de la antigua Roma y localizar sus principales elementos.
Instrucciones generales: Lee atentamente la prueba antes de contestar. Responde usando lápiz grafito.

Ítem I. Selección única
Marca con una **×** la alternativa correcta. (1 punto cada 1, 5 puntos en total).

Observa el planisferio y luego responde la pregunta 1.

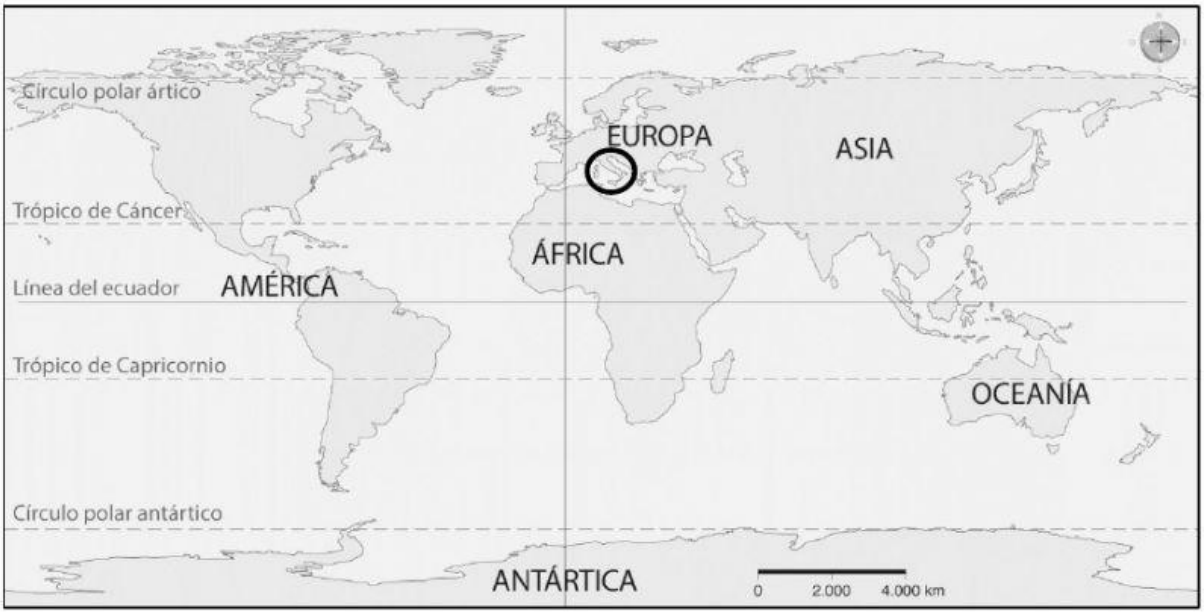

1. Según el planisferio, ¿en qué lugar surgió la antigua Roma?

   A. En una península de Europa.
   B. En medio del Océano Atlántico.
   C. En una isla de Asia.

LIVEWORKSHEETS

Observa el mapa y luego responde las preguntas 2 y 3.

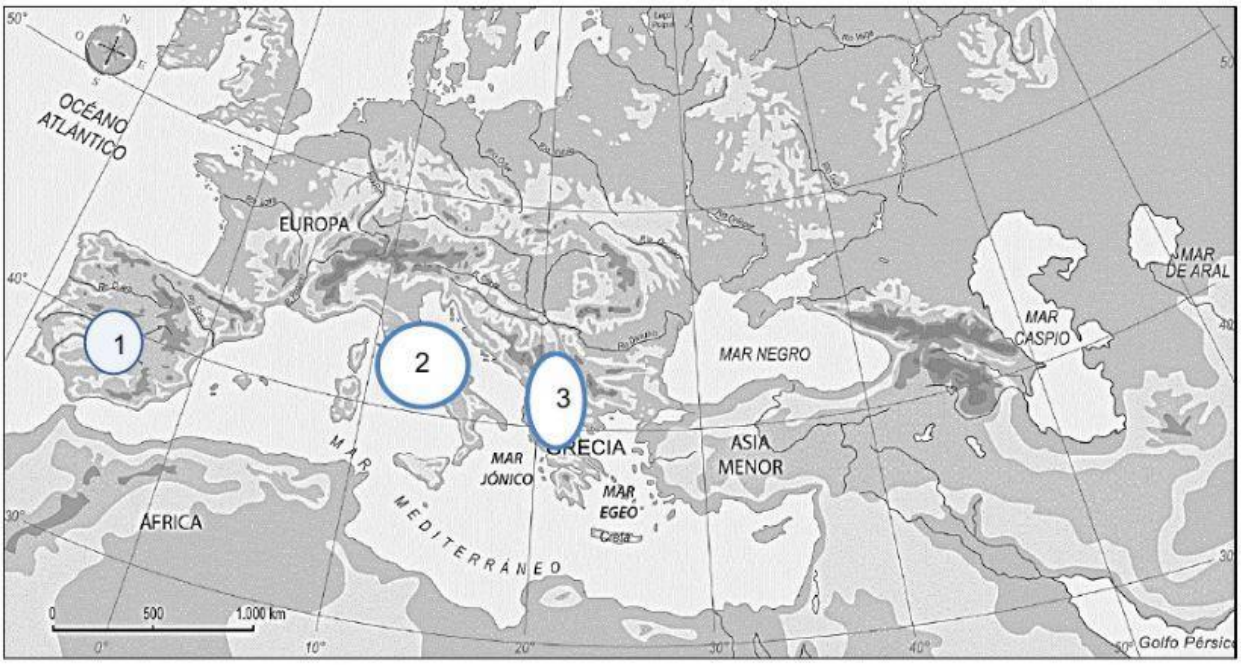

2. Los antiguos romanos expandieron su cultura por las costas del mar Mediterráneo. ¿Qué número indica el lugar exacto en que surge la civilización romana?

   A. 1.
   B. 2.
   C. 3.

3. ¿Cuál de las siguientes opciones es correcta en relación con la ubicación de los antiguos Romanos?

   A. Vivieron en un istmo.
   B. Habitaron al interior del continente.
   C. Vivieron en una península.

4. , Qué características tenía el territorio en el que surgió la civilización romana?

   A. La presencia de dos cordilleras.
   B. La existencia de cuatro valles
   C. La presencia de extensas tierras planas.

LIVEWORKSHEETS

5. ¿Qué parecido tiene el espacio geográfico de romanos y chilenos?

   A. La presencia de un gran desierto.
   B. La presencia de costa y cordilleras.
   C. La presencia de grandes glaciares.

Ítem II. Verdadero o falso.
Escribe una V si la afirmación es verdadera y una F si la afirmación es falsa.
(1 punto cada 1, 10 puntos en total).

a) _____ Los romanos surgen en una isla en medio del mar Mediterráneo.

b) _____ El territorio romano no sufrió cambios a lo largo de su historia.

c) _____ El mar Tirreno es uno de los que rodean la península itálica.

d) _____ Las características del espacio geográfico impactan la forma en que vive un grupo humano.

e) _____ Los romanos conquistaron territorio americano.

f) _____Los romanos aumentaron su territorio conquistando otros pueblos.

g) _____ El territorio romano es montañoso.

h) _____ La cordillera de Los Andes se encuentra en territorio romano.

i) _____ Los romanos surgen en la Península de los Balcanes.

j) _____ El lugar de origen de la civilización romana corresponde actualmente a Italia.

LIVEWORKSHEETS

Ítem III. Completación.

Escribe en la parte correcta del mapa los números asociados a cada uno de los siguientes lugares:

1 Península itálica 2 Península de los Balcanes. 3 Mar mediterráneo
.4 Europa. 5 Asia. 6 África.
7 Mar Tirreno. 8 Mar Jónico. 9 Mar Adriático.
10 Roma.

(2 puntos cada 1,20 puntos en total).

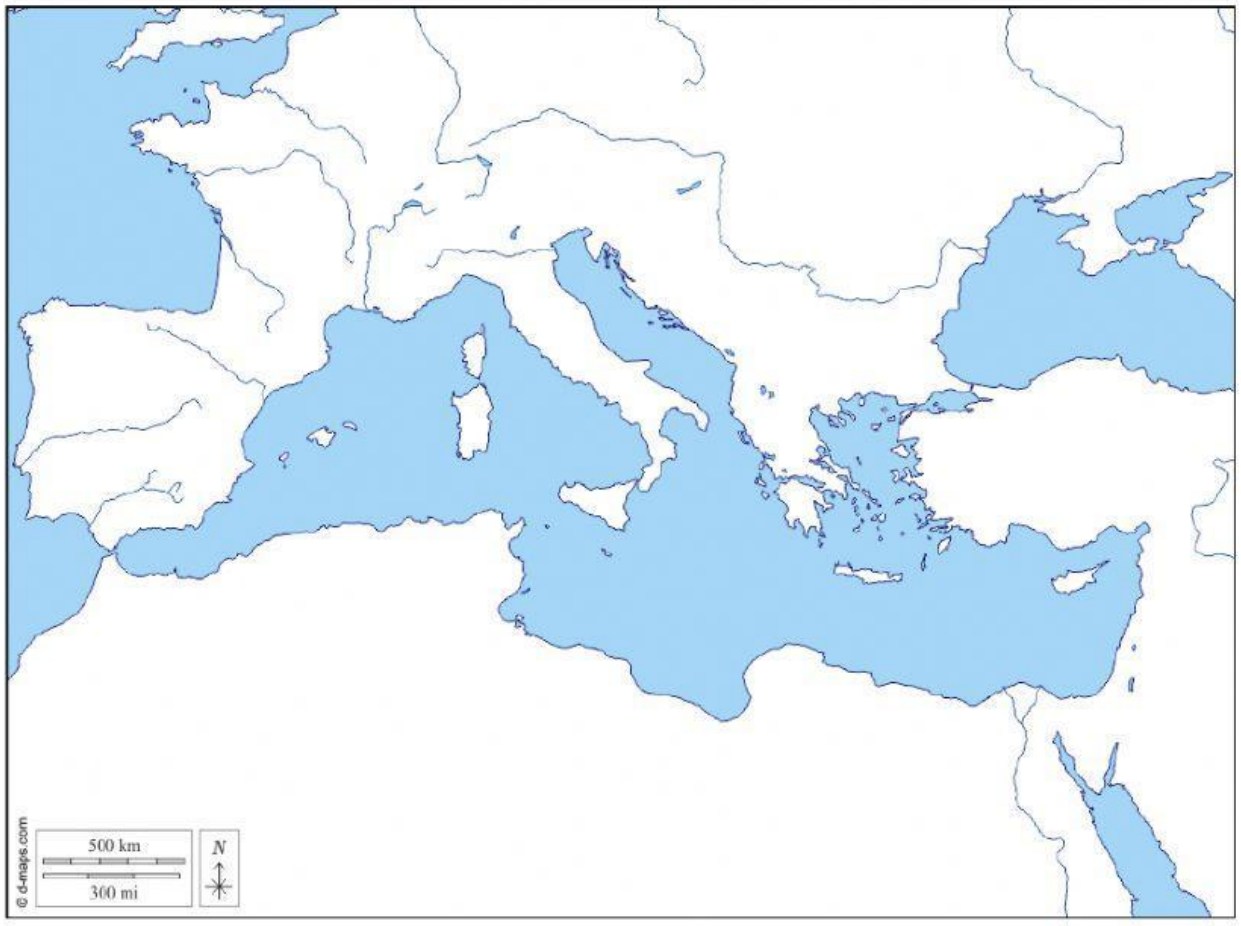

LIVEWORKSHEETS

LIVEWORKSHEETS