FICHA REPASO UNIDADES DE MEDIDA II

1.- Transforma las siguientes unidades de longitud .
Fíjate bien en la tabla como máximo se darán tres saltos
hacia delante (x10 x100 x1000) o hacia atrás (: 10 :100 :1000)

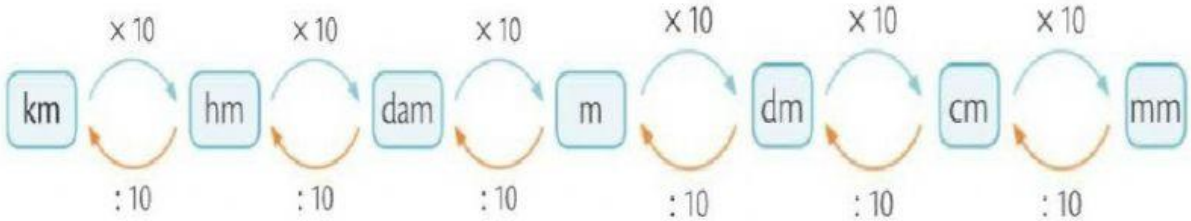

3,5 KM →	HM	m ←	42cm
KM ←	3765 M	2,25 cm →	mm
6 M →	dm	KM ←	67 DAM

2.- Transforma las siguientes unidades de capacidad . Fíjate bien en la tabla como máximo se darán tres saltos
hacia delante (x10 x100 x1000) o hacia atrás (: 10 :100 :1000)

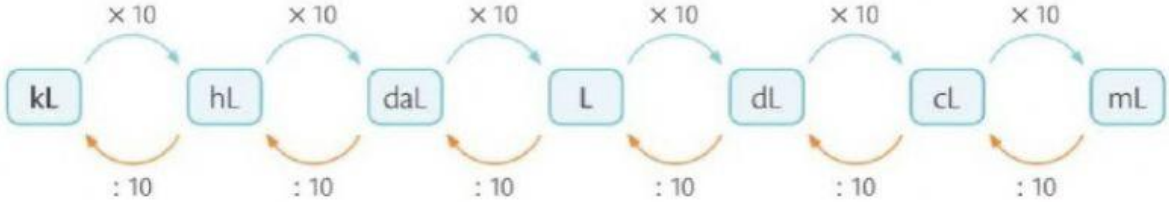

35 HL →	dl	89 DAL →	dl
L ←	334 ml	3,7 l →	cl
KL ←	23 HL	l ←	87 cl

3.-Transforma las siguientes unidades de masa .
Fíjate bien en la tabla como máximo se darán tres saltos
hacia delante (x10 x100 x1000) o hacia atrás (:10 :100 :1000)

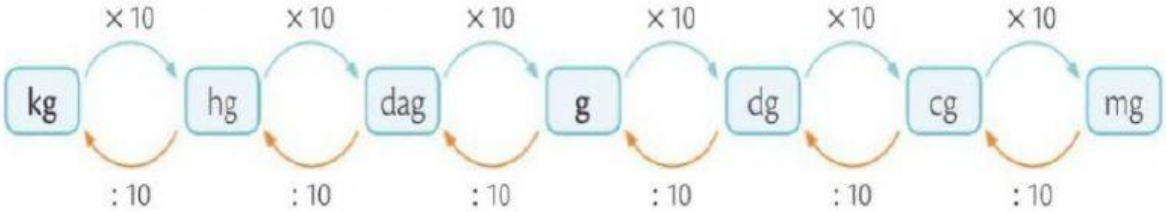

KG ←	12 DAG	2,23 KG →	G
DAG ←	44,3 G	dg ←	67,9 cg
34,5 G →	dg	3,1 G →	mg

LA CLASE DEL CAPITÁN

4.- Pasar de expresión compleja a incompleja

Medida Simple: 234,6

km	hm	dam	m	dm	cm	mm

Medida Simple: 56789cm

km	hm	dam	m	dm	cm	mm

Medida Compleja: 3KM 3HM 4dm

km	hm	dam	m	dm	cm	mm

Medida Compleja: 46HM 6M

km	hm	dam	m	dm	cm	mm

Ahora te propongo 4 problemas uno de sumar, uno de restar, uno de multiplicar y uno de dividir.

5.- Los lunes corro 4567m los martes 8765m y los miércoles 9887m ¿ Cuántos metros he corrido en total?

Solución: _____

6.- Durante durante 11 h un coche ha recorrido 2750km ¿Cuántos Kilómetros ha recorrido en 1h?

¿?										

2750Km

Solución: _____

7.-Un bote de refresco tiene 225 cl. ¿Cuántos cl hay en 36 botes de refresco iguales ?

Solución: _____

8.-Un camión lleva 56.332 kg de manzanas y una furgoneta lleva 37.599kg. ¿ Cuántos kilos de menos lleva la furgoneta?

Solución: _____

LA CLASE DEL CAPITÁN