LEMBAR KERJA PESERTA DIDIK
(Kelompok Bawah)

KOORDINAT KARTESIUS

(Posisi Garis Terhadap Sumbu-X dan Sumbu-Y)

IDENTITAS

Nama :

Kelas :

Sekolah :

Untuk kelas

VIII

Semester I

SMP/MTs

LIVEWORKSHEETS

LEMBAR KERJA PESERTA DIDIK (Kelompok Bawah)

ALUR TUJUAN PEMBELAJARAN

Peserta didik dapat menentukan posisi garis terhadap sumbu-X dan sumbu-Y

LIVEWORKSHEETS

LEMBAR KERJA PESERTA DIDIK (Kelompok Bawah)

PETUNJUK PENGERJAAN

1. Bacalah LKPD ini dengan cermat.
2. Kerjakan secara berurutan.
3. Diskusikanlah LKPD ini dengan teman sekelompokmu.
4. Tanyakan pada guru apabila mendapat kesulitan atau kurang jelas dalam mengerjakan LKPD
5. Tuliskan jawabanmu pada LKPD ini.
6. Setelah selesai mengerjakan LKPD klik tombol "Finish" dan setiap kelompok akan mempresentasikan hasil diskusi kelompoknya di depan kelas.

7. Klik "Email my answers to my teacher"

8. Isi kolom yang kosong. Bagian "Enter your teacher's email or key code" diisi sesuai dengan instruksi dari guru, kemudian klik "Send"

LIVEWORKSHEETS

Kegiatan 1. Menentukan posisi garis terhadap sumbu-X dan Sumbu-Y

1. Coba amati gambar dibawah ini!

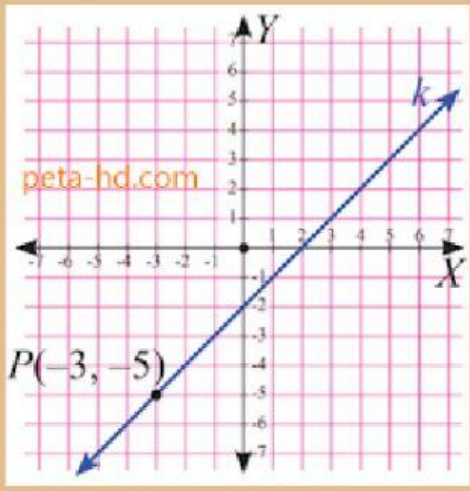

Setelah mengamati gambar tersebut apa kedudukan garis k yang melalui titik P(-3,5) terhadap sumbu-X dan sumbu-Y? Coba kalian pilih dibawah ini yang menurutmu benar!

A Sejajar **B** Tegak Lurus **C** Memotong

2. Coba amati gambar dibawah ini!

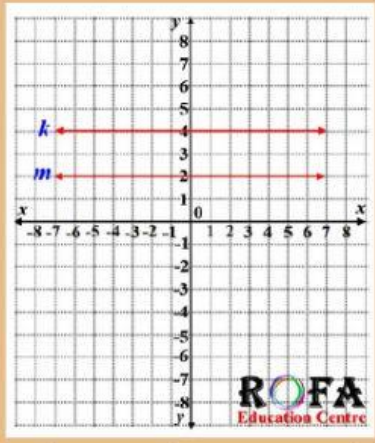

Garis *k* dan *m* merupakan dua garis yang sejajar dengan sumbu-X dan sumbu-Y tetapi tidak tegak lurus dengan sumbu-Y.

Menurut kalian benarkah pernyataan tersebut? Silahkan klik dibawah ini sesuai jawaban kalian

BENAR **SALAH**

LIVEWORKSHEETS

3. Coba amati gambar dibawah ini!

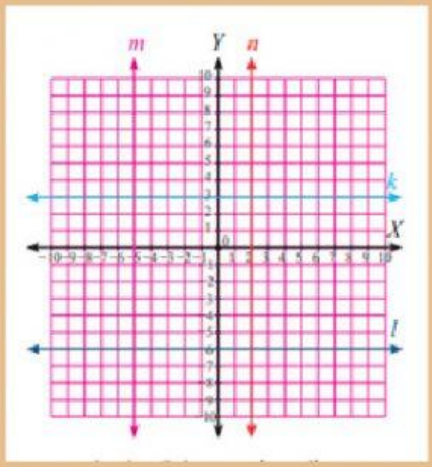

Setelah kalian mengamati garis tersebut cobalah pasangkan pertanyaan dengan jawaban yang tepat

Garis yang berada di bawah sumbu-X adalah...	5 Satuan
Garis yang berada di kanan sumbu-Y adalah...	Garis *l*
Jarak garis m terhadap sumbu-Y adalah...	3 Satuan
Jarak garis k terhadap sumbu-X adalah...	Garis *n*

SELAMAT MENGERJAKAN

LIVEWORKSHEETS