COLEGIO BAUTISTA MIES **Examen de Agosto**		
ASIGNATURA: Matemática	GRADO: 1°	SECCIÓN: "A"

Indicación: Lee cada pregunta y responde correctamente.

1- Desarrolla los siguientes problemas matemática. (Sumas)

En una fiesta hay 4 niños. Cada niño toma un plato con pastel. Quedaron 3 platos con pastel. ¿Cuántos platos con pastel había al inicio?

1- Dibuja la gráfica de círculos correspondiente:

Niños 

Platos 

2- Escribe el PO: ☐ ☐

3- Calcula la respuesta: ☐ platos

Juan sembró 5 flores, una por maceta. Sobraron 3 macetas. ¿Cuántas macetas tenía?

1- Dibuja la gráfica de círculos correspondiente:

Flores 

macetas 

2- Escribe el PO: ☐ ☐

3- Calcula la respuesta: ☐ macetas

LIVEWORKSHEETS

2- Desarrolla los siguientes problemas matemática. (Restas)

Hay 16 libros en un estante y 4 niños. Cada niño toma un libro. ¿Cuántos libros quedan?

1- Dibuja la gráfica de círculos correspondiente:

Libros 

Niños 

2- Escribe el PO: ☐ ☐

3- Calcula la respuesta: _____ libros

Carlos tiene 15 bombones y sus 5 amigos toman un bombón. ¿Cuántos bombones le quedan?

1- Dibuja la gráfica de círculos correspondiente:

Bombones 

Niños 

2- Escribe el PO: ☐ ☐

3- Calcula la respuesta: _____ bombones

LIVEWORKSHEETS

3- Desarrolla los siguientes problemas matemática.

En la fiesta de cumpleaños de Jorge hay 6 niños y a cada niño le han dado un plato, pero sobran 4 platos. ¿Cuántos platos hay?

1- Dibuja la gráfica de círculos correspondiente:

Niños 

Platos 

2- Escribe el PO: ☐ ☐

3- Calcula la respuesta: ☐ platos

En la fiesta hay 5 niños sentados en sillas y sobran 2 sillas. ¿Cuántas sillas hay?

1- Dibuja la gráfica de círculos correspondiente:

Niños 

Sillas 

2- Escribe el PO: ☐ ☐

3- Calcula la respuesta: ☐ sillas

LIVEWORKSHEETS