1. Una el texto con el gráfico correspondiente

Angulo agudo

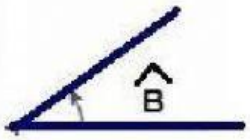

Angulo recto

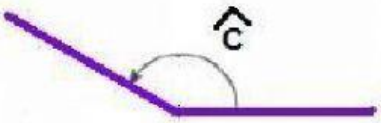

Angulo obtuso

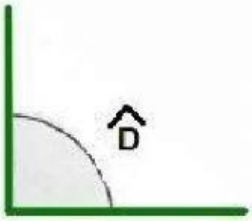

2. Observa la imagen y selecciona la respuesta correcta, el ángulo que representa la boca del pájaro es:



a. Recto b. Obtuso c. Agudo

LIVEWORKSHEETS LIVEWORKSHEETS