***Ubica el nombre de las principales <u>placas tectónicas</u> en el lugar que corresponda:**

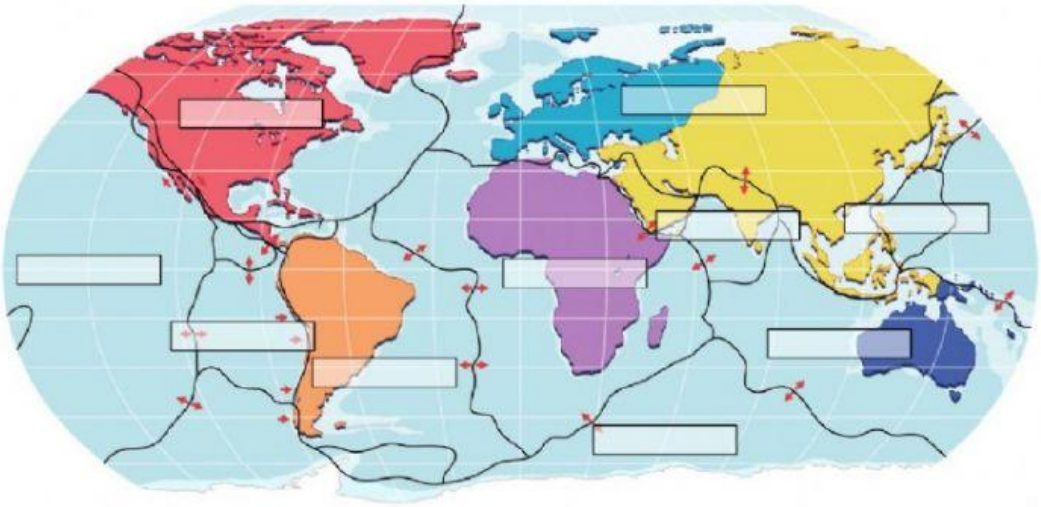

Norteamericana	Del Pacífico	Antártica	Indoaustraliana	Índica
Sudamericana	De Nazca	Euroasiática	Filipina	Africana

***Une la denominación con la imagen:**

Placas Divergentes



Placas transcurrentes

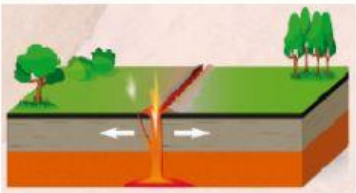

Placas Convergentes

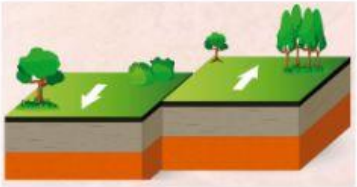

***Une la denominación con su definición:**

Sus bordes se deslizan lateralmente en paralelo una respecto a la otra. Producen grandes fallas y terremotos.

Chocan y una de las placas se introduce debajo de la otra en un proceso de subducción; creando cordilleras y volcanes.

Las placas se separan abriéndose una fractura por donde emerge magma a la superficie, creando nueva corteza.

Placas Divergentes

Placas transcurrentes

Placas Convergentes

LIVEWORKSHEETS