3ero primaria

Sucesiones Gráficas

Miss Ginna

1) Identifica la figura que continúa en la siguiente sucesión:

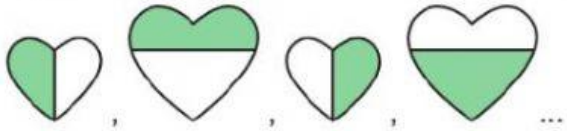

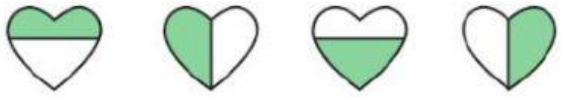

A) B) C) D)

EXPLICACIÓN

2) Determina la figura que sigue en la sucesión.

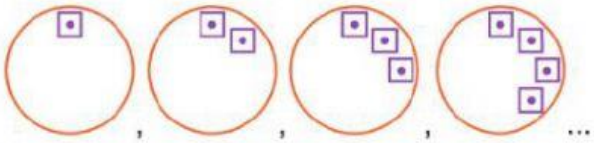

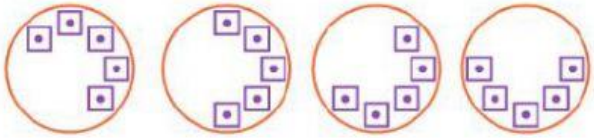

A) B) C) D)

EXPLICACIÓN

3) ¿Qué figura continúa en la sucesión?

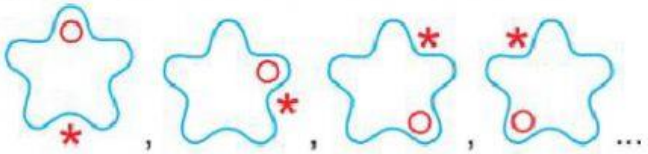

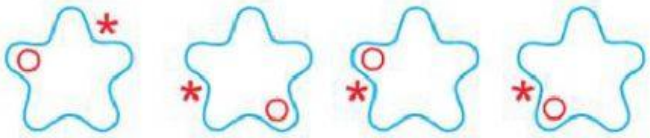

A) B) C) D)

EXPLICACIÓN

4) Indica la figura que completa en la siguiente sucesión:

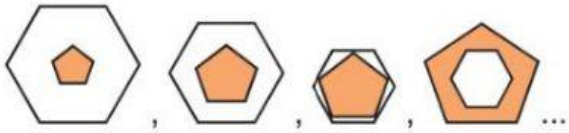

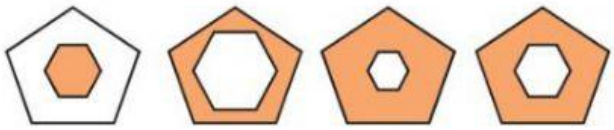

A) B) C) D)

EXPLICACIÓN

LIVEWORKSHEETS

5) ¿Qué figura continúa en la sucesión?

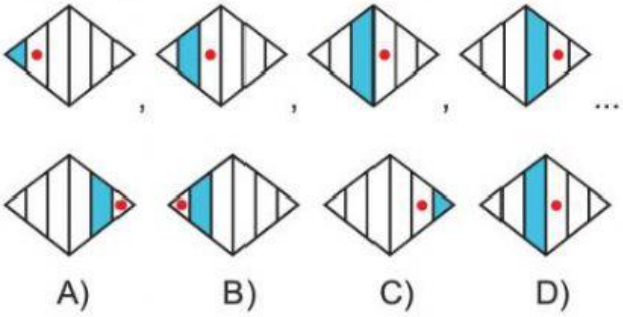

EXPLICACIÓN

6) Indica la figura que completa la sucesión.

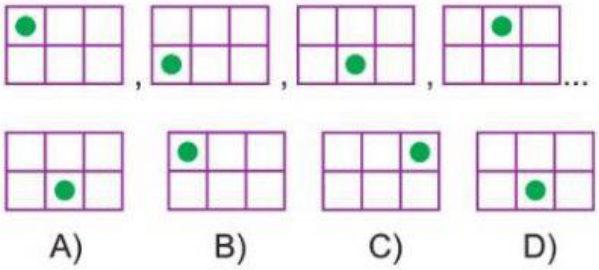

EXPLICACIÓN

7) Determina la figura que continúa en la sucesión.

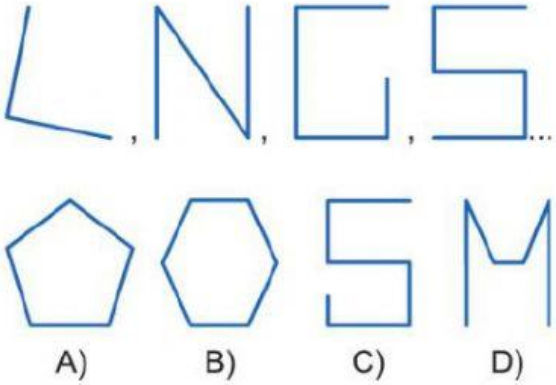

EXPLICACIÓN

8) Indica la figura que sigue en la sucesión.

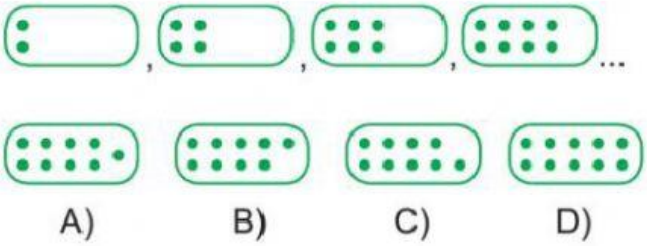

EXPLICACIÓN

LIVEWORKSHEETS