Colegio Nacional Americano
Matemática 3ro A / B
Prueba corta - Quincena XIV
Nombre: _____

Instrucciones generales: Resuelve correctamente las siguientes operaciones.

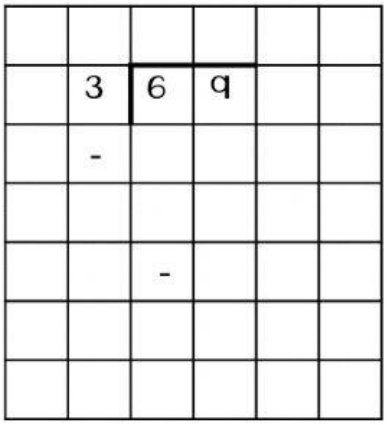

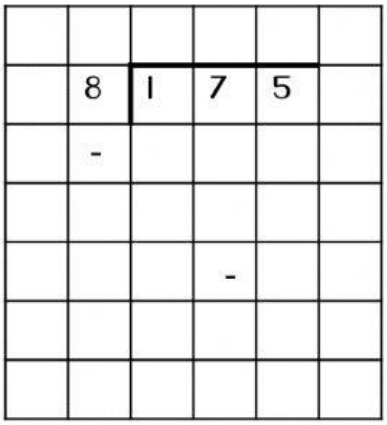

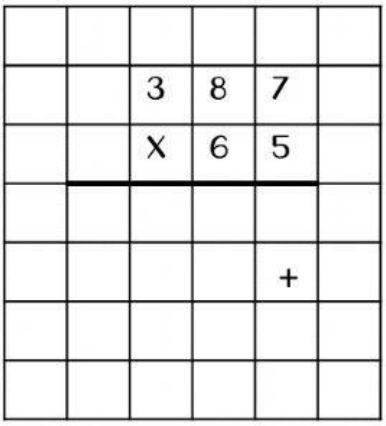

Instrucciones generales: Resuelve correctamente el problema.

Estuardo y Lupe quieren repartir 893 hojas en 6 paquetes, dejando la misma cantidad en cada uno. ¿Cuántas hojas van en cada paquete? ¿Cuántas hojas sobran? ¿Cuánto ganarán si venden cada paquete en Q48.00?

DATOS	OPERACIÓN	RESPUESTA
Escribe los datos	Suma Multiplicación Resta División	Cada paquete tiene _____ hojas. Sobran _____ hojas. Ganarán Q. _____ en total.

LIVEWORKSHEETS