GLB GLBB

Nama : .....

Kelas : .....

LIVEWORKSHEETS

Simak Video Berikut

LIVEWORKSHEETS

1. Berdasarkan video di atas, maka hubungan antara waktu, jarak, kecepatan dan percepatan dari kedua mobil adalah sebagai berikut!

	Waktu	Jarak	Kecepatan	Percepatan
Mobil A				
Mobil B				

Berdasarkan data di atas, mobil A dapat dikatakan bergerak secara _____

Dengan ciri-ciri pergerakannya adalah sebagai berikut:

- Bergerak pada lintasan _____
- Bergerak dengan Kecepatan _____
- Percepatan Benda _____

LIVEWORKSHEETS

2. Berdasarkan data di atas, mobil B dapat dikatakan bergerak secara

Dengan ciri-ciri pergerakannya adalah sebagai berikut:

- Bergerak pada lintasan
- Bergerak dengan kecepatan
- Percepatan Benda

LIVEWORKSHEETS

3. Perhatikan grafik di kecepatan terhadap waktu di bawah ini!

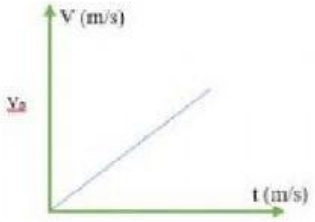

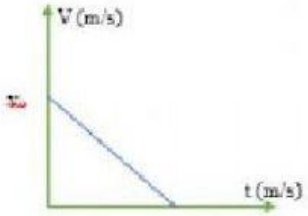

GLBB Diperlambat

GLB

GLBB Dipercepat

LIVEWORKSHEETS

4. Mobil bergerak di jalan yang lurus ditengah perjalanan, oli mesin menetes dan membentuk pola tetesan sebagai berikut:

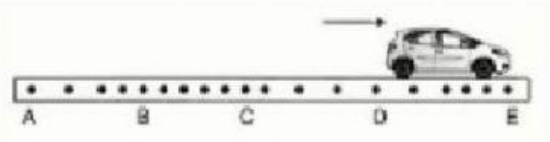

Berilah ceklis untuk jenis gerak mobil yang tepat sesuai dengan pola tetesan oli! (Boleh memilih lebih dari 1 jawaban)

- Dari A ke B mobil bergerak lurus dipercepat beraturan
- Dari B ke C mobil bergerak lurus beraturan
- Dari C ke D mobil bergerak lurus dipercepat beraturan
- Dari D ke E mobil bergerak lurus diperlambat beraturan

LIVEWORKSHEETS