LEMBAR KERJA PESERTA DIDIK
PECAHAN

Kelas : 7D

Tanggal Mengerjakan : _____

Nama : _____

Tujuan Pembelajaran:

Melalui pengamatan, tanya jawab, penugasan diskusi, siswa dapat: mengembangkan rasa ingin tahu, interaksi yang efektif dan rasa pantang menyerah secara pribadi maupun kelompok dalam:

1. Menentukan pecahan senilai
2. Menentukan nilai pecahan dengan sebuah daerah diarsir
3. Menentukan urutan pecahan
4. Menentukan hasil operasi hitung

Tentukan nama pecahan dari masing-masing bentuk pecahan di bawah ini

1	2	3	4
32%	2,7	$\frac{2}{3}$	$1\frac{1}{2}$

Pasangkan pecahan berikut dengan pecahan senilainya dengan cara menarik garis

No	Soal	Pilihan Jawab
5	$\frac{2}{3}$	60%
6	$0,125$	$\frac{1}{8}$
7	$2\frac{3}{6}$	$1\frac{1}{4}$
8	$\frac{3}{5}$	$0,25$
9	25%	$\frac{12}{18}$
		$\frac{5}{2}$

LIVEWORKSHEETS

Pasangkan gambar yang diarsir dengan pecahannya dengan cara memindahkan

No	Soal Gambar	Jawab	Pilihan Jawab
10	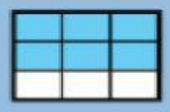		$\frac{4}{6}$
11	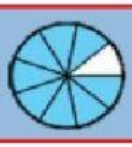		$\frac{1}{3}$
12			$\frac{7}{6}$
13			$\frac{6}{9}$
14			$\frac{7}{8}$
			$\frac{8}{9}$

Piih salah satu jawaban yang benar

15. Hasil dari 8,89 + 2,5 − 6,93 adalah … .
    A. 5,46
    B. 4,66
    C. 4,46
    D. 4,16

16. Hasil dari 15,8 × 4,3 adalah … .
    A. 77,99
    B. 76,94
    C. 69,74
    D. 67,94

LIVEWORKSHEETS

17. Urutkan dari kecil ke besar pada pecahan 0,45 ; 0,85 ; $\frac{7}{8}$ dan 78% adalah … .

A. 0,45 ; 78% ; $\frac{7}{8}$; 0,85

B. 0,45 ; 78% ; 0,85 ; $\frac{7}{8}$

C. 0,85 ; $\frac{7}{8}$; 78% ; 0,45

D. $\frac{7}{8}$; 0,85 ; 78% ; 0,45

18. Hasil dari $1\frac{2}{3} + 3\frac{3}{4} - 3\frac{4}{5} = \dots$.

A. $\frac{37}{60}$

B. $\frac{77}{60}$

C. $\frac{97}{60}$

D. $\frac{107}{60}$

19. Hitunglah $\frac{1}{4} + 1\frac{1}{2} \times 2\frac{2}{3} = \cdots$.

A. $4\frac{1}{4}$

B. $6\frac{1}{4}$

C. $6\frac{8}{9}$

D. $8\frac{2}{3}$

20. Tini mempunyai pita $5\frac{1}{2}$ m dan membeli lagi di toko $1\frac{1}{3}$ m. Pita tersebut digunakan untuk membuat hiasan bunga $2\frac{3}{4}$ m dan untuk membungkus kado $2\frac{1}{6}$ m, maka sisa pita Tini adalah … .

A. $1\frac{11}{12}$ m

B. $1\frac{1}{12}$ m

C. $\frac{11}{12}$ m

D. $\frac{10}{11}$ m

LIVEWORKSHEETS