ПОВТОРЮЄМО ГЕОМЕТРИЧНІ ФІГУРИ; ВЕЛИЧИНИ

1 Вибери назву геометричної фігури Познач цифрою 1 відрізки, цифрою 2 промені, цифрою 3 прямі лінії.

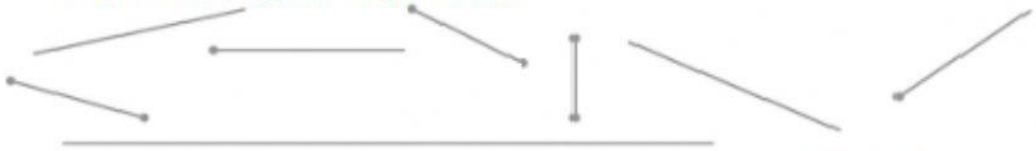

2 Попрацюй із математичними матеріалами.

3 Назви відомі тобі многокутники.

4 На які многокутники розбито кожну фігуру?

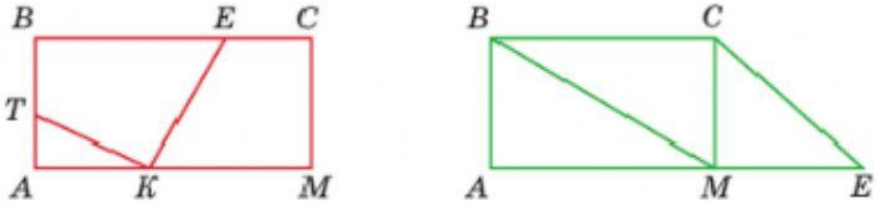

5 Виміряй довжини відрізків.

6 Згадай відомі тобі одиниці вимірювання довжини; маси; місткості. Як співвідносяться дециметр і сантиметр? метр і сантиметр?

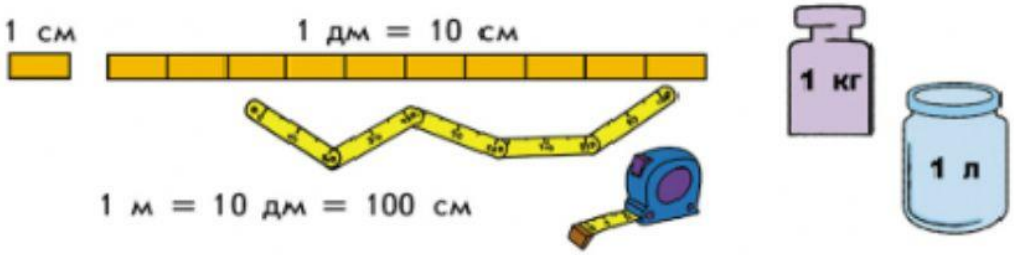

7 Заміни одні одиниці вимірювання довжини іншими.

6 м = □□ дм 4 дм = □□ см 1 м = □□□ см

30 дм = □ м 90 см = □ дм 4 дм = □□ см

12 см = □ дм □ см 1 дм 8 см = □□ см

52 см = □ дм □ см 5 дм 8 см = □□ см

LIVEWORKSHEETS