Lembar Kerja Siswa Elektronik-4

LIMAS

Petunjuk

1. Berdo'alah terlebih dahulu
2. Isilah data nama, kelompok, dan kelas
3. Ikutilah setiap langkah-langkah yang ada pada LKS-4
4. Untuk mengisi jawaban, kamu bisa klik kotak yang disediakan.
5. Jika ada kendala, klik pada "Bantuan"
6. Waktu pengerjaan selama 60 menit
7. Simpanlah secara berkala dengan klik "save for later"
8. Jika sudah selesai pilih finish

Tujuan Pembelajaran

Setelah mengerjakan LKS-4, Kamu dapat menentukan luas permukaan dan volume Limas

Nama :

Kelompok :

Kelas :

Bantuan

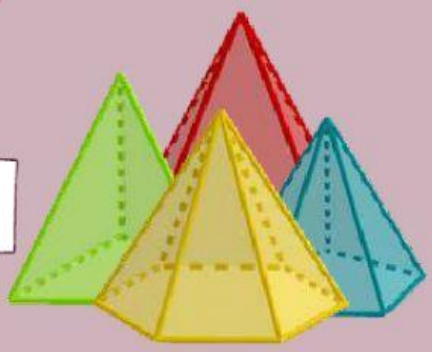

MATEMATIKA

LIVEWORKSHEETS

Ayo Mengamati

2

Ayo amati video-1 mengenai permasalahan dalam kehidupan sehari-hari yang berkaitan dengan luas permukaan dan volume limas.

VIDEO _1

Bantuan

Apa yang diketahui dari video-1?

Apa yang ditanyakan dari video-1?

Ayo Menanya

Silahkan bertanya kepada guru mengenai informasi yang belum kamu pahami dan tulislah pertanyaanmu.

Bantuan

LIVEWORKSHEETS

Ayo Mengumpulkan Informasi

3

Ayo kumpulkan informasi tentang luas permukaan limas, agar dapat menentukan banyak bahan tas yang dibutuhkan.

- Bagaimana cara untuk menentukan luas permukaan limas?

Temukan jawaban pada kegiatan 1

Bantuan

Kegiatan 1

Pindahkan lah potongan bidang alas limas dan bidang miring pada tempat yang telah disediakan

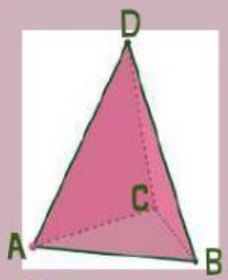

Limas segitiga

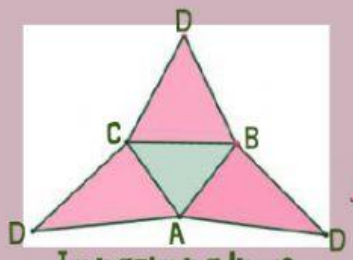

Jaring-jaring limas segitiga

Potongan jaring-jaring limas segitiga

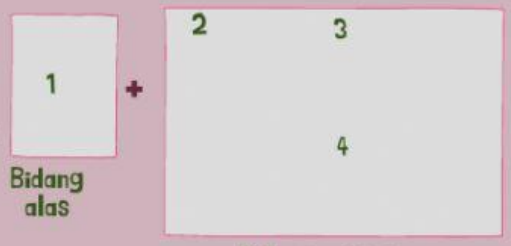

Bidang alas

Bidang miring

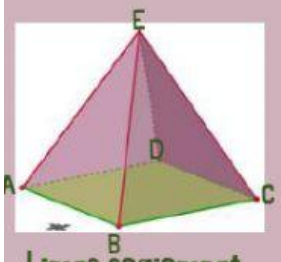

Limas segiempat

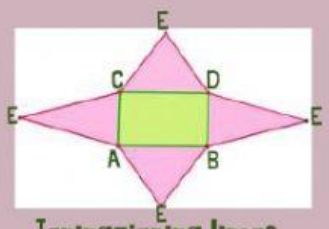

Jaring-jaring limas segiempat

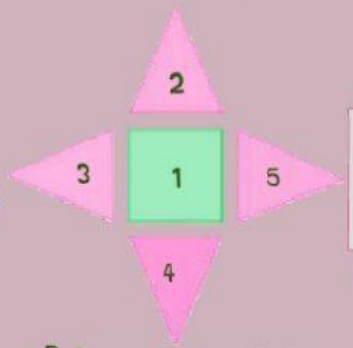

Potongan jaring-jaring limas segiempat

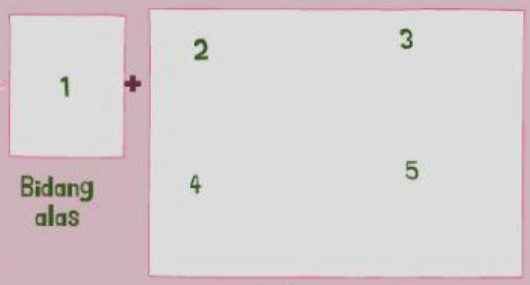

Bidang alas

Bidang miring

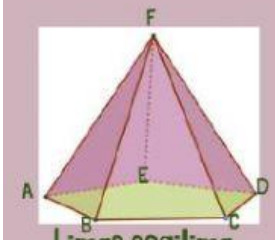

Limas segilima

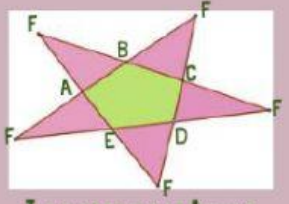

Jaring-jaring limas segilima

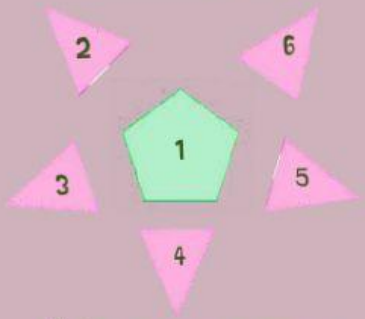

Potongan jaring-jaring limas segilima

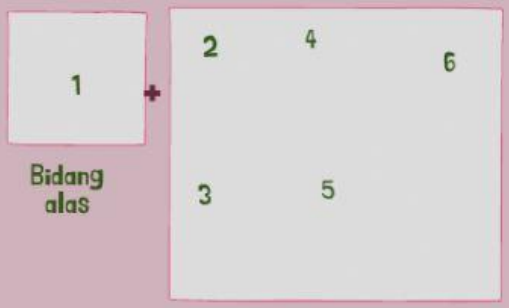

Bidang alas

Bidang miring

Jawablah beberapa pertanyaan berikut berdasarkan kegiatan 1!

Bantuan

- Apa saja bidang sisi yang membentuk limas ?

  Jawaban :
- Apakah jenis bangun datar yang membentuk bidang sisi alas dan bidang sisi tegak limas?

  Jawaban :
- Apakah rumus menentukan luas permukaan lims secara umum?

  Jawaban :

LIVEWORKSHEETS

Klik untuk melihat contoh soal

Soal Latihan Hitunglah luas permukaan limas segiempat ABCDP!

Jawab :

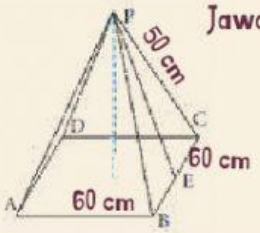

3

- Apa keterkaitan luas permukaan limas dengan banyak bahan tas yang dibutuhkan? Temukan jawaban pada video 2

VIDEO _2

Tulis jawabanmu:

Ayo Menalar

Gunakanlah informasi mengenai luas permukaan limas untuk mengetahui banyak bahan yang dibutuhkan.

LUAS PERMUKAAN LIMAS

Rancangan Tas

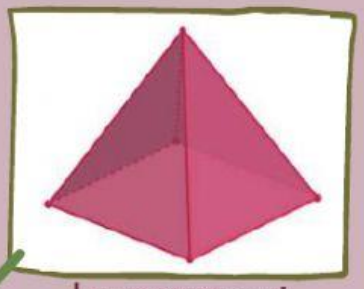

Limas segiempat



Jaring-jaring limas / tas

Untuk mengetahui banyak bahan yang dibutuhkan, kamu perlu mengetahui luas permukaan permukaan tas/limas segiempat.

Bantuan

LIVEWORKSHEETS

5

Ayo hitung luas alas limas/tas

Bantuan

Bidang alas tas

Luas alas tas= ...

= ...

= ... cm^2

Ayo hitung luas salah satu bidang miring tas yaitu segitiga BCE

Petunjuk : Gunakan segitiga EFG untuk mengetahui tinggi BCF

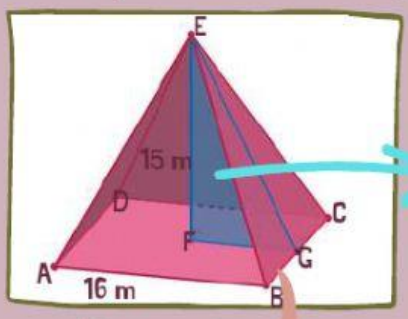

Desain tas

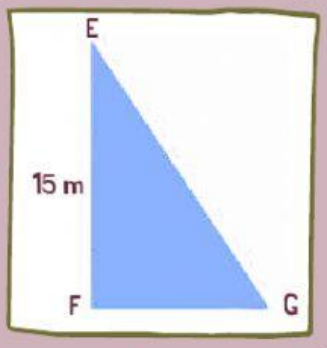

Bidang miring tas/segitiga BCE

Berapakah panjang FG?

Hitunglah panjang EG?(pytagoras)

EG = ...

EG = ...

EG = ...

EG = ...

EG = ...

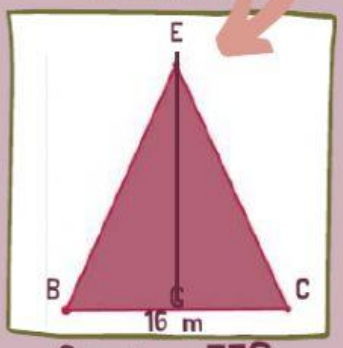

Segitiga EFG

Hitunglah luas segitiga BCE?

Luas = ...

Luas = ...

Luas = ...

Luas = ... cm^2

Ayo hitunglah luas permukaan tas yang akan diproduksi

Bantuan

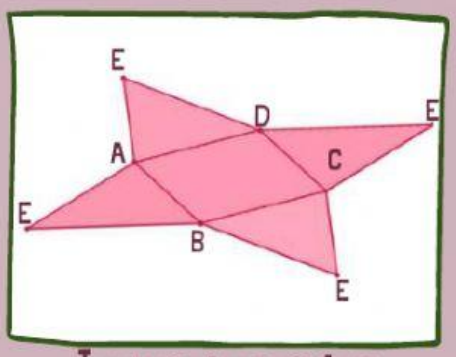

Jaring-jaring tas

Luas permukaan= ...

Luas permukaan= ...

Luas permukaan= ...

Luas permukaan= ... cm^2

LIVEWORKSHEETS

Ayo hitung bahan yang dibutuhkan untuk memproduksi 50 buat tas.

6

Banyak bahan = . . .

Banyak bahan = . . .

Banyak bahan = . . . cm^2

Bantuan

Ayo Mengumpulkan Informasi

Ayo kumpulkan informasi tentang volume limas, agar dapat menentukan banyak resin yang dibutuhkan.

Kegiatan 3

- Bagaimana cara untuk menentukan volume dari limas?

Temukan jawaban pada video 3 dan kegiatan 2

VIDEO-3

Bantuan

Kegiatan 2

Volume kubus = 6 volume limas

Volume limas = . . .

= . . .

= . . .

= . . .

= . . .

Volume limas :

LIVEWORKSHEETS

Klik untuk melihat contoh soal

Soal Latihan Latihan : Hitunglah volume limas!

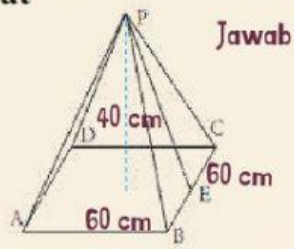

Jawab :

7

- Apa keterkaitan volume limas dengan banyak campuran resin yang dibutuhkan? Temukan jawaban pada video 4

VIDEO _4

Tulis jawabanmu:

Ayo Menalar

Gunakanlah informasi mengenai volume limas untuk mengetahui banyak resin yang dibutuhkan.

VOLUME LIMAS

Pahamilah cetakan kerajinan Pabrik B

Kerajinan berbentuk piramida



Cetakan berbentuk limas segiempat

Untuk mengetahui banyak campuran resin untuk membuat 20 buah kerajinan, kamu harus mengetahui banyak campuran resin untuk 1 buah cetakan (volume limas segiempat)

LIVEWORKSHEETS

Ayo hitung volume cetakan kerajinan yang akan dibuat pabrik B

7

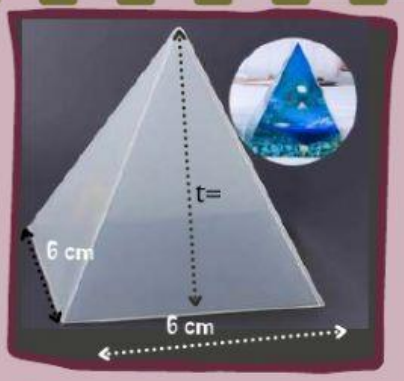

Gunakan rumus volume limas!

Volume= . . .

Volume= . . .

Volume= . . . cm^3

Gunakan rumus pytagoras

Tinggi cetakan = . . .

= . . .

= . . .

= . . . cm

Berapa banyak campuran resin untuk satu buah kerajinan?

Jawab : . . . cm^3

Bantuan

Ayo hitung banyak campuran resin untuk 20 buah kerajinan

Berapakah banyak campuran yang dibutuhkan untuk membuat 20 kerajinan?

Jawab = . . .

= . . .

= . . . cm^3

Ayo Mengomunikasikan

Setelah melakukan kegiatan di atas, buatlah kesimpulan dari materi lembar kerja-4 mengenai bangun ruang sisi datar mengenai luas permukaan dan volume limas.

Bantuan

Luas permukaan limas adalah :

Rumus luas permukaan limas adalah :

Volume limas adalah :

Rumus volume limas adalah :

Luas bahan tas yang dibutuhkan adalah :

Banyak bahas resin yang dibutuhkan adalah :

LIVEWORKSHEETS

Ayo Berlatih

8

Kerjakalah soal berikut ini dengan benar!

- Pak Janu akan melapisi atap rumah menggunakan genteng. Rancangan atap rumah terlihat pada gambar dengan ukuran 20x20x5 meter dengan ukuran satu buah genteng yaitu 40x20 cm dan 1 dus genteng berisi 10 buah genteng. Bantulah Pak Janu untuk mengetahui perkiraan genteng dibutuhkan!

Bantuan

Penyelesaian

Diketahui :

Ditanya :

Jawab:

- Bu Hani adalah seorang pengusaha sari lemon rumahan. Hari ini Bu Hani mendapat orderan 12 botol sari lemon. Sari lemon akan dikemas ke dalam kemas yang sudah disediakan pembeli dengan desain kemasan seperti gambar c. Bantulah Bu Hani mengetahui perkiraan sari lemon yang harus disiapkan!

Penyelesaian

Diketahui :

Ditanya :

Jawab:

LIVEWORKSHEETS