LAVORIAMO CON L'EURO

CHE COSA PUOI COMPRARE CON QUESTI SOLDI?
SEGNA CON UNA **X** LA RISPOSTA CORRETTA.

☐

☐ 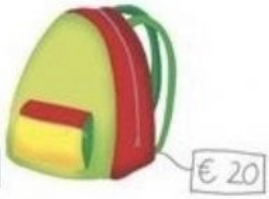

☐

☐ 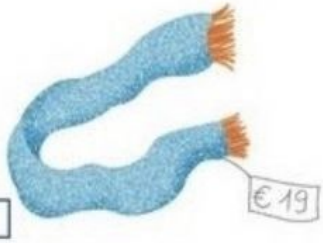

☐

☐

☐ 

☐

☐

RISOLVI IL PROBLEMA.

Antonio compra un panino e una bibita e spende in tutto **7 EURO**. Il panino costa **4 EURO**. Quanto costa la bibita?

OPERAZIONE

☐ ◯ ☐ = ☐

RISPOSTA

La bibita costa ☐ Euro.