FICHA DE CONTROL DE APRENDIZAJE DE Matemáticas

(29/5/2020)

1. Escribe cómo se leen los siguientes números.

- **682** _____
- **940** _____
- **645** _____

2. Escribe el número anterior y el posterior.

◀ 748 ▶

◀ 888 ▶

◀ 599

◀ 467 ▶

3. Completa y después ordena de mayor a menor.

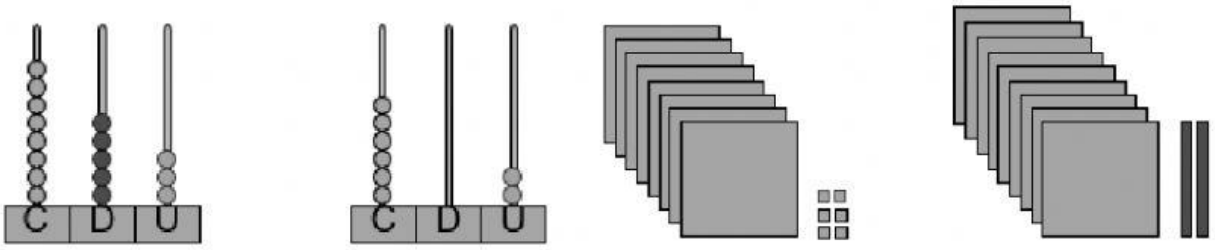

4. Escribe debajo las palabras *seguro*, *imposible* o *posible*.

Sacar una carta gris.



Sacar una carta gris.



Sacar una carta gris.



5. Calcula el doble y la mitad.

EL doble de 4 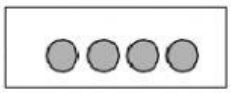 es =

La mitad de 6 es es=

6. Calcula y completa.

657	+100		-20		+200		-300		-400	

7.Calcula.

38	10	18		
+21	41	39	798	604
	+ 24	+ 22	+ 120	+ 296

71	59	691	81	423
– 20	– 36	– 172	× 6	× 2

8. Marcos ha comprado 30 paquetes de lápices.
Cada uno contiene 6 lápices. ¿Cuántos lápices hay?

Datos ▶ ◯ y ◯ Operación ▶ ◯ ○ ◯ = ◯

Solución ▶ ▭