ESCUELA SECUNDARIA No. 39 "SECUNDARIA "EUGENIO A. SOLÍS GUADIANA"
C.T. 19DES0038A REGIÓN 2 ZONA ESCOLAR 13

EXAMEN DE VOLUMEN DE PRISMAS

NOMBRE: _____ **NL:** _____ **GRUPO:** _____
FECHA: _____ **ACIERTOS:** _____ **CALIF.** _____

Instrucciones: Resuelve los siguientes problemas

1) ¿Cuál es la altura de una caja en forma de prisma rectangular si su volumen es 80 cm^3 y su base mide 4 cm de largo y 4 cm de ancho?

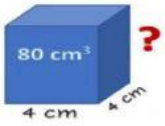

2) Calcula el volumen de los siguientes prismas:

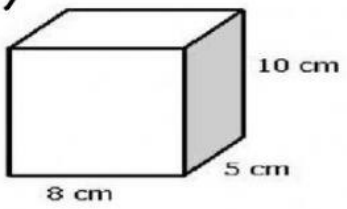

V: _____ cm^3

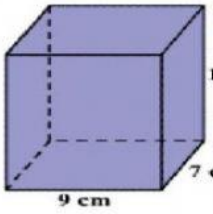

V: _____ cm^3

LIVEWORKSHEETS