Узагальнюємо і впорядковуємо знання і вміння за 1 клас

1. У якому рядку записані лише двоцифрові числа?

☐ 9, 2, 6, 5, 4

☐ 12, 15, 20, 18, 13

☐ 17, 14, 11, 20, 0

2. Визнач, яке число дорівнює 5 дм 3 см.

☐ 53 см ☐ 35 см ☐ 53 дм

3. Визач, яку фігуру з поданих розбито тільки на чотирикутники.

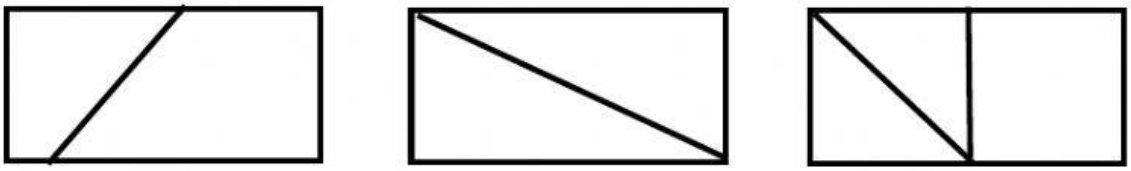

☐ ☐ ☐

4. Заміни число сумою розрядних доданків, запиши її.

8	*7*	=				

5. Запиши таке число, щоб одержати істинну нерівність.

2	*1*	>		

6. Запиши, на скільки число 40 менше, ніж число 60.

Відповідь: на ☐☐ більше.

7. Запиши, яке значення має кожен вираз.

24 + 43 = ☐☐ 65 – 52 = ☐☐

LIVEWORKSHEETS

8. Запиши числа, пропущені в істинних рівностях.

60 + ☐☐ = 70 47 - ☐ = 40

9. Розв'яжи задачу.

Після того як 12 чайок полетіли, на пляжі залишилося 10 чайок. Скільки чайок було на пляжі спочатку?

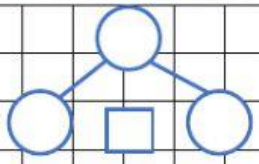

Розв'язання

Відповідь:

10. Визначте зріст котика.

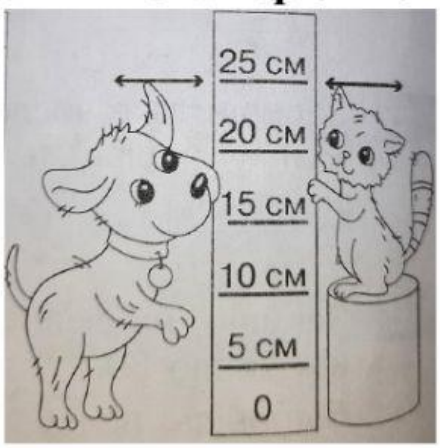

Відповідь: ☐☐ *см.*

LIVEWORKSHEETS