LEMBAR KERJA PESERTA DIDIK

(LKPD)

IPA KELAS 5

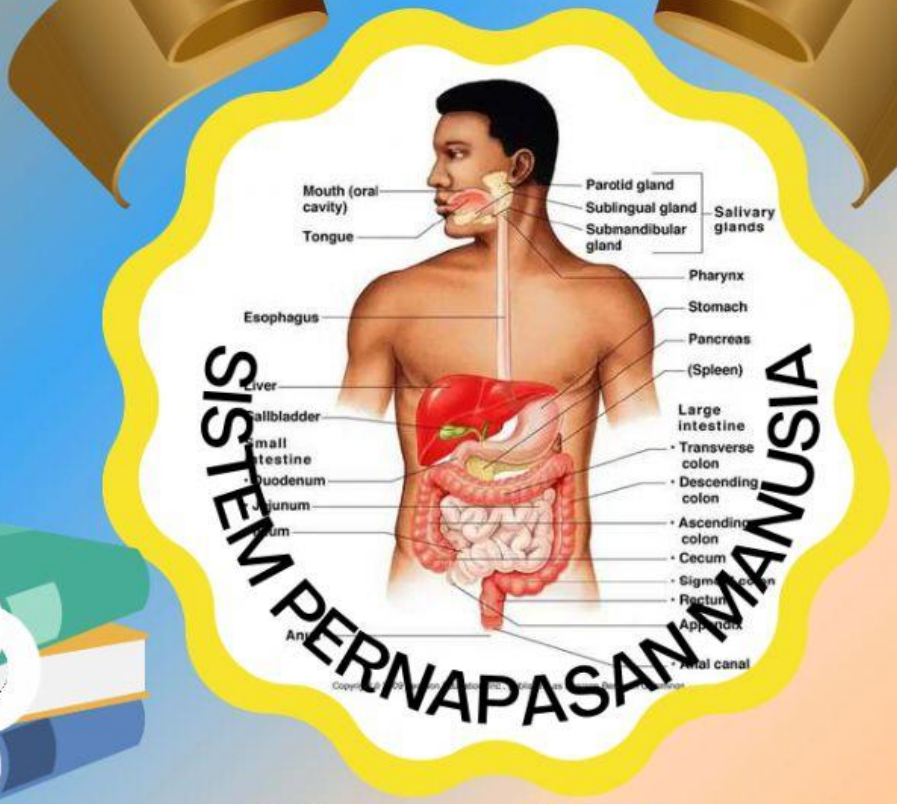



Disusun Oleh :

MARYANTO, S.Pd.SD

SDN 008 BULUH RAMPAI

KEC. SEBERIDA, KAB.INDRAGIRI HULU

LIVEWORKSHEETS

IDENTITAS SISWA

Silahkan lengkapi data berikut ini!

Nama Siswa :

Kelas :

LIVEWORKSHEETS

LKPD

Tema 3 : Makanan Sehat
Subtema 1 : Bagaimana Tubuh Mengolah Makanan ?
Kelas/Semester : V (Lima)/ I (Satu)
Pembelajaran Ke : 2 (Dua)
Muatan Pelajaran : Ilmu Pengetahuan Alam

A. KOMPETENSI DASAR (KD) DAN INDIKATOR PENCAPAIAN

Ilmu Pengetahuan Alam

Kompetensi Dasar	Indikator Pencapaian Kompetensi
3.3. Menjelaskan organ pencernaan dan fungsinya pada hewan dan manusia serta cara memelihara kesehatan organ pencernaan manusia.	3.3.1 Mengidentifikasi organ-organ pencernaan pada manusia. 3.3.2 Menguraikan fungsi-fungsi organ pencernaan pada manusia. 3.3.3 Menganalisis urutan proses pencernaan pada manusia.
4.3. Menyajikan karya tentang konsep organ dan fungsi pencernaan pada hewan atau manusia.	4.3.1 Membuat bagan organ-organ pencernaan pada manusia dan fungsinya. 4.3.2 menyusun urutan proses pencernaan pada manusia.

LIVEWORKSHEETS

Silahkan Amati Vidio di Bawah ini



LIVEWORKSHEETS

1. Tariklah nama organ pencernaan yang sesuai dengan gambar!

Mulut	Kerongkongan			
Lambung	Usus Halus	Usus Besar	Anus	

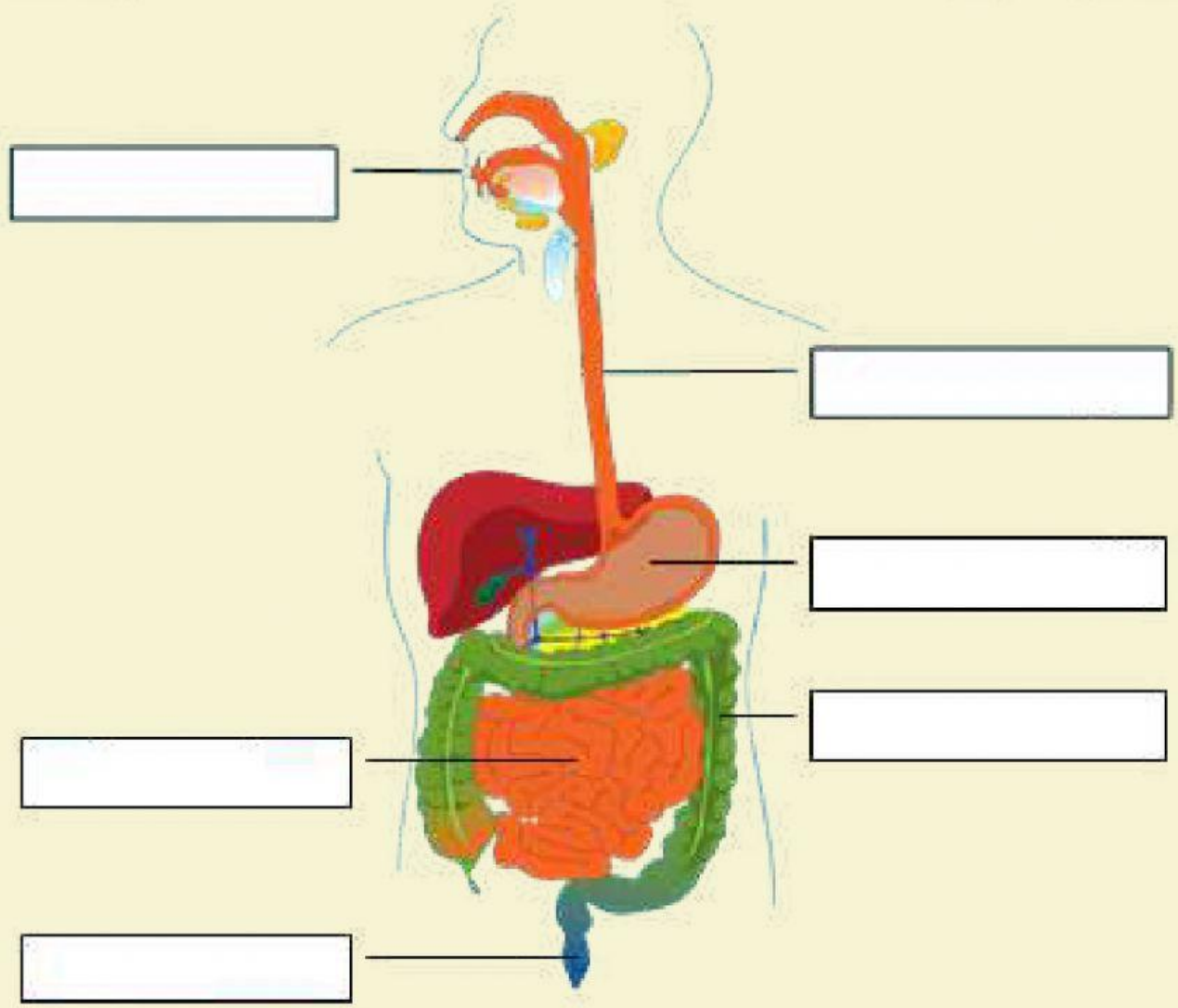

Gambar Organ Pencernaan Manusia

LIVEWORKSHEETS

Pilihlah jawaban yang kamu anggap paling benar!

2. Organ pencernaan yang terdapat pada rongga mulut yang berfungsi mengatur letak makanan adalah ...
   a. Gigi
   b. Lidah
   c. Ludah
   d. Gusi

3. Fungsi gigi taring dalam proses pencernaan fisika adalah ...
   a. merobek makanan
   c. menggilas makanan
   b. memotong makanan
   d. mengunyah makanan

4. Gerakan meremas-remas dan mencekik di kerongkongan disebut gerak . . . .
   a. Mekanik.
   c. Potensial.
   b. Genetik.
   d.Peristaltik.

LIVEWORKSHEETS

5. Pilihlah nama yang sesuai dengan nama organ pencernaan di bawah ini!

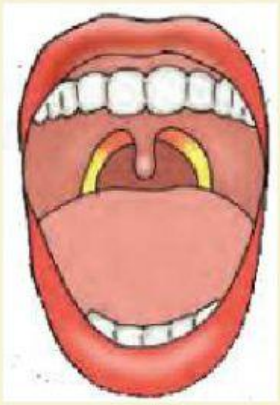

.....



.....

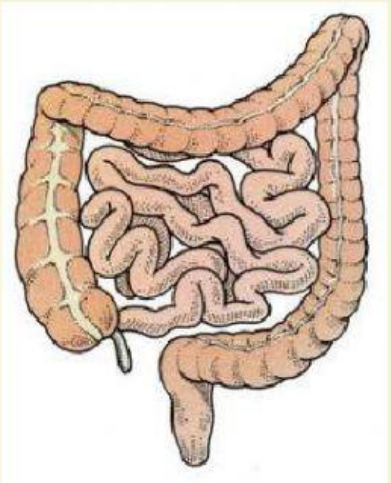

.....

LIVEWORKSHEETS

6. Cocokkan nama dan fungsi organ-organ pencernaan manusia di bawah ini dengan tepat!

Mulut	**Berfungsi untuk menyerapsari- sari makanan untuk diedarkan keseluruh tubuh.**
Lambung	**Berfungsi sebagai lubang tempat keluarnya feses dari dalam tubuh.**
Usus halus	**Berfungsi untuk mengunyah makanan menjadilebih halus agar mudah dicerna.**
Anus	**Berfungsi memecah makanan menjadi partikel-partikel kecil dengan bantuanasam dan enzim.**

LIVEWORKSHEETS

7. Cocokkan nama dan fungsi organ-organ pencernaan manusia di bawah ini dengan tepat!



Gigi Taring



Gigi Geraham



Gigi Seri

LIVEWORKSHEETS