Figuras planas. Parte 1.

1. Di si son figuras planas o no.

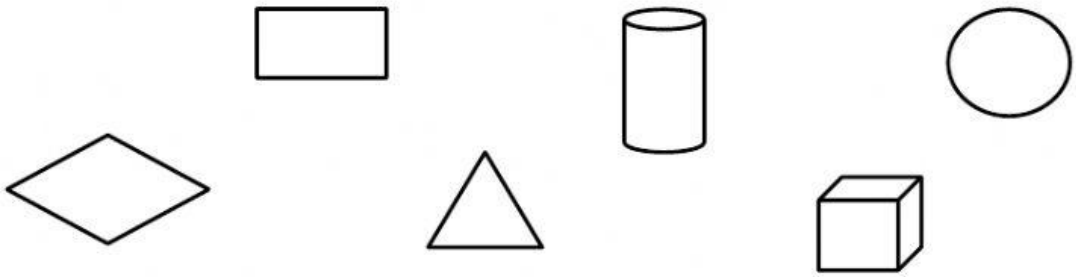

2. Une cada figura plana con su nombre.



círculo | cuadrado | hexágono | triángulo | pentágono

3. Completa como en el ejemplo.

		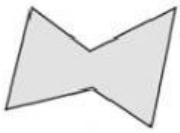		
N.º de ángulos	3			
N.º de lados	3			
N.º de vértices	3			
Nombre	Triángulo			

4. Clasifica cada triángulo según sus lados.

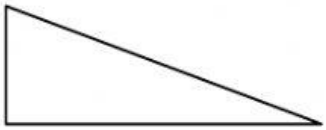

Escaleno

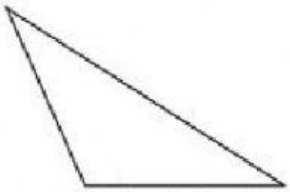

Equilátero



Isósceles

5. Completa la tabla como en el ejemplo.

	Cuadrado	Rectángulo	Rombo
Todos los lados iguales	SI		
Todos los ángulos rectos	SI		

6. Relaciona cada figura con su nombre.

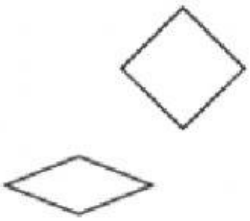

Cuadrado

Rombo

Trapecio

Rectángulo