ชื่อ-นามสกุล..... ชั้น ม.1/..... เลขที่.....

จุดยอดคู่และจุดยอดคี่

ในแต่ละข่ายงานต่อไปนี้ จุดยอดใดเป็นจุดยอคี่ และจุยอดใดเป็นจุดยอดคู่

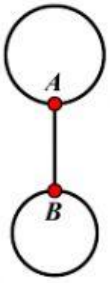

จุดยอดคี่ ได้แก่	A	B	

จุดยอดคู่ ได้แก่	A	B	

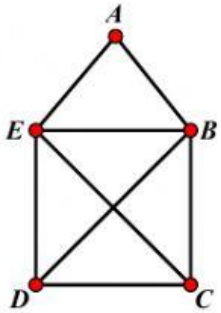

จุดยอดคี่ ได้แก่	A	B	C	D	E

จุดยอดคู่ ได้แก่	A	B	C	D	E

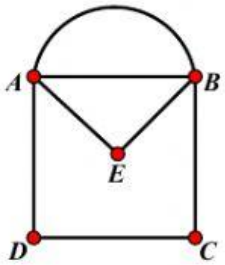

จุดยอดคี่ ได้แก่	A	B	C	D	E

จุดยอดคู่ ได้แก่	A	B	C	D	E

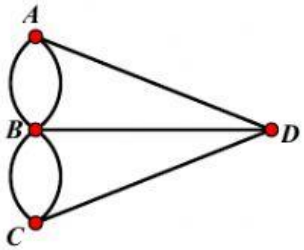

จุดยอดคี่ ได้แก่	A	B	C	D

จุดยอดคู่ ได้แก่	A	B	C	D

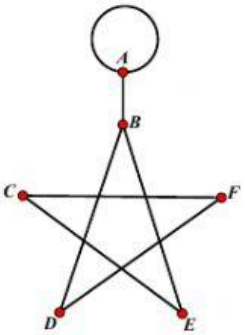

จุดยอดคี่ ได้แก่	A	B	C	D	E	F

จุดยอดคู่ ได้แก่	A	B	C	D	E	F

LIVEWORKSHEETS