Unidad Educativa SAN FRANCISCO del Alvernia

EVALUACIÓN DEL QUIMESTRE II
2021 - 2022

DATOS INFORMATIVOS:

Nombre: .....

Fecha: ..... Grado: 3ro "B"
Asignatura: Matemática
Docente: Lic. Sylvia Muzo – Lic. Pamela Valencia

INSTRUCCIONES

La docente tutora detallará las indicaciones para el ejercicio de reflexión que a continuación presentamos.

PREGUNTAS

1. Resuelve el siguiente problema de aplicación. (0,25 c/u) (1 pt.)

Laura viaja a la provincia de Esmeraldas y compra recuerdos para toda su familia. El primer recuerdo le costó 563 dólares. El segundo recuerdo tuvo un precio de $476 dólares ¿Cuánto dinero gastó Laura en los recuerdos?

DATOS	OPERACION	RESULTADO
Primer recuerdo costo..... Segundo recuerdo costo	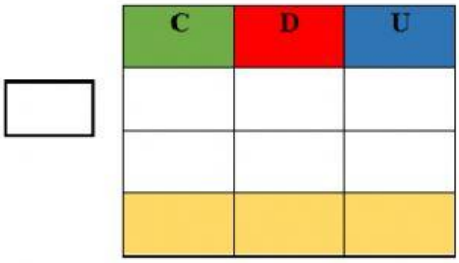	Gasto .....

2. Resuelve el siguiente problema de aplicación. (0,25 c/u) (1 pt.)

Tania tiene una fiesta y debe preparar 946 chocolates, su primo le pide prestado 599 chocolates ¿Cuántos chocolates le han quedado a Tania?

DATOS	OPERACION	RESULTADO
Prepara ..... chocolates. Presto ..... chocolates.	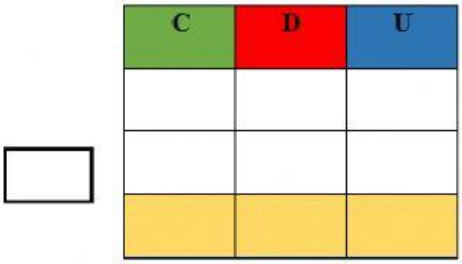	Le quedo ..... chocolates.

LIVEWORKSHEETS

3. Resuelve el siguiente problema de aplicación. (0,25 c/u) (1 pt.)

Marco tenía $863 dólares en su billetera, decide comprar ropa a su hijo Carlos. La factura de los gastos marca $753 dólares. ¿Cuánto dinero gastó Marco en la compra de la ropa?

DATOS	OPERACION	RESULTADO
Tenía $ ..... en su billetera. Gasto $	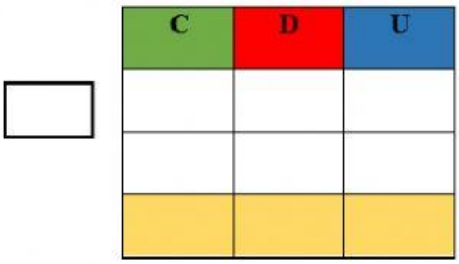	Gasto .....

4. Analiza y resuelve los siguientes ejercicios de aplicación. (0,50 c/u) (1 pt.)

Juan tiene una granja y recoge 120 huevos. Si Ana recogió el doble de huevos ¿Cuántos huevos recolecto Ana?



A) 220
B) 240
C) 320
D) 350

María tiene dos hijas y compró 48 caramelos, debe repartir por partes iguales a sus hijas ¿Cuántos caramelos le corresponde a cada una? ¿Cuál es su mitad?



A) 14
B) 16
C) 24
D) 30

LIVEWORKSHEETS

5. Lee con atención y arrastra la cantidad monetario adecuada que se plantea en el problema.

Pedro siempre ha soñado en comprar un carro de juguete. El precio del carro a control remoto es de $125 dólares. Ayudemos a construir la cantidad para cumplir el sueño de Pedro.





Observa los conjuntos de dinero y selecciona la cantidad que corresponde



A) un dólar con quince centavos
B) un dólar con setenta y cinco centavos
C) Dos dólares con quince centavos
D) Dos dólares con setenta y cinco centavos

6. Analiza y resuelve los ejercicios de aplicación. (0,50 c/u) (1 pt.)

Observa y relaciona cada tabla de multiplicar según la cantidad que corresponda.

9 X 8	**4 X 7**	**8 X 6**	**7 X 6**
28	**48**	**72**	**42**

Completa el siguiente cuadro con las tablas de multiplicar que corresponda:

9 x ☐ = 81

8 x 2= ☐

10 x 10= ☐

3 x ☐ = 18

4 x ☐ =28

☐ x 2 =10

5 x 5 = ☐

☐ x 6=12

LIVEWORKSHEETS

7. **Observa cada reloj y selecciona según la hora que marca. (0,50 c/u) (1 pt.)**



A) 1:00
B) 12:00
C) 12: 05
D) 12: 10



A) 6:48
B) 6:50
C) 9:30
D) 9:50



A) 6:29
B) 6:30
C) 7:30
D) 7:50



A) 6:00
B) 6:30
C) 7:30
D) 12:00

8. **Analiza la imagen y determina líneas rectas y curvas. (0,50 c/u) (1 pt.)**

- **Cuenta las líneas curvas y las líneas rectas y escribe el número de cada.**



Número de líneas rectas:	
Número de líneas curvas:	

9. **Analiza la imagen y determina los lados, vértices y ángulos. (0,25 c/u) (1 pt.)**

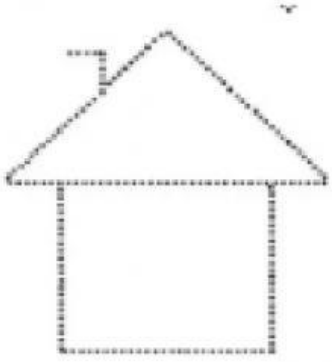

LIVEWORKSHEETS

- **Selecciona el número de vértices que corresponde a la imagen**

  A)7 B)8 C)9 D)10

- **Selecciona el número de lados que existen en la imagen**

  A) 5 B) 6 C)7 D)8

- **Escribe el número total de los ángulos que corresponden en la imagen:**

  .....

10. Observa la imagen y determina el contorno según la figura. (0,50 c/u) (1 pt.)

Micaela y Pedro tienen una tarea de educación física. Micaela debe descubrir cuántos pasos existe si recorre toda la cancha, pero Pedro debe averiguar cuántos pasos debe recorrer por el círculo central de la cancha.

Pasos de Micaela:

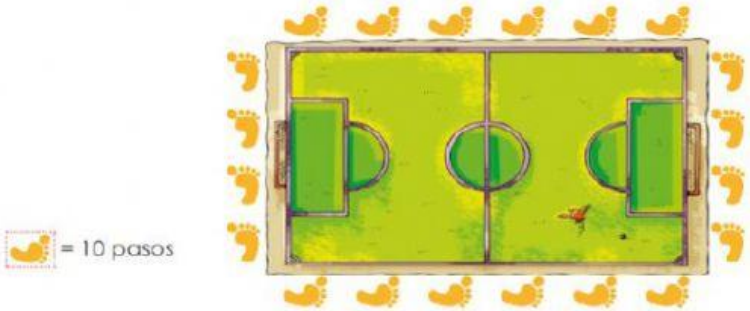

¿Cuántos pasos debe recorrer Micaela alrededor de la cancha?

A) 200 B)100 C)150 D) 300

Pasos de Pedro:



¿Cuántos pasos debe recorrer Carlos en el círculo del centro de la cancha?

A) 250 B)350 C)400 D) 450

LIVEWORKSHEETS

Elaborado por:	Revisado por:	Aprobado por:
 Lic. Silvia Muzo  Lic. Pamela Valencia	 Lic. Jessica Pazmiño Coordinador Curricular Área	Msc. Héctor Guatapi Vicerrector

LIVEWORKSHEETS