Unidad Educativa SAN FRANCISCO del Alvernia

EJERCICIO INDIVIDUAL DE REFLEXIÓN DE LOS APRENDIZAJES
2021 - 2022

DATOS INFORMATIVOS

Nombre: .....

Fecha: ..... Grado: 3ro "B"
Asignatura: Ciencias Naturales
Docente: Lic. Sylvia Muzo – Lic. Pamela Valencia

INSTRUCCIONES

La docente tutora detallará las indicaciones para el ejercicio de reflexión que a continuación presentamos.

"La Educación es un acto de amor es dar vida"
Papa Francisco

PREGUNTAS

1. **Observe e identifique partes del sistema osteomuscular y marque si son músculos, huesos o articulaciones.**

	MÚSCULOS	HUESOS	ARTICULACIONES
			
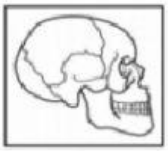			
			
			
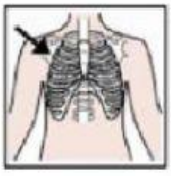			

LIVEWORKSHEETS

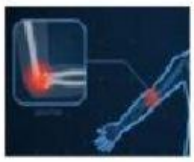			

2. **En los siguientes gráficos, selecciones una N si es materia de origen natural y una A si es artificial.**



3. **Observe y marque si las mezclas propuestas son homogéneas o heterogéneas.**

	Homogénea ☐ Heterogénea ☐		Homogénea ☐ Heterogénea ☐
	Homogénea ☐ Heterogénea ☐		Homogénea ☐ Heterogénea ☐
	Homogénea ☐ Heterogénea ☐		Homogénea ☐ Heterogénea ☐

4. **Observe las situaciones planteadas e identifique que tipo de separación de mezclas se está utilizando. Una con líneas.**



Evaporación	Separación manual	Filtración

LIVEWORKSHEETS

5. **Escriba 2 normas de higiene que aplica en su diario vivir.**

- .....
- .....

6. **Arrastre el ✓ si el enunciado es correcto y con X si los enunciados son incorrectos.**

X ✓ X ✓ X

La luna es el quinto satélite natural de la Tierra.	
La luna tiene dos movimientos: rotación y traslación.	
Los movimientos de rotación y traslación duran 33 días.	
La luna pertenece al Sistema Solar.	
La gravedad de la luna permite que se produzcan las mareas.	

7. **Una con líneas las fases de la luna con sus nombres correspondientes.**



Cuarto Creciente



Luna Nueva



Cuarto Menguante



Luna Llena

LIVEWORKSHEETS

8. **Observe y arrastre al rectángulo el circulo en el eclipse lunar y la X en el eclipse solar en la imagen propuesta.**



9. **Observe y una con líneas el nombre de las sombras que se producen según la posición de la luz.**

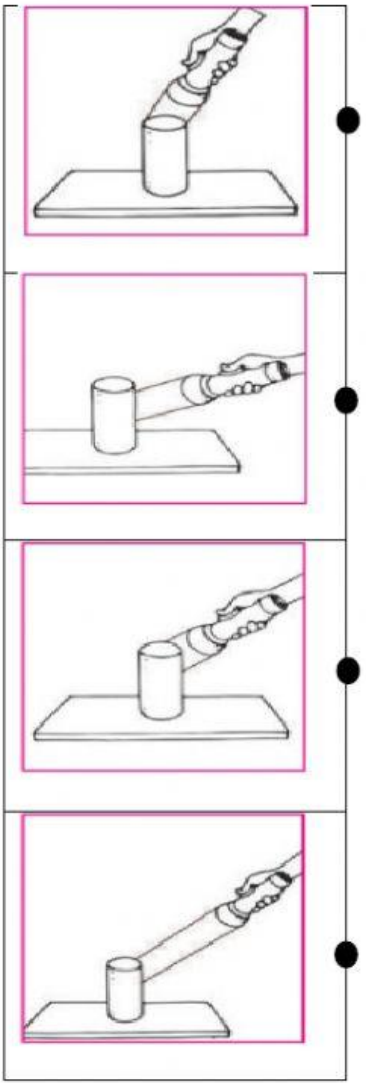

- Sombra grande
- Sombra pequeña
- Sombra corta
- Sombra larga

LIVEWORKSHEETS

10. Seleccione la imagen que representa a un instrumento observación astronómica y explique su utilidad.







Sirve para...

Elaborado por:	Revisado por:	Aprobado por:
Lic. Silvia Muzo Lic. Pamela Valencia	Lic. Jessica Pazmiño Coordinador Curricular Área	Msc. Héctor Guatapi Vicerrector

LIVEWORKSHEETS