ESCUELA NAVAL "BATALLA DE JAMBELÍ"

"CIENCIA HONOR Y LIBERTAD"

EVALUACIÓN DE MATEMÁTICA / SEGUNDO QUIMESTRE

NOMBRE:	CURSO:	FECHA:

1.-Escriba V si la respuesta es verdadera y F si es falsa.

a)Los términos de la multiplicación son sumandos y suma total.	
b)Restar es igual a quitar.	
c)Todo número multiplicado por 0 es igual a 0.	
d)Adición es igual a suma.	

2.- Unir con la respuesta correcta.

224 + 186=	447
241 + 248=	646
545 + 101=	410
247 + 200=	489

3.-Seleccione la respuesta correcta

El resultado de 985 – 502 es:

254 654 483

4.- Escriba las coordenadas correspondientes a cada gráfico del plano carteciano.

LIVEWORKSHEETS

5.- Escoja la respuesta correcta.

8 X 9 =		
54	12	72

6 X 6 =		
36	52	9

3 X 9 =		
27	65	32

6.-Seleccione la respuesta correcta. En un auditorio hay 7 filas de asientos, si cada fila tiene 123 asientos. ¿Cuántos asientos hay en total en el auditorio?

654	861	156

7.- Unir con la respuesta correcta.

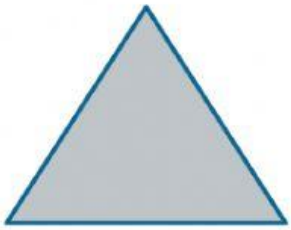

triángulo equilátero

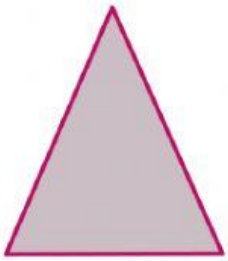

triángulo isósceles

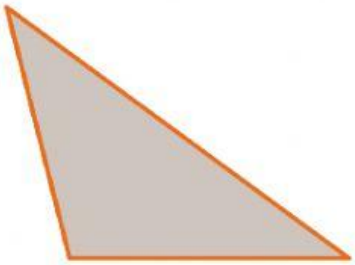

triángulo escaleno

a) Dos lados iguales	b)Todos sus lados diferentes	c)Todos sus lados iguales

8.- Señale la respuesta correcta.

Cuánto dinero observa:

a) 30 $ b) 65 $ c)10 $

a) 23 $ b) 56 $ c) 90 $

LIVEWORKSHEETS

9.- Unir con la respuesta correcta.

A) 10:10	**b) 13:30**	**c) 5:00**	**d) 20:00**

10.- Escriba V si las respuestas son verdaderas y F si son falsas.

La moneda oficial del Ecuador es el dólar.	
2 billetes de 20 = es igual a 40$.	
Un minuto equivale a 60 segundos.	
Un día tiene 48 horas.	

Lcda. Bethi Carlosama

Tutora

LIVEWORKSHEETS