MÈTODO DE RUFFINI

ÁREA: Matemática NOMBRE Y APELLIDO: .....

FECHA: / / GRADO: 3° SECCIÓN:

I. ESQUEMA:

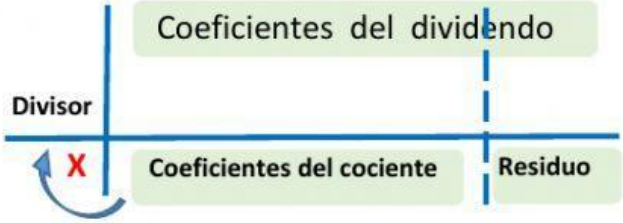

II. Ejercicios

1. Divide $D(x) = x^7 + 128$ entre $d(x) = x + 2$

   Ordenamos y completamos el polinomio dividendo.

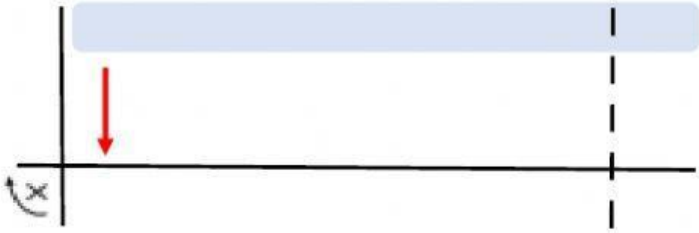

C(x) = – + – + – +

R(x) =

2. Divide el polinomio $P(x) = -4x + x^4 + 8x^2 - 5$ entre el polinomio $Q(x) = -3 + x$

   Ordenamos y completamos los polinomios.



C(x) = + + +

R(x) =

Docente: Ricardo Camarena Bullón

LIVEWORKSHEETS